同步作业类

二年级数学下 最新修订

主编 万志勇

黄冈小状元作业本

龍門書局 | 龙门品牌 · 学子至爱
www.longmenshuju.com

班级_____ 姓名_____ 学号_____

JS

三、认识方向

认识东、南、西、北（1）

基础训练

1. 填一填。

（1）

早晨迎着太阳，前面是（　　），后面是（　　），左面是（　　），右面是（　　）。

（2）龙一鸣坐在教室里，前面是西，后面是（　　），左面是（　　），右面是（　　）。

（3）晚上，面对北极星站立，后面是（　　），右面是（　　）。

（4）在右图中，依依面向东，苹苹面向（　　），壮壮面向北，淘淘面向（　　）。东与（　　）相对，南与（　　）相对。

（5）你的教室里黑板在（　　）面，门在（　　）面，（　　）面和（　　）面有窗户。

2. 看图回答问题。

（1）



我房间西面的墙上挂着年历，你知道我房间里的北面和东面各有什么吗？

（2）

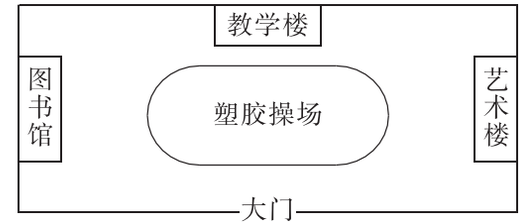

塑胶操场的东面是艺术楼，那么教学楼、图书馆、大门分别在塑胶操场的什么方向？

拓展运用

3. 下面这条鱼的鱼头向北，鱼尾朝南，请你移动 3 根火柴，使鱼头向南，鱼尾朝北。（请将你摆好的鱼画在方框里。）

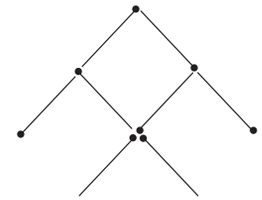

认识东、南、西、北（2）

基础训练

1. 填一填。

(1)地图或平面图通常按上北、下(　　)、左(　　)、右(　　)绘制。

(2)根据下列描述，完成示意图。

①学校的东面是医院，西面是超市。

②学校的北面是银行，南面是邮局。

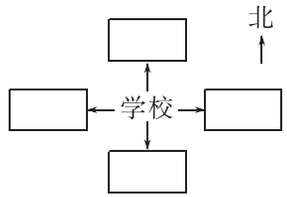

2. 看图填空。

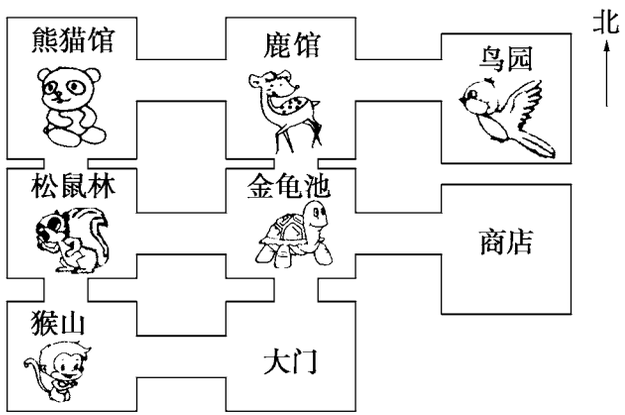

(1)松鼠林在金龟池的(　　)面，商店在金龟池的(　　)面。

(2)松鼠林在猴山的(　　)面，在熊猫馆的(　　)面。

(3)还可以怎样说？

3.

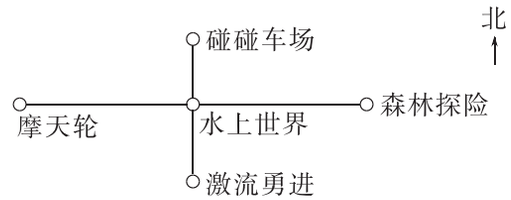

(1)从摩天轮出发，到森林探险应该怎样走？到碰碰车场、激流勇进呢？

(2)你还能提出什么问题？

4. 小小司机。

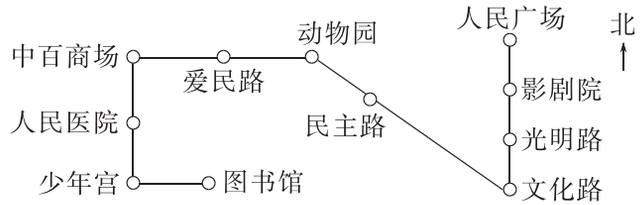

(1)从图书馆到少年宫是向(　　)走，从中百商场到动物园是向(　　)走。

(2)从人民广场到光明路是向(　　)走。

(3)从少年宫到动物园是先向(　　)走到中百商场，再向(　　)走到动物园。

(4)还可以怎么走？

拓展运用

5. 下面是某大楼的紧急疏散平面图(紧急疏散时不走电梯)。遇到紧急情况，各房间的人应该朝哪个方向走？

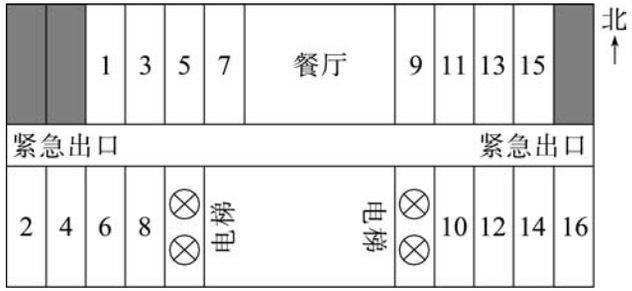

认识东北、西北、东南、西南

基础训练

1. 把方向板填完整。

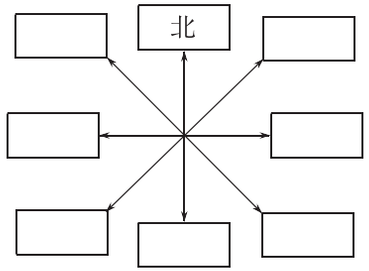

2. 看图填一填。

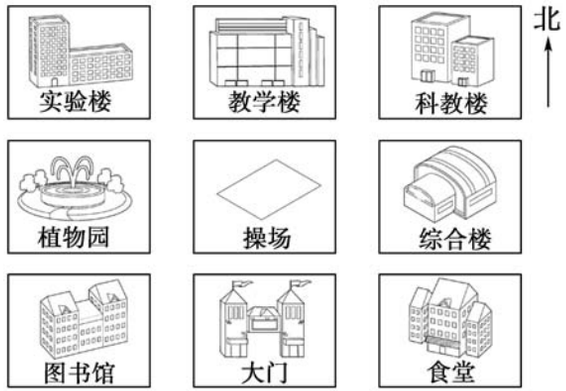

(1)实验楼在操场的(　　)面，科教楼在操场的(　　)面。

(2)图书馆在操场的(　　)面，食堂在操场的(　　)面。

3. 先指出每个小朋友的家在哪里，再填一填。

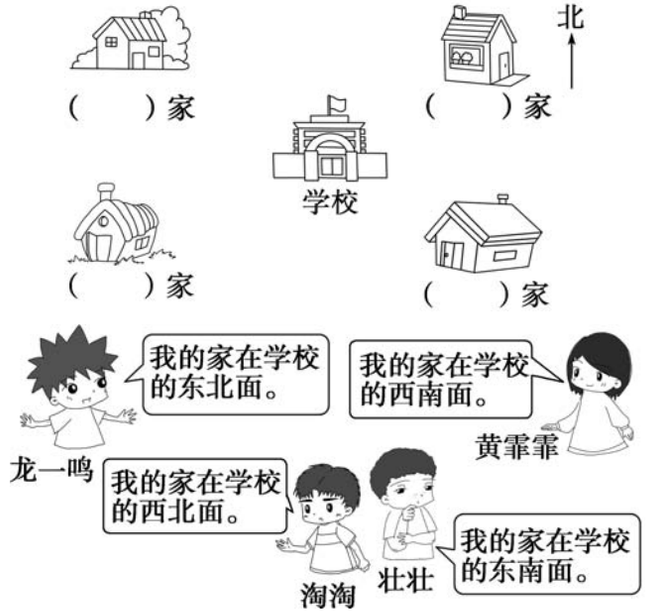

4. 下面是动物园的示意图。

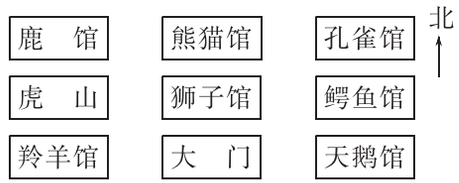

(1)大门在动物园的(　　)面。

(2)狮子馆的东北面是(　　)馆，西南面是(　　)馆。

(3)鹿馆在狮子馆的(　　)面。

(4)你还能提出什么问题？

5. 每枚棋子各跳到了什么地方？画一画。



拓展运用

6. 林林从家向北走两站就到了学校；方方从家先向西走一站，再向西南走两站就到了学校。请你在图上分别标出林林家和方方家的位置。

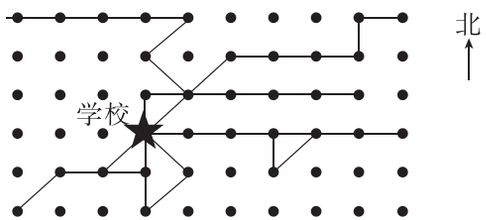

第三单元检测

1. 填一填。

(1)下午放学回家时，壮壮面向太阳，他后面是(　　)面，右面是(　　)面。

(2)苹苹上学向北走，她放学回家向(　　)走。

(3)东与(　　)相对，东北与(　　)相对。

(4)在北半球，树的年轮较密的向着(　　)面，较疏的向着(　　)面。

(5)北风是从(　　)方吹向(　　)方的风。

(6)将“东南、东北、西南、西北”填在适当的圈里。

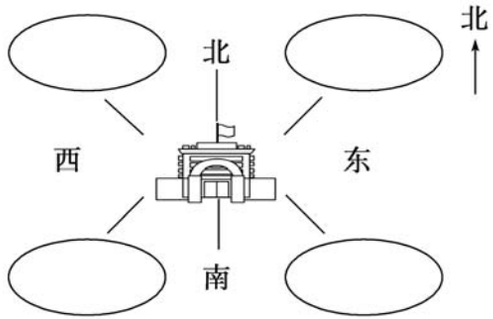

2. 判一判。(对的画“√”，错的画“×”)

(1)如果你面向太阳，你的后面就是西面。　(　　)

(2)如果你面向南面，你的后面一定是北面。　(　　)

(3)如果壮壮站在淘淘的东面，那么淘淘就在壮壮的西面。　(　　)

(4)依依去学校的路线是：从家出发，向东南走到书店，再向东北走到超市，再向南走到学校。　(　　)

3. 看图填一填。

(1)小动物的家分别在哪里？(请在□里写上它们的名字)

①小熊家的北面是小羊家，南面是小狗家。

②小熊家的东面是小猴家，西面是小松鼠家。

③小熊家的东北面是小猫家，西南面是小兔家。

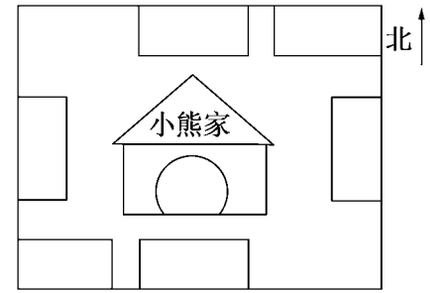

(2)在“____”上写上小朋友的名字。



(3)看图填一填。

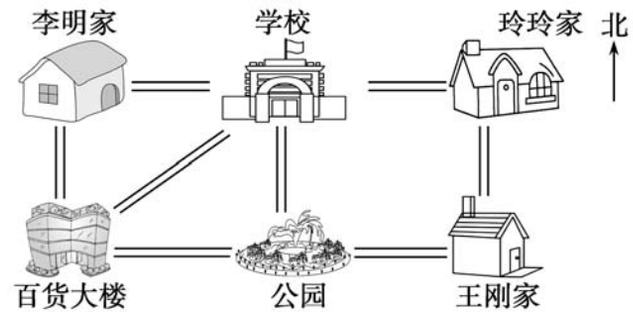

①王刚家在学校的(　　)面，李明家在学校的(　　)面，公园在学校的(　　)面。

②玲玲家在公园的(　　)面，公园在玲玲家的(　　)面。

③(　　)在(　　)的(　　)面，(　　)在(　　)的(　　)面。

4. 上学时，他们各要向哪个方向走？

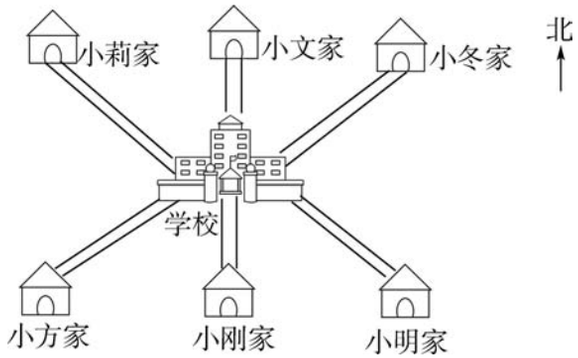

小莉向(　　)面走，
小文向(　　)面走，
小冬向(　　)面走，
小明向(　　)面走，
小刚向(　　)面走，
小方向(　　)面走。

5. 按要求画一画，填一填。

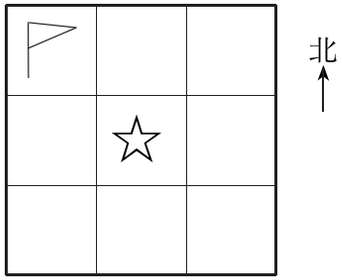

(1)在☆的东南面画△。

(2)在☆的西面画□。

(3)○画在☆的东北面。

(4)⚑在☆的(　　)面，☆在⚑的(　　)面。

6. 客人们要到学校来参观科技成果展，请你把科教楼的展厅平面图补充完整。

展厅的入口在东南面；出口在西南面；声光厅在花坛的东北面；操作室在花坛的西北面；成果展示厅在操作室的南面，休息室在花坛的南面。

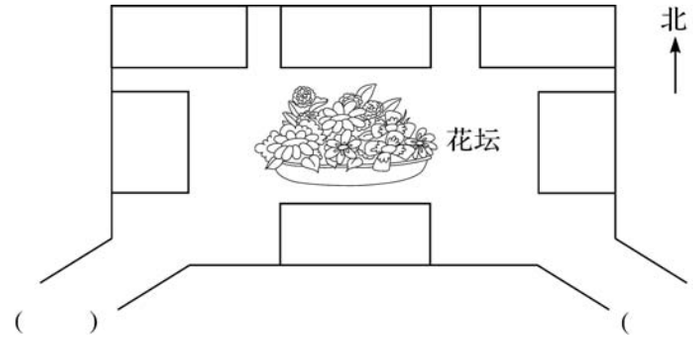

7. 小兔子和小山羊下棋，它们的棋子最后各跳到什么地方？请画出来。

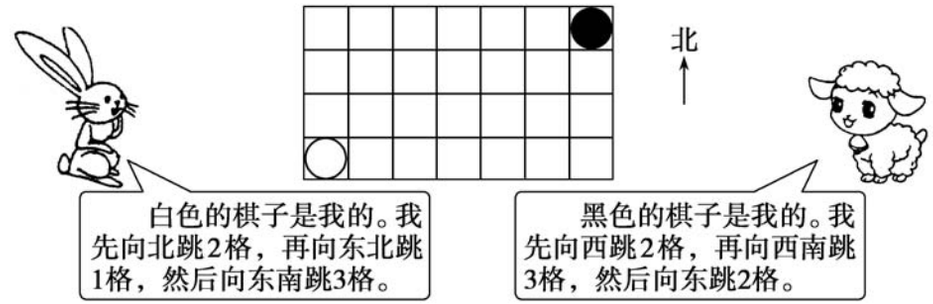

8.

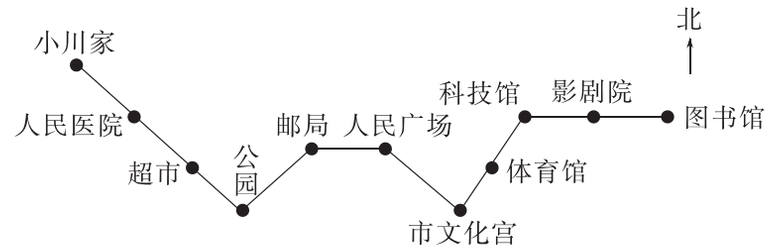

(1)从小川家到公园是向(　　)走，从图书馆到影剧院是向(　　)走，从科技馆到影剧院是向(　　)走，从邮局到公园是向(　　)走。

(2)从人民广场到(　　)是向东南走，从超市到(　　)是向西北走。从人民广场到(　　)是向西走，从公园到(　　)是向东北走。

参 考 答 案

一、有余数的除法

有余数的除法(1)

1. (1)3　3　15÷4=3……3
　(2)4　2　14÷3=4……2
2. (1)6　3　2　20÷6=3(盘)……2(个)
　(2)3　6　2　20÷3=6(个)……2(个)
3. 26÷8=3(束)……2(朵)
　26÷3=8(朵)……2(朵)
4. (1)4　2　4　2
　(2)36除以7等于5余1　5　1　(3)商　余
5. 3　2　17÷5=3……2
　3　3　18÷5=3……3
　3　4　19÷5=3……4
　4　0　20÷5=4　小
6. (1)8　(2)7

有余数的除法(2)

1. (1)4　(2)2　3

```
   4           2
2)8         5)13
  8           10
  0            3
```

2. (1)

```
             6 …(商)
(除)数…3)18
          18 …(3)×(6)的积
           0 …(18)-(18)的差
```

(2)

```
   6
5)33
  30 …(6)×(5)=30
   3 …(33)-(30)=3
```

3. 9　6　7　7
4. 竖式略　4……1　9……1　7……3　6……2
5. (1)4　(2)5　竖式略
6. (1)25÷6=4(块)……1(块)
　(2)30÷4=7(辆)……2(个)
7.

```
    [5]            [8]
7)[3][9]      [8])6  8
   3  5           [6][4]
      4               4
```

练习一(1)

1. 31÷4=7(个)……3(个)
　31÷7=4(盘)……3(个)
2. 5　7　7　7　竖式略
3. 竖式略　4……2　5……2　6　7……2
4. 略
5. (1)28÷5=5(件)……3(个)
　(2)20÷3=6(瓶)……2(瓶)
　(3)24÷5=4(张)……4(元)
　最多可以买4张车票。
6. 商:5　5　5　5　6　6　6　6
　余数:0　1　2　3　0　1　2　3
　0、1、2、3　0、1、2、3、4

练习一(2)

1. 略　2. (1)①　(2)③　(3)①
3. (1)26÷3=8(台)……2(片)　(2)不够。
4. (1)50÷8=6(盒)……2(个)　(2)6+1=7(个)
5. (1)35÷6=5(份)……5(元)
　(2)17÷5=3(份)……2(元)　最多可以买3份牛肉面。
　(3)1元=10角　10÷4=2(个)……2(角)
6. (1)17÷3=5……2
　(答案不唯一,但除数必须大于2)
　(2)24÷5=4……4
　(答案不唯一,但除数必须大于4)

第一单元检测

1. (1)22÷5=4(根)……2(根)
　　22÷4=5(把)……2(根)
　(2)20÷6=3(盘)……2(个)
　　20÷3=6(个)……2(个)
2. (1)①　(2)①　(3)③　(4)③　(5)①
3. (1)√　(2)×　(3)√　(4)√　(5)√　(6)×
4. 6　8　7　6　8　6　5. 略
6.

```
   9          6
7)64       8)50
  63         48
   1          2
```

7. 余数是2:①⑤⑥⑦　余数是3:③
　没有余数:②④⑧⑨
8. 25÷4=6(本)……1(本)　25÷5=5(本)
9. (1)32÷5=6(个)……2(张)　(2)不能(√)
10. 26÷7=3(辆)……5(只)　3+1=4(辆)
11. 15÷4=3(盒)……3(个)　4-3=1(个)
　可以装满3盒,再增加1个又可以装一盒。
12. 51÷9=5(次)……6(箱)
　6÷3=2(次)

二、时、分、秒

认识时、分

1. (1)时　分　(2)12　5　60
　(3)1　12　(4)1　5　60　(5)1　60
2. 5:00　7:00　12
3. 略
4. (1)2　(2)10　10　(3)12
　(4)6　(5)25　(6)60　1
5.

6. 8

认识几时几分

1. 7　45　7:45;2　20　2:20;4　40　4:40　小格
2.

3. 4　3　55;7　7　5;11　10　50
4. 苹苹
5.

认识秒

1. (1)秒　(2)秒　1　(3)1　60　(4)35　15
2. (1)秒　(2)时　(3)秒　(4)分
3. 8时30分24秒　10时20分8秒　4时零40秒　5时
4. <　>　>　=　>　<
5. 乐乐跑得最快,欢欢跑得最慢,最快的比最慢的快3秒。
6. 半分钟=30秒　30÷6=5(道)
7. 9×5=45(秒)

练习二

1. (1)时　分　秒　60　60　(2)1　5
　(3)1　60　1　(4)25　4　(5)3
2.

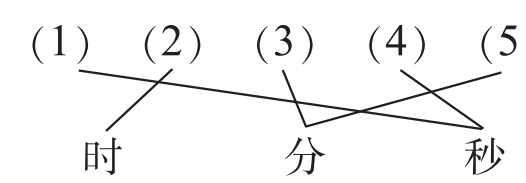

3. 6:55　9:10　4:35　8:05
4.



5.

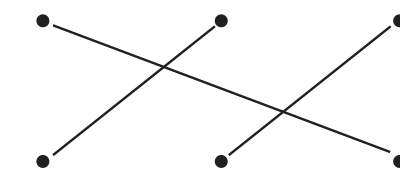

6.

第二辆	第三辆	第四辆
7:05	7:20	7:35

坐上第三辆车。

第二单元检测

1. (1)秒　秒　(2)秒　60　小时　12
　(3)9　45　(4)>　>　=　>　<　<
2. (1)①　②　(2)①　(3)①　3. 略
4. 8:15　6:00　9:45　3:05
5.

6. 9秒

三、认识方向

认识东、南、西、北(1)

1. (1)东　西　北　南　(2)东　南　北
　(3)南　东　(4)西　南　西　北　(5)略
2. (1)北面有窗户、写字桌等,东面有电脑等。(答案不唯一)
　(2)教学楼在塑胶操场的北面,图书馆在塑胶操场的西面,大门在塑胶操场的南面。
3.

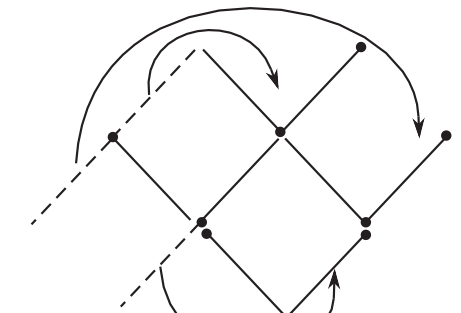

认识东、南、西、北(2)

1. (1)南　西　东　(2)

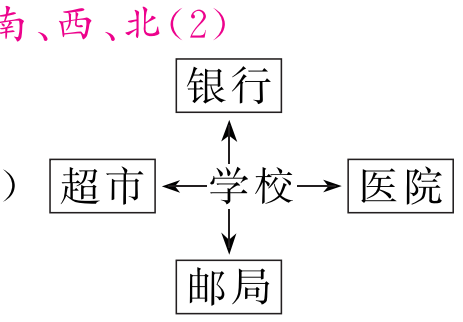

2. (1)西　东　(2)北　南　(3)略
3. (1)到森林探险向东走;到碰碰车场先向东走再向北走;到激流勇进先向东走再向南走。
　(2)略

4. (1)西　东　(2)南　(3)北　东　(4)略
5. 1、3、5、7、2、4、6、8 各房间的人朝西走，9、11、13、15、10、12、14、16 各房间的人朝东走。

认识东北、西北、东南、西南

1. 略　2. (1)西北　东北　(2)西南　东南
3. 淘淘　龙一鸣　黄霏霏　壮壮
4. (1)南　(2)孔雀　羚羊　(3)西北　(4)略
5.

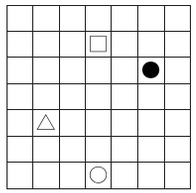

6.

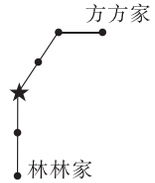

第三单元检测

1. (1)东　北　(2)南　(3)西　西南
(4)北　南　(5)北　南　(6)略
2. (1)×　(2)√　(3)√　(4)√
3. (1)略　(2)小芳　小明　小刚
(3)①东南　西　南　②东北　西南　③略
4. 东南　南　西南　西北　北　东北
5. (1)(2)(3)　6. 略　7.

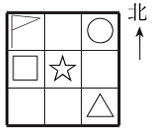

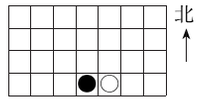

(4)西北　东南
8. (1)东南　西　东　西南
(2)市文化宫　人民医院　邮局　邮局

测定方向

1. (1)北　南　(2)西　东
(3)北　南　西　(4)东　西　北　2. 略
3. 乒乓球桌　大榕树　篮球架　双杠
凉亭　花坛　校门　滑梯
4.

⑤	④	⑧
⑦	③	②
①	⑨	⑥

四、认识万以内的数

千以内数的认识(1)

1. (1)一百　(2)一千
2. (1)①一百九十九　二百　二百零一　②九百九十六　九百九十七　九百九十八　一千
(2)九百七十　九百八十　九百九十　一千
3. (1)二百九十八　二百九十九　三百
(2)七百八十九　七百九十　七百九十一
(3)五百一十　五百一十一　五百一十二
4. (1)4　3　2　(2)1　4　3　143　(3)325
5. (1)百　十　一　(2)百　十
(3)百　一　(4)5　百
6. 500　104

千以内数的认识(2)

1. 100　300　400　600　800　1000　700　700
2. 324　340　405　500　502　362
3. (1)四百零五　(2)三百六十五　(3)八百八十
4. 395　870　906　1000　500
5.

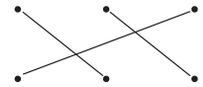

6. (1)200　210　(2)820　821　(3)420　425
(4)640　620　(5)400　399　(6)550　450
7. 646

用算盘表示数

1. (1)1　5　(2)十　百　千　(3)3　上　1　4
2. 略
3. (1)百　3　5　二百三十五
(2)5　4　十　五百四十
(3)6　百　7　一　六百零七　(4)7　百　七百
4. 150　506　60　5. 略　6. 999　千　下

练习三

1. (1)7　3　6　736　(2)4　百　5　一　405
2. (1)百　四　(2)500　10　(3)8　6　7
(4)609　610　611　612　(5)909
3. 505 和 495　4. 略
5. (1)①600　604　606　608　610　614
②545　636　727　818　909
③406　307　208　109
(2)200 粒　300 粒
6. 略　7. 258　285　528　582　825　852

万以内数的认识(1)

1. (1)七千　一万
(2)万　千　百　十　个　个　千　五
(3)4　3　8　1　(4)2350
2. 略　3. 2　3　5　6　2356
4. 4000　6000　10000　(1000)　(10000)
5. 2583　1980　4200
6. 2730　二千七百三十　8600　八千六百
7. (1)707　808　(2)4567　5678　6789
(3)7000　11000(答案不唯一)

万以内数的认识(2)

1. 7　2　6　7206　七千二百零六
4　8　4008　四千零八
2. 6000　7002　9080
3. (1)900　1000　(2)8000　10000
(3)千　百　(4)5008　(5)5080
4. 略　5. 略
6. (1)3999　4000　(2)5000　5100
(3)5090　5100　5110　(4)6500　7500
7. 略　8. (1)2800　8200　(2)2080　8020
2008　8002

万以内数的大小比较

1. (1)2640＞2604　(2)350＜3050
2. (1)四　三　多　大　(2)百　3952　小
3. ＞　＞　＞　＞　＞　＜　＞　＜
4. ③　②　5. 102 页
6. (1)桃　苹果　石榴　(2)略
7. (1)0、1、2、3、4、5、6　(2)1、2、3、4、5、6
(3)0、1、2、3、4、5、6、7、8、9

简单的近似数

1. (1)600　约等于 600 棵
(2)7000　约等于 7000 辆
(3)4000　约等于 4000 本
(4)200　约等于 200 枚
2. 3000　600　2000
3. 680　720　740　760　820　680、720、740
760、820
4. 略
5. (1)2000　2000　1000　3000
(2)1　2　(3)3100　2080　1992　1098
6. (1)8029　(2)2980　(3)8920　(4)9820
7. (1)0　(2)5　(3)0　(4)9

练习四(1)

1. (1)十　千　五　(2)四
(3)四　1　千　8　十　(4)7　70　千
(5)3650　(6)7070　千　十
(7)5005　五千零五　(8)9999　10000
2. 3764　三千七百六十四　6302　六千三百零二
9060　九千零六十
3. 略
4. 4000　200　60　7;3000　80　4;8090;6007
5. 略
6. (1)6805　6085　(2)6800　6080
(3)6008　608　7. 9980　1799

练习四(2)

1. 多　高　2. (1)②　(2)③　(3)②　①
3. ＜　＞　＞　＞　＜　＞
4. 略　5. 1980 棵　2005 棵　2050 棵
6. (1) 2930 棵　(2)冬瓜　茄子
7. (1)实验小学人数最多，时代小学人数最少。
(2)略　8. (1)7290　(2)9027　(3)9720

复习(1)

1. (1)3　4　7　8
(2)四　千　十　5　5　百　(3)3082
(4)9998　10000　(5)1999　2000　2001
2. (1)一千零五十八　(2)二千五百七十
(3)三千零八
3. 7300　7030　608　6008　4056　4506
4. 略　5. 略
6. (1)5000　4000　5000　7000
(2)假日宾馆　(3)如家宾馆
7. 5821 或 5942

复习(2)

1. (1)3999　4000　4001　4003　4004
3997＜3999(答案不唯一)
(2)7000　7010　7040　7050　7060
7030＞7010(答案不唯一)
(3)8950　9050　9150　9450　9550
8750＜8950　9450＞9250(答案不唯一)
2. ＜　＜　＞　＞　＞　＞
3. (1)1000　9999　(2)、(3)略(答案不唯一)
4. 7200 元＞6380 元＞5500 元＞5200 元＞4850 元
5. (1)3、4、5、6、7、8、9　(2)0、1、2、3　(3)8、9
6. (1)7000　9000　(2)6905　6955
(3)5500　6400
7. 小麦　玉米　稻谷
8. 18 个　3058＜3085＜3508＜3580＜3805＜3850＜5038＜5083＜5308＜5380＜5803＜5830＜8035＜8053＜8305＜8350＜8503＜8530

第四单元检测

1. (1)2　4　6　246　(2)千　百　十　一　1258
2. 9603　九千六百零三　5002　五千零二
1037　一千零三十七
3. (1)600　6000　(2)千　(3)2075
(4)千　7　十　3　十　(5)9000　900
(6)十位　万位　(7)40　2000　600　3
(8)9999　10000　1　(9)200　300
(10)①8000　10000　②442　551
③4500　4900
4. (1)√　(2)×　(3)×　(4)×　(5)√
5. (1)②　(2)③　(3)③　(4)②　(5)②　(6)②
6. 略　7. 10000＞9999　6606＜6660

8. < < < < > > 9. 略
10. 1187 人:龙门小学　1320 人:实验小学
11. (1)稻谷和玉米。　(2)大豆最多,小麦最少。
12. (1)9700　7009　(2)9070　9007　7090　7009
(3)9700　7900　(4)7009

五、分米和毫米

分米和毫米的认识

1. (1)分米　dm　10　(2)10　10　(3)毫米　mm
2. (1)②　(2)③　(3)②
3. 毫米　分米　分米　毫米　分米　米
4. (1)65　(2)33　5. 略　6. 略
7. A 瓶高 20 毫米,B 瓶高 21 毫米。
B 瓶比较高,高 1 毫米。

简单的单位换算

1. 50　80　50
2. 40　30　6　4　90　70　8　50　200　100
3. 一样高。　4. 略　5. 估计略　②　6. 略
7. =　<　<　>
8. 1 分米 5 厘米=15 厘米　15÷5=3(厘米)

练习五(1)

1. 分米　厘米　厘米　厘米　米　毫米
2. <　<　<　=　>　>
3. 30　6　7　40　500　800　1　100　300　200
4. (1)1 毫米　1 厘米　1 分米　1 米
(2)4 米　30 分米　400 毫米　30 厘米
5. 略　6. 亮亮　林林　7. 1 米 √
8. 米　分米　分米;
分米　厘米　厘米;
米　厘米　厘米(答案不唯一)

练习五(2)

1. 略　2. 10　10　100　100　5　8　4　120　30
3. 2000　4. 略
5. (1)5 厘米　(2)50 厘米　500 厘米
6. 32+40=72(厘米)　7. 2×5=10(分米)
8. 东面,离起点 90 米。

第五单元检测

1. (1)6　60　(2)45　(3)6　5　(4)33
2. 厘米　分米　米　厘米　毫米　毫米
3. (1)×　(2)√　(3)×　(4)√　(5)×
4. (1)③　(2)①　(3)②　(4)②　(5)②
5. 80　70　6　90　5　200
6. <　>　=　<　<　>　>　=
7. (1)760 分米　706 分米　670 分米　76 分米
(2)3 厘米　800 毫米　1 米　19 分米
8. 略　9. 略
10. (1)①90−50=40(毫米)
②90+200=290(毫米)
(2)6+4=10(厘米)　10 厘米=1 分米　够。
(3)1 米=100 厘米　100−80=20(厘米)
(4)40÷8=5　20+20+20+20+20=100
(毫米)=10(厘米)

六、两、三位数的加法和减法

两位数加两位数的口算

1. (1)57　50　3+4=7　50+7=57
(2)84　75　75+9=84
2. 略　3. 略
4. 82　79　80　一年级最多,二年级最少。
5. 略　6. (1)3　(2)3　(3)9　(4)0、1、2、3

两位数减两位数的口算

1. (1)41　40　6−5=1　40+1=41
(2)15　22　22−7=15
(3)56　6　80−30=50　50+6=56
2. 略　3. 略　4. 32　28　26
5. A 套餐:20−5=15(元)
B 套餐:50−37=13(元)
C 套餐:30−14=16(元)　C 套餐最贵。
6. (1)5　(2)3　(3)7　(4)2

两步计算的加减法实际问题

1. 45　58　70　86;66　45　40　28　2. 38
3. 去参加课外活动　又进来　又进来　去参加课外活动　去参加课外活动　原有　列式略
4. 33+38−55=16(个)　5. 130−80+70=120(袋)
6. 没有参加拔河比赛的:29+23−28=24(人)
没有参加接力赛的:29+23−16=36(人)
7. 少了　少 10 人

练习六(1)

1. 89　95　43　37　90　66　84　36
2. 略　3. 略　4. 略
5. (1)48−18+26=56(人)
(2)28+18=46(个)　54−46=8(个)
(3)32+29=61(人)　61 人>56 人　不能。
6. 43+35=78(米)

练习六(2)

1. 略　2. 略　3. 略
4. (1)80+60=140(米)
(2)300+300+300+300=1200(厘米)
5. 90　70　120
6. 800−500=300(米)　700+300=1000(米)
7. 50−36=14(年)　14+8=22(岁)
或 36−8=28(岁)　50−28=22(岁)

练习六(3)

1. 略　2. 略　3. 略
4. (1)百合:76+15=91(枝)　丁香:76−28=48(枝)
(2)600+200=800(棵)
600+800=1400(棵)　(3)略
5. 40−25=15(袋)
50−15=35(袋)　大米多,多 35 袋。

三位数加法的笔算(1)

1. (1)相同　个　10　1　(2)加数
2. 略　3. 略　4. 略　5. 258+136=394(元)
6.

```
  7 [2] 6          3 5 [2]
+ [2] 4 [7]      + 4 [7] 7
-----------      -----------
  9 7 3          [8] 2 9
```

三位数加法的笔算(2)

1. 400　500　400　500　900　900
竖式计算略　2. 略　3. 略　4. 略
5. 825+194=1019(棵)
6. 183+295=478(元)　500>478　够。

练习七(1)

1. 略　2. 略
3.

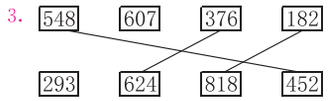

4. 286+114=400(本)　5. 378+69=447(人)
6. (1)437+256=693(个)　(2)693+65=758(个)
7.

```
  8 6 2
+   4 0
-------
  9 0 2
```

(答案不唯一)

练习七(2)

1. 略　2. 略　3. 略　4. 略
5. (1)86+124+242=452(人)
(2)估一估略　205+95=300(台)
(3)471+35=506(本)　471+506=977(本)
6. 78−13=65　736+65=801

三位数减法的笔算(1)

1. (1)相同　个　退 1　10　(2)差　减数　差
(3)176　13　6　15　8　7　3　2　1
2. 略　3. 略　4. 略　5. 略
6. 148−142=6(秒)　7. 456−172=284(箱)
8. 略

三位数减法的笔算(2)

1. (1)111　10　1　(2)107　12　7　9　0
2. 略
3. (1)

```
  7 0 1
− 4 1 9
-------
  2 8 2
```

(2)

```
  9 0 0
− 2 4 2
-------
  6 5 8
```

(3)

```
  8 0 3
− 7 6 7
-------
    3 6
```

4. 略　5. 500−87=413(人)
6. 397+108=505(张)　505>500 或 500−397=103(张)　108>103　不够。
7.

```
    6 [0] [6]
− [4] 8   7
-----------
  1 1 9
```

练习八(1)

1. 略　2. 略　3. 略
4. 电风扇:315−278=37(元)
吊灯:405−322=83(元)
取暖器:600−517=83(元)
5. 5 月 2 日:815−76=739(人)
5 月 3 日:739−28=711(人)
6. 364−178=186(棵)
苹果树和梨树相差 186 棵。

练习八(2)

1. 略　2. 略　3. 略　4. 略　5. 略
6. 605−216−198=191(份)
7. 206−146=60(米)
小兔跑的最多,小狗跑得最少,相差 60 米。

复习(1)

1. 略　2. 略　3. 略　4. 略
5. (1)326−85=241(元)　(2)326+241=567(元)
6. 623−356=267(米)　360+267=627(米)
627+356=983(米)
7. 549　165　384　240　64　176　906　387
519　被减　减　差

复习(2)

1. 略
2.

```
    6 [2]          [8] [1] [0]
+ 4 [7] 5        − 5 3 6
-----------      -----------
[5] 3 7            2 7 4

    6 0 [1]          7 [6] [2]
− 1 [0] 4        + 3 6 5
-----------      -----------
[4] 9 7          [1] [1] 2 7
```

3. 783−387=396
396+693=1089(答案不唯一)

4. 985－628＝357(个)　357－296＝61(个)
5. 384－126＋237＝495(人)
384＋237＝621(人)
6. 435＋254＋307＝996(千克)
341＋330＋329＝1000(千克)
按苹果、香蕉、梨一批；橘子、桃、菠萝一批安排比较合适。
7. 和最大：945＋229＝1174　差最大：945－79＝866

第六单元检测

1. (1)38　46　46－8＝38　8　60　30
30＋8＝38
(2)500　300　500＋300＝800　800
(3)①89　247　541　735　②242　700
2. (1)①　(2)②　(3)③　(4)①　(5)②　(6)③
3. 略　4. 略　5. 略　6. 385　249
7. ×　改：623＋179＝802　×　改：302－219＝83
×　改：600－276＝324
8. 365　272　68　206
9. (1)256＋392＝648(米)　(2)305－88＝217(块)
(3)208＋197＝405(人)　405＜406　能。
(4)依依：392＋205＝597(册)
苹苹：597－188＝409(册)
(5)335－268＋289＝356(枝)
(6)①306＋425＋368＝1099(元)　②略　③略

七、角的初步认识

角的初步认识

1. 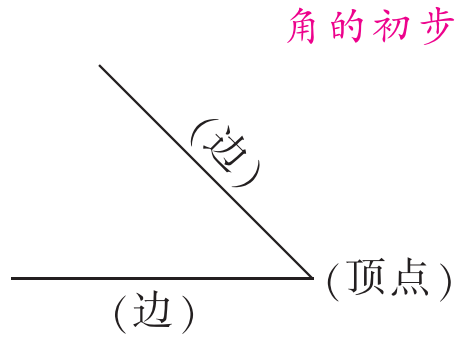

1　2
2. 略　3. 2　1　4　2　6
4. (√)　(　)　(○)
5. (1)大　小　(2)长短

直角、锐角、钝角的初步认识

1. (1)直　(2)直
2. (1)①　③　(2)①　②　(3)③
3. 画图略　3　9
4. 锐角：①③⑤⑨　直角：②⑧⑩　钝角：④⑥⑦
5. 标直角略
②③④这三个图形四个角都是直角。

6.
(答案不唯一)

练习九

1. 略　2. 略　3. 3　3；4　4；5　5；8　8
4. 锐　直　钝　直　③　①　②　④
5. 2　2；2　2；1　1
6. 3个锐角　1个直角和2个锐角　1个钝角和2个锐角　2
7. 3　16　8　8. 10　2

第七单元检测

1. 略
2. (1)3　直　2　1　(2)③　①　④　②
(3)大　小　(4)钝　锐　直
3. 提示：小鸡和小鸟说得对。
4. 3　1　5　4　2　8　2　3　5. 略
6. 锐角：②⑤⑦⑪　直角：①③⑥⑩
钝角：④⑧⑨⑫
7.

8. (1)3　2　1　(2)3　3　2

八、数据的收集和整理(一)

按不同标准分类

1.

大人	6人	男	4人
小孩	3人	女	5人

(答案不唯一)　不同　(1)大人多，女的多。
(2)略
2. 略　3. 略

简单数据的收集和整理

1. 提示：正方形：9个　长方形：4个　圆：5个
2. 记录略　正　3. 略
4. 东林：312毫米　吴塘：226毫米
312－226＝86(毫米)

练习十

1. 7　4　8　3
(1)男生多　(2)7－4＝3(人)　(3)略
2. 6　10　8　17　5　杨雪　3. 略

第八单元检测

1. 记录略
(1)三角形：13个　(2)白色：12个
正方形：12个　黑色：13个
圆：13个　灰色：13个
(3)略
2.

毛巾	正下	背心	正下
短裤	正丅	裙子	𠃊

8　8　7　4
(1)毛巾和背心最多，裙子最少。　(2)略
3. 记录略　10　9　8　(1)8人　(2)略
4. 10　11　17　8　(1)西红柿　(2)略

了解你的好朋友

1. 略　2. 略

九、期末复习

期末复习(1)

1. (1)943　304　(2)999　1000　1
(3)分　秒　时
(4)＞　＜　＞　＜　＝　＜　(5)1350＜5130
2. 5个百和4个一 —— 504
5个千和4个十 —— 5040
5个百和4个十 —— 540
5个千和4个一 —— 5004
5个千和4个百 —— 5400
3. 略
4. 16÷5＝3(束)……1(个)
16÷3＝5(个)……1(个)
5. 略
6. 育英小学：1500人　实验小学：3008人
(1)3008人＞2054人＞1962人＞1500人
(2)1962＋2054≈4000(人)
7. 30÷4＝7(辆)……2(个)
8. 30＋30－18＝42(个)
9. 2种走法，壮壮从家走到图书馆再到学校这条路近些。
①壮壮家→银行→学校　278＋304＝582(米)
②壮壮家→图书馆→学校　326＋224＝550(米)
10. (1)45＋35＋37＝117(枚)　(2)略
11. (1)290＋315＋350＝955(元)
(2)955＋75＝1030(元)　(3)略
12. 24个

期末复习(2)

1. (1)厘米　毫米　分米　米　毫米　厘米
(2)6　20　40　2
(3)＝　＞　＜　＞　＜　＞　(4)28　71
2. 5　1个锐角、2个钝角和2个直角
3. 略　4. 略
5. (1)、(2)略
(3) 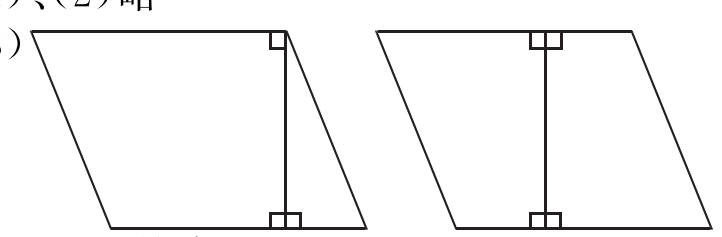
(答案不唯一)
6. (1)书店在淘淘家北面，在超市的西南面。
(2)学校在书店的西面，游乐场在书店的东南面，冷饮店在书店的西北面。　(3)略
7. 小明从学校出发，先向东南方向走到新华书店，再向东走到超市，然后向西南走到街心花园，最后向西走到家。
8. (1)

水果	11个	红色	7个
蔬菜	3个	黄色	7个

(2)水果多。　(3)两种颜色的食物一样多。
9. 略
10. 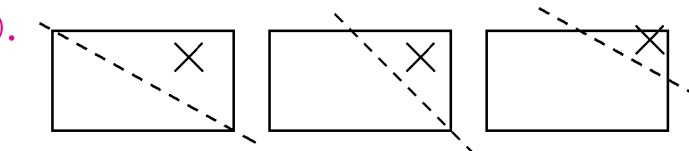

期末检测

1. (1)1　2
(2)千　百　一　2503　二千五百零三
(3)8050　(4)400　4000　(5)6　7
(6)400　900　3000　1000　(7)5　20　1
(8)＞　＝　＞　＜　＜　＞
(9)8　4　标记略　(10)东　北　南
2. 54÷6＝9(竖式：6)54，54，0)　76＋646＝722　400－207＝193
3. 7　500　160　900　380　600　83　46　7　850
4. 7……1　1122　9……6　759　128　891
220　495　验算略
5. (1)西南　(2)西　北　(3)南　西　西北　西南
6. (1)高压锅：195－178＝17(元)
电饭煲：305－288＝17(元)
微波炉：468－398＝70(元)
(2)178＋288＋398＝864(元)
864＞800　不够。
7. 235＋196－87＝344(人)
8. 40÷6＝6(个)……4(张)　最多可以做6个。
9. 308＋297＝605(箱)　890－605＝285(箱)
10. (1)188＋310≈500(元)　(2)略
11. 略