同步作业类

山东

二年级数学下

最新修订

主编 万志勇

黄冈小状元作业本

龍門書局 龙门品牌·学子至爱 www.longmenshuju.com

班级_____ 姓名_____ 学号_____

五四制

三、勤劳的小蜜蜂
——万以内的加减法（一）

第一课时　两位数加减两位数①

基础训练

1.

26＋41＝ 65＋32＝ 53＋16＝	58－24＝ 76－41＝ 95－62＝
44＋25＝ 69－17＝ 76＋22＝	35＋54＝ 34－23＝ 87－26＝

2. ＞、＝、＜飘向哪里？

34－23 ○ 23＋11

46＋23 ○ 26＋43

75－52 ○ 45－25

3. 踢毽子。

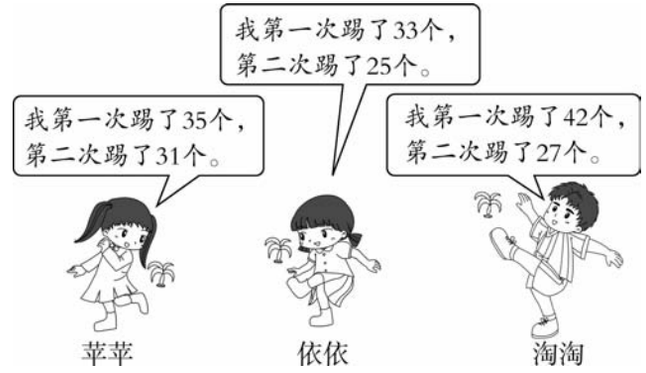

谁踢的个数最多？

4.

大猴比小猴多吃了多少颗花生？

5. 买套餐。

(1)B 套餐比 A 套餐贵多少元？

□ ○ □ ＝□(元)

(2)你还能提出什么问题？

趣味作业

6. 依依和淘淘比赛摆算式，他们每人都有下面这样的四张卡片，规定谁摆出的算式结果大，谁赢。



依依摆出的算式：

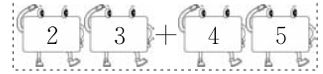

淘淘摆出的算式：

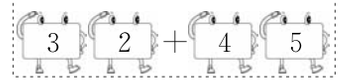

(1)(　　)赢了比赛。

(2)如何摆放卡片，依依一定不会输给淘淘？填一填。

□□＋□□

第二课时　两位数加减两位数②

基础训练

1. 算一算。

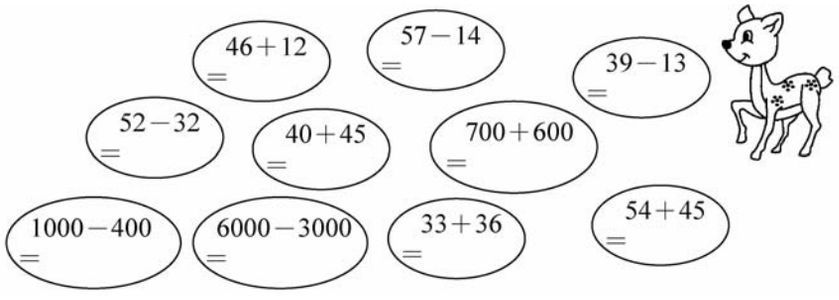

2. 在□里填上合适的数。

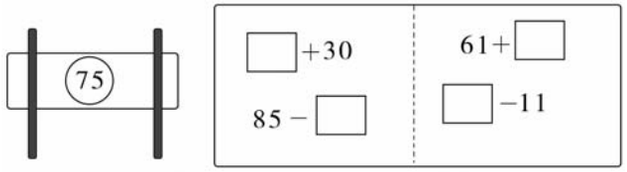

3. 蜜蜂采蜜。（连一连）

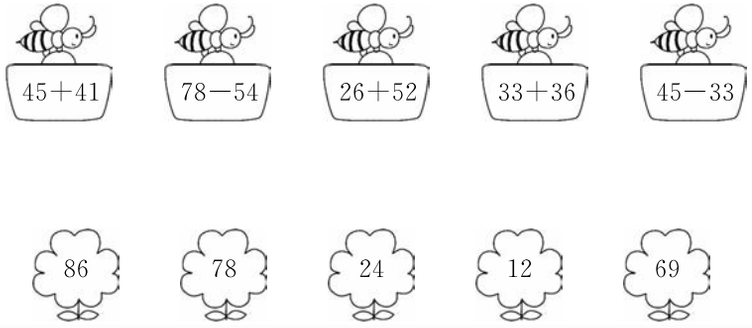

4. 两人的爸爸一共收藏了多少枚纪念币？

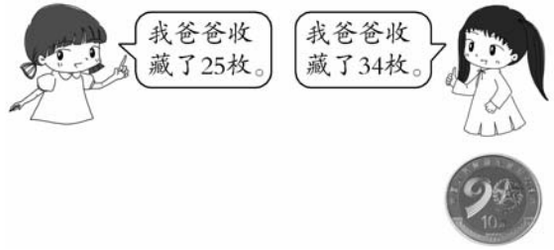

5. 书包比彩笔贵多少元钱？

拓展运用

6. 把 100、200、300、500、600、700 填入下图中的◯内，使每条线上 3 个数的和都是 1200。（每个数只用一次）

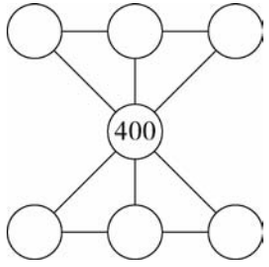

第三课时　三位数加减两、三位数①

基础训练

1.

3 2 0 ＋ 1 5 0 □□□	6 8 0 － 2 5 0 □□□



2.

5 4 3 ＋ 3 0 5	3 8 ＋ 6 2 0
4 8 7 － 1 2 5	9 2 0 － 7 1 0
7 9 3 － 6 3	2 1 4 ＋ 5 7 2

3. 在○填上“>”“<”或“=”。

36＋102 ○ 110＋36

30＋127 ○ 56＋102

430＋150 ○ 960－150

720－120 ○ 360＋130

470＋120 ○ 690－110

4. 收萝卜。

(1)小白兔和小黑兔一共收了多少个萝卜？

(2)小灰兔比小白兔少收了多少个萝卜？

5. 某风景区 10 月 1 日～4 日坐缆车人数情况统计如下表。

日期	10 月 1 日	10 月 2 日	10 月 3 日	10 月 4 日
人数	434	405	312	341

(1)10 月 3 日和 4 日一共有多少人坐缆车？

(2)10 月 1 日坐缆车的人比 10 月 3 日多多少人？

(3)你还能提出什么问题？

拓展运用

6. ○里藏着几？

6○5 ＋ ○8 ＝ 998

9○8 － 4 ＝ ○26

第四课时　三位数加减两、三位数②

基础训练

1. 用竖式计算。

431＋528＝　　43＋335＝

593－371＝　　788－54＝

2. 估一估，算一算。

(1)97＋302≈□

读作：_____

97接近（　），302接近（　）。

□＋□＝□

(2)485＋203≈□

读作：_____

485接近（　），203接近（　）。

□＋□＝□

3.



电扇 305元　吸尘器 594元　录音机 282元　座机 98元

(1)王叔叔想买一台电扇和一台录音机，一共需要多少元？

(2)估一估，买一台吸尘器和一台电扇，大约需要几百元？

(3)刘阿姨带了 400 元，买了两种电器后，还剩一些钱。你知道买的是哪两种吗？

4.

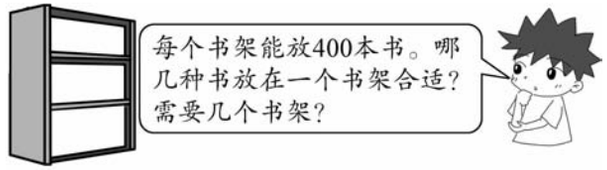

童话书	196 本
作文书	184 本
科技书	202 本
漫画书	170 本

拓展运用

5. 实验小学三、四、五年级的学生参加秋游活动，学校准备了 600 顶帽子，请你估一估够吗？

三年级	203 人
四年级	282 人
五年级	194 人

第五课时　三位数加减三位数（不连续进位、退位）①

基础训练

1. 算一算，填一填。

(1)496＋193＝□

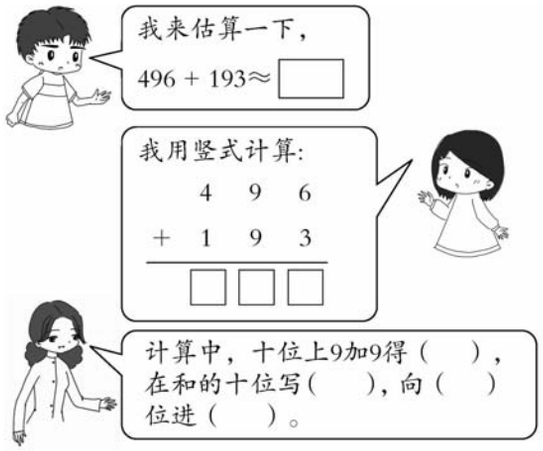

(2)634－142＝□

①估一估：634－142≈□

②
$$\begin{array}{r} \dot{6}\ 3\ 4 \\ -\ 1\ 4\ 2 \\ \hline \square\square\square \end{array}$$

③十位上“3”减“4”不够，要向（　　）位借（　　）当（　　）。

2. 用竖式计算。

433＋158＝　　624＋208＝

569－195＝　　880－435＝

3. 下面的计算对吗？对的画“√”，错的画“×”，并改正。

(1)
$$\begin{array}{r} 7\ 5\ 6 \\ -\ 2\ 8\ 3 \\ \hline 5\ 3\ 3 \end{array}$$
（　　）

改正：

(2)
$$\begin{array}{r} 3\ 4\ 8 \\ +\ 6\ 3\ 2 \\ \hline 9\ 7\ 0 \end{array}$$
（　　）

改正：

4.

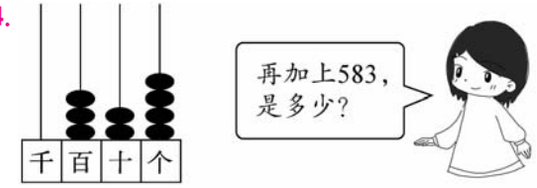

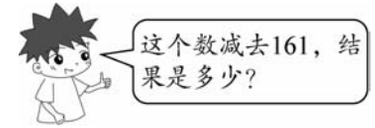

5.

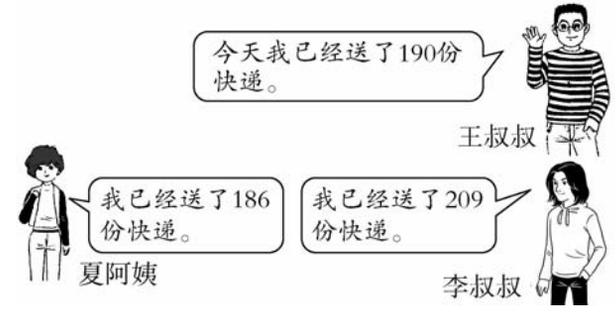

你能提出什么问题？

拓展运用

6. 在 里填上合适的数。

$$\begin{array}{r} 7\ \square \\ +\ \square\ 4 \\ \hline 9\ 7\ 3 \end{array} \qquad \begin{array}{r} 6\ \square \\ -\ 2\ 1 \\ \hline \square\ 9\ 4 \end{array}$$

第六课时　三位数加减三位数（不连续进位、退位）②

基础训练

1. 用竖式计算。

118＋316＝　　263＋485＝

592－254＝　　325－163＝

2. 下面各题计算结果接近 600 的有(　　)。

将算式的序号填在括号里。

①188＋495　　②683－92

③456＋143　　④397＋208

⑤859－150　　⑥786－170

3. 下面的计算对吗？对的画“√”，错的画“×”，并改正。

(1)
$$\begin{array}{r} 308 \\ +\ 57 \\ \hline 878 \end{array}$$
改正：(　　)＿＿＿＿

(2)
$$\begin{array}{r} 152 \\ +\ 367 \\ \hline 419 \end{array}$$
改正：(　　)＿＿＿＿

(3)
$$\begin{array}{r} 656 \\ -\ 274 \\ \hline 482 \end{array}$$
改正：(　　)＿＿＿＿

4. 运水果。

	昨天	今天
苹果	293 筐	385 筐

(1)昨天和今天一共运了多少筐苹果？（先估一估，再计算）

(2)今天比昨天多运多少筐苹果？

5. 下图是刘爷爷家养殖场鸡、鸭、鹅的只数统计情况。

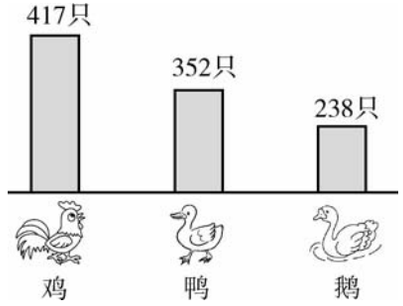

(1)鹅比鸭少多少只？

(2)根据算式提出问题。

提问：＿＿＿＿＿＿＿＿＿＿

417＋238＝655(只)

拓展运用

6. 淘淘家距街心公园 316 米，他领着一只小狗从家出发去街心公园遛狗，小狗跑到离家 240 米时，发现淘淘落在后面，就返身往回跑，遇到淘淘时，淘淘走到了离家 126 米处。之后小狗又转身跑向街心公园。当小狗跑到街心公园时，小狗一共跑了多少米？

【数学晨读】加法验算时可以用交换加数的位置再算一遍，看结果是否不变；也可以用和减其中一个加数，看结果是否等于另一个加数。

第七课时　加减法的验算

基础训练

1. 先用竖式计算，再验算。

402－161＝　　647＋233＝

706＋186＝　　705－94＝

2. 下面的计算对吗？对的画“√”，错的画“×”，并改正。

(1)
$$\begin{array}{r} 276 \\ +\ 417 \\ \hline 683 \end{array}$$
(　　)　改正：_____

(2)
$$\begin{array}{r} 405 \\ -\ 182 \\ \hline 323 \end{array}$$
(　　)　改正：_____

3. 填表。

加数	127		230
加数	349	316	
和		508	750

被减数	810	431	
减数	260		175
差		204	617

4.

上午运进	192千克
下午运进	64千克
卖出	128千克

一共运进	704千克
卖出	640千克

(1)一共运进多少千克苹果？

(2)西瓜比苹果多卖出多少千克？

(3)你还能提出什么问题？解答后与同伴交流一下。

拓展运用

5. 苹苹做一道加法题，她把第二个加数460看成了640，结果算出的和是800。



第三单元强化突破

易错与巩固

1. 填一填。

(1)计算 530＋320，想(　　)个十加(　　)个十等于(　　)个十，结果是(　　)。

(2)估计 499＋302 的和接近几百时，这样想：499 接近(　　)，302 接近(　　)，(　　)＋(　　)＝(　　)，所以 499＋302≈(　　)。

(3)最小的三位数与最大的三位数相差(　　)。

(4)86 比 42 多(　　)，160 比 390 少(　　)。

(5)在◯里填上“＞”“＜”或“＝”。

50＋23◯70　　21◯96－85

300＋700◯1010

3000◯9000－6000

(6)下面各数分别最接近几百几十？

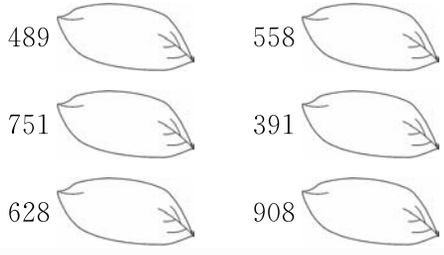

2. 选一选。(将正确答案的序号填在括号里)

(1)343＋247 的十位上的数字是(　　)。

①8　　②9　　③0

(2)验算 247－62＝185，错误的算式是(　　)。

①62＋185　　②247－185　　③247＋185

(3)下面各题计算结果接近 700 的是(　　)。

①189＋203　　②918－215　　③762－158

(4)下面竖式计算中错误的是(　　)。

①
$$\begin{array}{r} 623 \\ +169 \\ \hline 782 \end{array}$$
②
$$\begin{array}{r} 53 \\ +420 \\ \hline 473 \end{array}$$
③
$$\begin{array}{r} 707 \\ -543 \\ \hline 164 \end{array}$$

3. 算一算。

(1)口算。

26＋42＝	37－24＝	40＋57＝
65－30＝	82＋16＝	95－21＝
400＋70＝	230＋60＝	
900－500＝	8000－5000＝	
1000－200＝	600＋700＝	

(2)用竖式计算，带“☆”的题要验算。

322＋507＝　　☆628－75＝

☆287＋451＝　　900－560＝

☆863－635＝　　243＋664＝

4. 下面的计算对吗？对的画“√”，错的画“×”，并改正。

(1)
$$\begin{array}{r} 46 \\ +223 \\ \hline 683 \end{array}$$
改正：(　　)

(2)
$$\begin{array}{r} 627 \\ -345 \\ \hline 322 \end{array}$$
改正：(　　)

(3)
$$\begin{array}{r} 256 \\ +427 \\ \hline 673 \end{array}$$
改正：(　　)

5.

加数	413	165	
加数		205	360
和	652		780

被减数	588		809
减数	76	363	
差		227	418

生活与运用

6. 花丛里有一群蜻蜓和蝴蝶。

(1)蜻蜓和蝴蝶一共有多少只？

(2)蝴蝶比蜻蜓少多少只？

7.

上衣	裤子	鞋	裙子
每件 318 元	每条 285 元	每双 98 元	每条 168 元

(1)买一件上衣和一条裙子，共需要多少元？（先估一估，再计算）

(2)估一估，买一条裤子和一双鞋，大约需要几百元？

(3)妈妈带了 300 元钱，买了两种商品后，还剩一些钱。你知道买的是哪两种吗？

8. 红星厂的工人们要去报告厅听讲座。



一车间	197 人
二车间	208 人
三车间	235 人
四车间	210 人

哪几个车间安排在一起合适？需要安排几场？

9.

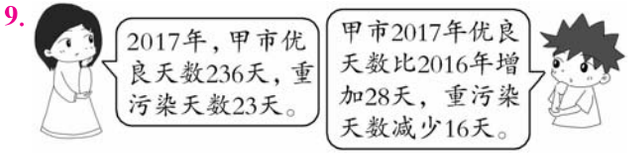

(1)2016 年甲市优良天数有多少天？

(2)你能提出一个数学问题并解答吗？

参考答案

一、游览北京——万以内数的认识

第一课时

1. (1)4　3　2　432
   (2)1　4　140
2. (1)421　四百二十一
   (2)370　三百七十
   (3)402　四百零二
   (4)500　五百
3. (1)二百九十八　二百九十九　三百　(2)九百七十　九百八十　九百九十　一千
   (3)九百　八百　七百　五百
4. (1)455　462　476　489
   (2)461　463　488　490
   (3)450　460　470　480
   (4)400　500
5. 答案不唯一，如：385，283，296。

第二课时

1. (1)100　300　400　600　800　1000　(2)4　7　9　(3)8　2
   (4)10　100　1000　(5)1　5
2. (1)468　(2)970　(3)一百五十二　(4)二百零八
3. 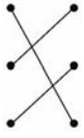
4. 212　121
5. (1)③　(2)③　(3)②　(4)②　(5)③
6. 提示：200　110　101　600　510　501　550　505　105　150

第三课时

1. 2　3　4　8　二千三百四十八
   画珠子略　2348
2. (1)九千九百九十三　九千九百九十四　九千九百九十五　九千九百九十六　九千九百九十七　九千九百九十八　九千九百九十九　一万
   (2)九千　九千零一十　九千零二十　九千零三十　九千零四十　九千零五十　九千零六十　九千零七十
   (3)九千四百　九千五百　九千六百　九千七百　九千八百　九千九百　一万
3. (1)六千四百零五　(2)八千九百
   (3)一千零七十
4. (1)6000　(2)7002　(3)9080
5. 三千零三　三千零三十　三千三百
6. 6933

第四课时

1. (1)10000　一万　10
   (2)个　千　五
   (3)千　四千六百零四　4　千　4　一
   (4)100　1000　500
2. 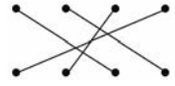
3. (1)②　(2)③　(3)③　(4)①　(5)③　(6)②
4. 3000　7000　1020　1002　1600　(答案不唯一)
5. (1)2080　2008　8002　8020
   (2)2800　8200

第五课时

1. 画图略　400　200
2. (1)②　(2)①　(3)②
3. (1)6566 √
   (2)可能比 1000 大也可能比 1000 小 √
4. (1)998　1003　(2)802　799
   (3)2895　3106　3009
5. (1)4002　(2)2004

第六课时

1. (1)<　②号家具贵。
   (2)2100<3205　②号家具便宜。
2. 3250　5005　5005　3250
3. √ 3468
4.

420 节	100 节	400 节	450 节	750 节
依依	龙一鸣		壮壮	

5. 0～3　0～6　7～9　3～9

第七课时

1. 900　5000　150　2900
   1000　1200　250　2100
   670　900　7000　7500
2. 得数是 500：700－200　1300－800　420＋80
   得数是 1500：1000＋500　700＋800　1900－400
   得数是 2400：3300－900　400＋2000　2700－300
3. 800　1400　900
   3200　2300　3000
   400　4400　3600
4. (1)600＋700＝1300(棵)
   (2)700－600＝100(棵)
5. 画图略，两种情况分别是：
   ①1500＋900＝2400(米)
   ②1500－900＝600(米)

第八课时

1. 640　1200　700　8000
2. (1)120－80＝40(本)
   (2)200＋120＝320(本)
   (3)略
3. (1)800＋500＝1300(袋)
   (2)800－600＝200(袋)
   (3)略
4. (1)2800＋3100＝5900(人)
   (2)2500－1400＝1100(人)
   (3)略
5. 2 米＝200 厘米
   200－40＝160(厘米)
   160－80＝80(厘米)

第九课时

1. 30　6　180
2. 400　600
3. 450
4. 120
5. 120
6. 90　65　32　30　26　42　5　8　340　2000　450　3400

7. 9999　8999 和 9001

第一单元强化突破

1. (1)2005　二千零五
5063　五千零六十三
(2)8740　千
(3)千　千　十　8　十
(4)9000　500
(5)9999　10000　1
(6)①9980　3000　②4005　③4005
(7)30　(8)200　300
2. (1)×　(2)√　(3)×　(4)×
(5)√
3. 500　4000　800　9000
4. 30　110　1000　8000　6000
1200　3700　800　290　5400
5. 700　400　1100
6. (1)①　(2)②　(3)③　(4)③
(5)②
7. ＜　＜　＞　＜
8. 90
9. 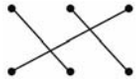
10. (1)200＋500＝700(箱)
(2)500－200＝300(箱)
11. (1)1500＋2000＝3500(个)
(2)2400－1300＝1100(个)
(3)二(5)班比二(3)班少收集多少个废饮料瓶？(答案不唯一)
(4)略

二、甜甜的梦——毫米、分米、千米的认识

第一课时

1. (1)65　(2)33
2. (1)②　(2)③　(3)②
3. 毫米　分米　分米　毫米　分米　米
4. 略
5. 略
6. A 瓶高 20 毫米，B 瓶高 21 毫米
B 瓶比较高，高 1 毫米。

第二课时

1. 分米　米　厘米　3(答案不唯一)
2. 
3. 40　8　30　4　20　7
4. ＝　＜　＞　＜　＜
5. (1)3　(2)90　9　(3)20　2
6. 1 分米 5 厘米＝15 厘米
15÷5＝3(厘米)
7. 5×3＝15(厘米)
15 厘米－5 毫米－5 毫米＝14 厘米

第三课时

1. (1)千米　米　分米　厘米　毫米
千米
(2)公里　km
(3)1　2000　3　3000　4　4000
2. 千米　米　千米　米
3. 5000　80　4　7
3　50　9　6000
4. ＞　＝　＜　＞　＜　＝
5. (1)④　(2)②　(3)①
6. 米　厘米　厘米　毫米　米　千米
米　千米

第二单元强化突破

1. (1)70　(2)10　1　(3)毫米　厘米
(4)千米　(5)毫米　千米　米
2. 8000　4　60　7　50　8　20　4
100　10
3. √　√　×　×
4. ＝　＞　＜　＜　＜　＝　＝　＞
5. 6　2　90　9　30　3　300
6. 1 毫米　1 厘米　1 分米　1 米
1 千米；2 千米　4 米　30 分米
400 毫米　30 厘米
7. (1)②　(2)④
8. 4　2　3　3
9. 100　800

智慧广场

1. 4 种
2. 6 种
3. 8 种
4. 12 种
5. 6 条
6. 6 种，分别是孙行者，孙者行，行孙者，行者孙，者孙行，者行孙。

三、勤劳的小蜜蜂——万以内的加减法(一)

第一课时

1. 67　97　69　34　35　33
69　52　98　89　11　61
2. ＜　＝　＞
3. 苹苹：35＋31＝66(个)
依依：33＋25＝58(个)
淘淘：42＋27＝69(个)
69＞66＞58
淘淘踢的个数最多。
4. 46－33＝13(颗)
5. (1)45－34＝11　(2)略
6. (1)淘淘
(2)提示：52＋43 或 53＋42

第二课时

1. 58　43　26　20　85　1300　600
3000　69　99
2. 45　10；14　86
3. 略
4. 25＋34＝59(枚)
5. 46－24＝22(元)
6. 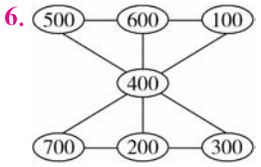

(答案不唯一)

第三课时

1. 470　430　相同数位
2. 848　658　362　210　730　786
3. ＜　＜　＜　＞　＞
4. (1)357＋202＝559(个)
(2)357－315＝42(个)
5. (1)312＋341＝653(人)
(2)434－312＝122(人)
(3)略
6. 提示：
$$\begin{array}{r} 615 \\ +\,383 \\ \hline 998 \end{array} \qquad \begin{array}{r} 968 \\ -\,\ 42 \\ \hline 926 \end{array}$$

第四课时

1. 959　378　222　734

2. (1)400　97 加 302 约等于 400
100　300　100　300　400
(2)700　485 加 203 约等于 700
500　200　500　200　700

3. (1)305＋282＝587(元)
(2)594＋305≈900(元)
(3)282＋98≈400(元)
买的是录音机和座机。

4. 196＋184≈400(本)
童话书和作文书放在一个书架。
202＋170≈400(本)
科技书和漫画书放在一个书架。
(书的摆放答案不唯一)
需要 2 个书架。

5. 203＋282＋194≈700(人)
600＜700　不够。

第五课时

1. (1)689　700　6　8　9　18　8
百　1
(2)492　①500　②4　9　2
③百　1　10

2. 591　832　374　445

3. (1)×
$$\begin{array}{r}756\\-283\\\hline 473\end{array}$$
(2)×
$$\begin{array}{r}348\\+632\\\hline 980\end{array}$$

4. 324＋583＝907
324－161＝163

5. 答案不唯一，如：夏阿姨和李叔叔一共送了多少份快递？
186＋209＝395(份)

6. 提示：
$$\begin{array}{r}726\\+247\\\hline 973\end{array}\qquad\begin{array}{r}606\\-212\\\hline 394\end{array}$$

第六课时

1. 434　748　338　162

2. ②③④⑥

3. (1)×
$$\begin{array}{r}308\\+\ 57\\\hline 365\end{array}$$
(2)×
$$\begin{array}{r}152\\+367\\\hline 519\end{array}$$
(3)×
$$\begin{array}{r}656\\-274\\\hline 382\end{array}$$

4. (1)293＋385≈700(筐)
293＋385＝678(筐)
(2)385－293＝92(筐)

5. (1)352－238＝114(只)
(2)鸡和鹅一共多少只？

6. 240－126＝114(米)
316＋114＋114＝544(米)

第七课时

1. 241　880　892　611　验算略

2. (1)×
$$\begin{array}{r}276\\+417\\\hline 693\end{array}$$
(2)×
$$\begin{array}{r}405\\-182\\\hline 223\end{array}$$

3. 从左往右：
476　192　520；550　227　792

4. (1)192＋64＝256(千克)
(2)640－128＝512(千克)
(3)略

5. 800－640＋460＝620
或 640－460＝180
800－180＝620

第三单元强化突破

1. (1)53　32　85　850
(2)500　300　500　300　800　800
(3)899　(4)44　230
(5)＞　＞　＜　＝
(6)490　560　750　390　630
910

2. (1)②　(2)③　(3)②　(4)①

3. (1)68　13　97　35　98　74　470
290　400　3000　800　1300
(2)829　553　738　340　228
907　验算略

4. (1)×
$$\begin{array}{r}46\\+223\\\hline 269\end{array}$$
(2)×
$$\begin{array}{r}627\\-345\\\hline 282\end{array}$$
(3)×
$$\begin{array}{r}256\\+427\\\hline 683\end{array}$$

5. 从左往右：
239　370　420；512　590　391

6. (1)180＋69＝249(只)
(2)180－69＝111(只)

7. (1)318＋168≈500(元)
318＋168＝486(元)
(2)285＋98≈400(元)
(3)98＋168≈300(元)
买的是一双鞋和一条裙子。

8. 197＋235＝432(人)
一车间和三车间安排在一起。
208＋210＝418(人)
二车间和四车间安排在一起。
需要安排 2 场。

9. (1)236－28＝208(天)
(2)2016 年甲市重污染天气有多少天？
23＋16＝39(天)(答案不唯一)

四、爱心行动——图形与拼组

第一课时

1. 正　长　四　八　七

2. 略(提示：标长、宽、边长)

3. (1)①　(2)③

4. (1)长方
(2)2　长方　4　正方　8　三角

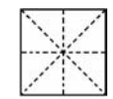

5. (1)4　2　(2)2　4

6. 6　6

第二课时

1. (1)③　(2)①

2. 3　5　5　4　3

3. 略

4. (1)1　2　3　(2)A　B　C
(3) 　举例略

5. ③　⑦　三角形
④　⑤　⑥　平行四边形
④　②　①　⑤　⑥　正方形

6. 房子　帆船　鹅
(答案不唯一，合理即可)

五、田园小卫士——万以内的加减法(二)

第一课时

1. (1)824　8　10　1
   (2)177　1　前　1
2. 701　604　342　165　278　379
3. (1)×
$$\begin{array}{r} 396 \\ +\ 205 \\ \hline 601 \end{array}$$
(2)×
$$\begin{array}{r} 316 \\ -\ 297 \\ \hline 19 \end{array}$$
(3)×
$$\begin{array}{r} 435 \\ -\ 158 \\ \hline 277 \end{array}$$
4. (1)325－186＝139(元)
   (2)略　(3)略
5. 158＋158＝316(米)

第二课时

1. 734　168　132　662　验算略
2.
3. 810　48;857　483
4. (1)走依依家→学校→图书馆这条路最近。
   (2)略
5. (1)384－126＝258(个)
   258＋237＝495(个)
   (2)这个网店当天一共接了多少个订单?
6. $\begin{array}{r} \boxed{9}2\boxed{2} \\ -\,5\boxed{5}8 \\ \hline 364 \end{array}$　$\begin{array}{r} 6\boxed{4}\boxed{7} \\ +\,\boxed{2}78 \\ \hline 925 \end{array}$

第三课时

1. (1)179　2　9　1　7　十　百
   (2)237　4　9　2　3　验算略
2. 256　239　58　78　469　533
3. 800－645＝155(米)
4. 300－268＝32(元)
5. (1)602－553＝49(个)
   (2)800－602＝198(个)
6. 414　1　414
   421　799　799　420　420　421

第四课时

1. 138　208　28　668
2. (1)×
$$\begin{array}{r} 1000 \\ -\ 497 \\ \hline 503 \end{array}$$
(2)√
(3)×
$$\begin{array}{r} 408 \\ -\ 389 \\ \hline 19 \end{array}$$
3. 从左往右:
   273　347　712;
   308　203　400
4. 比600小的朋友:203＋298　712－297　598－197　813－404
   比700大的朋友:298＋497　900－127　187＋714　407＋312
5. 答案不唯一,如:二(1)班比二(2)班多捐了多少元?
   605－457＝148(元)
6. $\begin{array}{r} 1000 \\ -\ \boxed{2}\boxed{4}\boxed{1} \\ \hline \boxed{7}\boxed{5}\boxed{9} \end{array}$
   (答案不唯一)

第五课时

1. (1)239＋42＝281(人)
   (2)345－29＝316(本)
2. 299　309　277　933
3. 黄菊花:170－26＝144(盆)
   紫菊花:170＋42＝212(盆)
4. (1)108－19＝89(个)
   (2)淘淘小组做了多少个?
   108＋17＝125(个)　(答案不唯一)
5. 16＋16＝32(张)

第六课时

1. 324　487
2. (1)400－202＝198(个)
   (2)305＋126＝431(朵)
3. 214＋48＝262(本)
4. (1)468＋132＝600(米)
   (2)略
5. (1)西红柿有多少个?
   (2)茄子有多少个?
6. 362＋157＝519
   (提示:在一道减法算式中,被减数比差大362,说明减数就是362,被减数比减数大157,说明差就是157,减数加差就等于被减数。)

第七课时

1. 120　40　下午
   120－40＋120＝200(棵)
$$\begin{array}{r} 120 \\ -\ 40 \\ \hline 80 \end{array}\quad \begin{array}{r} 80 \\ +\ 120 \\ \hline 200 \end{array}\quad \begin{array}{r} 120 \\ -\ 40 \\ \hline 80 \\ +\ 120 \\ \hline 200 \end{array}$$
   200
2. (1)280－60＋280＝500(朵)
   (2)400－120＋400＝680(只)
3. 810　360　610　494　243　11
4. 30－20＝10　7－1＝6
   158＋10－6＝162
   (提示:多减要加,少减要减。)

第八课时

1. 657　400　839　665　360　420
2. 456－36＋456＝876(张)
3. 200－25＋15＝190(米)
4. 325＋126－89＝362(只)
5. $\begin{array}{r} \boxed{4}0\boxed{0} \\ -\,2\boxed{5}8 \\ \hline 142 \end{array}\quad \begin{array}{r} 17\boxed{6} \\ +\,\boxed{3}34 \\ \hline 5\boxed{1}0 \end{array}$
$\begin{array}{r} +\ \boxed{7}7 \\ \hline \boxed{2}1\boxed{9} \end{array}\quad \begin{array}{r} -\,\boxed{1}8\boxed{3} \\ \hline 327 \end{array}$

回顾整理

1. 66　34　40　360　500　3000　380　500
2. 769　684　378　292　443　337　验算略
3. 312－98＝214(片)
4. 208＋186－139＝255(片)
5. (1)650－492＝158(个)
   (2)316－245＝71(个)　(3)略
6. 450－168＝282(棵)
   282＋39＝321(棵)

综合练习①

1. 920　354　580　464　330　427
2. 274　413　265
3. 234＋78＝312(张)
   312＞300　不够。
4. 480－200＝280(个)
5. 18－12＝6(分米)

长是 12 分米，宽是 6 分米。

6. 小兔：189＋147＋164＝500
小猴：709－492＋283＝500
小鹿：920－535＋115＝500
小狗：600－350＋250＝500

综合练习②

1. ＞　＜　＞　＝

2. (1)800－360－290＝150(元)
(2)略

3. ①买一个布娃娃和一辆小汽车，还剩 350－70－140＝140(元)
②买一个布娃娃和一架飞机，还剩 350－70－180＝100(元)
③买一辆小汽车和一架飞机，还剩 350－140－180＝30(元)
(答案不唯一)

4. (1)138＋88＝226(厘米)
(2)略

5. 549　165　384　240　64　176
906　387　519　被减　减　差

第四、五单元强化突破

1. (1)59　22　78　40；
630　80　150　880
(2)115　448　505　405　614　823
验算略
(3)357　340　216　998　479　498

2. 比 500 大：349＋226　720－112
106＋438　900－361　864－243
比 400 小：619－303　525－239

3. (1)×　$\begin{array}{r} 325 \\ +\ 175 \\ \hline 500 \end{array}$　(2)×　$\begin{array}{r} 306 \\ -\ 178 \\ \hline 128 \end{array}$

4. 8　5　4

5. 50　330　191　591

6. (1)220－162＝58(人)
(2)162＋149＝311(人)

7. 421－35＋421＝807(本)

8. 605－216－198＝191(份)

9. 依依家：392＋205＝597(册)
苹苹家：597－188＝409(册)

10. 210＋130＝340(张)
340＞320　买 B 和 C 合适。
105＋158＝263(元)
263＞250　不够。

11. 203＋380＝583(米)
依依从家经过淘淘家到学校这条路最近，要走 583 米。

六、动物趣闻——克、千克、吨的认识

第一课时

1. 克　克　千克　千克　千克　千克

2. 500 克　4kg　450g

3. 克　千克　克　千克

4. (1)100g　10　(2)250g　4
(3)1kg　3kg

5. ＝　＞　＜　＜　＜　＞　＞　＜

6. (1)绵羊最重，蜜蜂最轻。
(2)120－8＝112(g)　(3)略

7. 98－92＝6(克)　6÷2＝3(克)

第二课时

1. (1)20　50　40
(2)＞　＞　＜　＜

2. (1)×　(2)×　(3)√　(4)×

3. (1)②　(2)③　(3)③

4. 克　千克　千米　吨

5. (1)苹果和葡萄；草莓、菠萝和梨；梨和西瓜。
(2)600＋200＋500＋300＋700＋400＝2700(千克)
3 吨＝3000 千克　2700 千克＜3 吨
能一次运走。

6. (1)答案不唯一，如：买 4 千克 9 元的和 3 千克特价的，需要 9×4＋3×5＝51(元)。
(2)略　(3)略

7. 4000＋1000＋1000＋1000＋1000＋1000＝9000(千克)
9000 千克＝9 吨　9 吨＞8 吨
不能安全通过，因为超重了。

第六单元强化突破

1. (1)克　g　千克　kg
(2)吨　t　1000
(3)①克　千克　克　克　千克　克
②千克　千米　吨　千米　千克　千米
(4)10　20
(5)900　100(前两空答案不唯一)
3　500　800

2. (1)×　(2)√　(3)×　(4)×
(5)×

3. (1)③　(2)③　(3)①　(4)②
(5)②　(6)①

4. ＜　＞　＜　＜　＞　＞　＜　＝
＞　＞

5. (1)1 吨　40 千克　30 千克　500 克
(2)7000 克　63 千克　2 吨　2300 千克

6. 略

7. 16÷8＝2(元)

8. (1)1＋3×3＝10(元)　(2)略

奇妙的动物世界

1. 略

2. 略

七、快乐大课间——两位数乘一位数

第一课时

1. 56　560　20　200　一位数　积

2. 320　180　120　480　300　150
280　100

3. 400　540

4. ＞　＞　＝　＜　＞　＜

5. 1　3　4　5　6　8　9　10
一　三　四　五　六　八　九　十

6. 90　4　150　6　210

7. (1)30×5＝150(块)
(2)20×8＝160(块)
160 块＞150 块　不够。

8. 80

第二课时

1. (1)48　2　4　8　10　4　40
(2)69　60　9　60　9　69

2. 28　39　66　96　48　68
66　84　84　82　100　270

3. 82　55　69　48

4. 21×4＝84(棵)

5. (1)买两个书包需要多少元？
(2)100－43×2＝14(元)　(3)略

6. 37　47

第三课时

1. 45　10　3　15　30

2. 74　248　128　87

3. (1)×　27
　　×　3
　　81

(2)×　3
　　×25
　　75

(3)×　24
　　×　2
　　48

4. 16×2=32(个)

5. (1)72　90　96　85

(2)第二小组捡到多少个?

(3)72+90+96+85=343(个)

6. (7)+(4)-(9)×(5)=(10)
上　面　死　花　拿

(8)÷(8)×(1)+(8)=(9)
下　方　生　门　稳

第四课时

1. 43　51　29　38　个　前一

2. 174　222　516　342　140　476

3. (1)×　65　　(2)×　85
　　×　7　　×　3
　　455　　255

4. =　>　>　<　>　>

5. 64×8=512(人)

6. 25×7=175(页)　175 页>150 页
能看完。

7. (1)23×5=115(棵)　(2)略

8. 两位数:1 或 2　三位数:3~9

第五课时

1. (1)足球个数的 2 倍是多少
27×2=54(个)
篮球有多少个
54+9=63(个)

(2)足球个数的 2 倍是多少
27×2=54(个)
篮球有多少个
54-9=45(个)

2. 39×3+8=125(人)

3. 98×2-6=190(元)

4. 13×5-11=54(人)

5. 购买土豆多少千克
25×3-8=67(千克)
(答案不唯一)

6. (1)45×3-17=118(张)　(2)略

7. 80÷(3+1)=20(千克)
甲:20+10=30(千克)
乙:80-30=50(千克)

第七单元强化突破

1. (1)50　40　60　60　60　4　50　9

(2)=　=　>　<　>　=　=　<

2. 630　70　441　240　48　104
210　84　180　90　180　810

3. 88　200　768　120　413　210

4. (1)24×5　7×18　3×43　60×5

(2)72×8　65×8　45×8　27×8

5. (1)①　(2)③　(3)③　(4)③
(5)③

6. 略

7. 11×5+7=62(岁)

8. 47×4=188(元)

9. 21×7=147(套)

10. 28×3+10=94(支)

11. 32×3-5=91(道)

12. (1)82×4=328(千米)
328 千米<412 千米　不能。

(2)283-82×2=119(千米)

(3)略

智慧广场

1. 相同　3　8　8　8　2　8

2. (1)2　3　(2)7

3.
6[2]8	[4]9
+　7[4]	+[1]5[5]
7 0 2	2 0 4
8 0[6]	4[4]0
-[4]3 9	-[3]6 8
3 6 7	7[2]

4.
6	1	5
	4	
3	7	2

5. 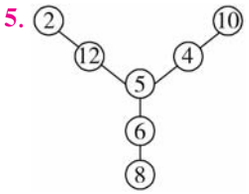

(答案不唯一)

6. 9　5

7. 5　2　9

八、富饶的大海——三位数乘一位数

第一课时

1. 21　210　2100;40　400　4000;
54　540　5400;0　整十、整百
几个 0

2. 800　1500　270　210　1500
2000　4200　1800　7200　3600
3000　4000

3. 略

4. 200×8=1600(克)

5. 500×8=4000(克)
4000 克=4 千克

6. 200×3=600(本)

7. 大米比面粉的 5 倍少 200 千克

8. 500　400　800

第二课时

1. 396　488　464　844　相同　对齐　个

2. 636　846　628　936

3. =　>　<　=　>　<

4. (1)1600　2000　2400
(2)222　110

5. (1)112×3=336(元)
(2)略

6. (1)4 只山羊重多少千克。
(2)123×2+19=265(千克)

7. 提示:
　　121　　223
　　×　3　　×　3
　　363　　669

第三课时

1. 630　1246　672　575
个　十　前一　几

2. 651　655　1268　470　竖式略

3. <　>　=　<

4. 315×3=945(千克)

5. 1000-115×6=310(元)

6. (118-1)×5=585(米)

第四课时

1. 142　131　137

对齐　个　前一位

2. 1476　1095　4620
1104　3766　1792

3. (1)×　123 × 4 = 492　(2)×　235 × 5 = 1175

4. 118×7=826(人)

5. 190×5=950(元)
165×5=825(元)
187×5=935(元)
825 元<900 元
选择“爱书乐”品牌的书柜。

6. 7992　8991

第五课时

1. 2436　2115　1636　1806

2. 2135　2040　5445　1236

3. (1)×　203 × 4 = 812　(2)×　306 × 3 = 918

4. 109×9=981(千克)
981 千克<1 吨　能。

5. 105×3−18=297(元)

6. 504×(5+1)=3024(元)

7. 703　5　3515

第六课时

1. 1500　2400　4000　2400　7200
1600　3000　800　3500　3200
8100　400

2. 1120　2600　1540　2170

3. (1)×　309 × 3 = 927　(2)×　380 × 5 = 1900

4. 850×8=6800(千克)
300×8=2400(千克)

5. 290×4=1160(只)

6. (1)506×2=1012
(2)560×2=1120
(3)650×2=1300
(答案均不唯一)

第七课时

1. 270　3500　4000　4800　600
900　百

2. 女孩√

3. (1)320　3200;39　390;96　960
发现:整十、整百数乘一位数,先用整十、整百数 0 前面的数与一位数相乘算出积,再看整十、整百数的末尾有几个 0,就在积的末尾添加几个 0。
(2)32000　39000　9600

4. 49×6≈300(人)
300<302　不够。

5. 212×4≈800(页)

6. 舒心旅行社:98×(6÷2)=294(元)
晓晨旅行社:128×(6÷3)=256(元)
龙一鸣一家选择舒心旅行社要花 294 元,选择晓晨旅行社要花 256 元。所以选择晓晨旅行社比较实惠。

7. 119×3×2≈720(元)

综合练习①

1. 40　6　150　66　48　2100　120
4000　3200　65　1200　2800
1600　270　5600

2. 306×8　530×3　6×680

3. >　=　>　<　=　>　<　<

4. 274　948　1006　2800　248
1200

5. 98×8≈800(元)　够。

6. 207×4=828(个)

7. 3　5;3　6;3　7;3　8;3　9

综合练习②

1. (1)×　324 × 3 = 972　(2)×　108 × 5 = 540
(3)×　320 × 6 = 1920

2. >　<　<　<　>　=　<　<

3. (1)626−130×4=106(人)
(2)180×4×2=1440(米)

4. (1)205×3=615(元)
(2)119×2=238(元)
(3)火车 10 小时行:205×10=2050(千米)
2050 千米>1800 千米
可以选择火车。
汽车 10 小时行:87×10=870(千米)
900+460=1360(千米)
870 千米<1360 千米
不能选择汽车。

第八单元强化突破

1. (1)0　原数　(2)1700　800
(3)2100　(4)四　(5)5
(6)300×8　400×6(答案不唯一)

2. (1)3500　3000　2700　600　606
1200
(2)2400　500　5400　7200　2500
4000
(3)2576　3100　1824　536　2322
2004

3. 

4. (1)×　(2)×　(3)√　(4)×　(5)×

5. >　<　<　>　<　=　>

6. (1)②　(2)③　(3)①　(4)①　(5)③

7. 250×8=2000(元)

8. 206×8=1648(元)
1648 元<2000 元　够。

9. 584×3+42=1794(元)

10. (1)308×6=1848(元)
(2)买 2 辆电动自行车多少元?
(3)略

九、我是体育小明星
——数据的收集与整理(一)

第一课时

1. (1)12　2　4　5　1
①英语听力　英语口语　②2
(2)12　6　2　4
①一等　二等　②4

2. 结果　(1)10　5　2　3
(2)10　2　5　3

3. 980　980　337　980　67

第二课时

1. (1)14　16　10　正　△　正　相同

(2)王小兵　王小兵

2. (1)13　9　6　(2)略

3. (1)略　(2)小

第九单元强化突破

1. 24　69　36　1100　5　32　91　5000　500　8　6　9　5400　8　7000　21

(1)16　5　3　4　4

(2)16　5　6　1　4

2. (1)正下　8

正　4

正一　6

正一　6

(2)排　足　篮　羽毛

3. (1)18　11　13　7

(2)略　面包　鸡蛋

漂亮的花朵

1. (1)8　下

5　正

6　正

(2)8　3;5　4;6　5　12

涂一涂略

2. (1)14　6　8　(2)14　5　3　2　4

十、奥运在我心中——总复习

回顾整理

1. (1)一千九百九十九　9个百　9个一

(2)2068　2　6　8

(3)520+172=692(元)

692+520=1212(元)

(4)520　692　798　1999　2068

(5)180−85=95(厘米)

2. 456+47=503(箱)

3. 32×3−69=27(千克)

4. (1)350+470=820(个)

(2)某场电影票价为9元

9×820=7380(元)(答案不唯一)

5. 分法一：

①③⑤⑥　②④⑦⑧

分法二：

①④⑥　②⑤⑦　③⑧

(答案不唯一)

综合练习①

1.



2. (1)2008　二千零八

(2)504　五百零四

(3)6204　六千二百零四

(4)2530　二千五百三十

3. (1)③　(2)②　(3)①　(4)②　(5)①

4. 7～9　5～9　1～4　1～5

5. (1)1300棵　(2)760棵

6. (1)565　676　(2)678　789

7. 100　200　300

综合练习②

1. 695　639　304　676　148　989

验算略

2. 559　524

3. 215−107+215=323(棵)

4. (1)500−173−138=189(袋)

(2)略

5. (1)820−86−348=386(元)

(2)86+348+196=630(元)

(3)略

6. 大瓶:1000克　中瓶:500克

综合练习③

1. 96　350　400　4800　66　1800　48　3000　1200

2. 268　5800　3840　3624　2175　500

3. (1)×　145 × 3 = 435　(2)×　280 × 4 = 1120

4. (1)46×8≈400(元)　够。

(2)200−5×36=20(元)

5. (1)桃树一共有多少棵?

(2)570−138=432(棵)

6. 1234　4　9876

12345　5　98765

123456　6　987654

1234567　7　9876543

12345678　8　98765432

123456789　9　987654321

综合练习④

1. 7000　32　260　5　40　9　8　4000

2. 4　4　7

3. 5　3　长方　宽　4

2　2　正方　4　直

4. 克　千克　吨　千克

5. (1)10　14　8

(2)略　(3)略

6.

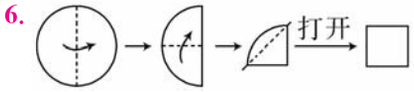

期末易错题大闯关

1. (1)9006　九千零六　四

(2)直　对　4

(3)毫米　千米　分米　吨　吨　千克

(4)5　80　80

(5)9980　9908　7999　999

(6)＞　＜　＞　＝　＞　＝

(7)6000

(8)5640　5650　7840　7940

2. (1)×　(2)√　(3)×　(4)×　(5)×

3. (1)②　(2)③　(3)③　(4)①　(5)②　(6)①

4. (1)47　600　75　2000　28　400　600　1500　2400　4000

(2)527　719　234　24　3224　1145　验算略

5. 略

6. (1)738−379=359(元)

(2)379+520≈900(元)

(3)1000−738=262(元)

7. 150×6−98=802(元)

8. (1)24　16　8

(2)24　18　6