

1.开学必备



3.升学复习







2.期末复习



4.假期学习

语　文		数　学			英　语				
	R		R	BS		BJ	RP	WY	JK
一年级（上、下）		一年级（上、下）			一年级（上、下）				
二年级（上、下）		二年级（上、下）			二年级（上、下）				
三年级（上、下）		三年级（上、下）		★	三年级（上、下）				
四年级（上、下）		四年级（上、下）			四年级（上、下）				
五年级（上、下）		五年级（上、下）			五年级（上、下）				
六年级（上、下）		六年级（上、下）			六年级（上、下）				







ISBN 978-7-5088-3936-3
06>
9 787508 839363

定　价：26.80 元

广　东

同步作业类

BS



黄冈小状元 达标卷



主编　万志勇

- 单元期中检测卷（共8卷）
- 分类专项复习（12卷含易错题卷）
- 标准化调考模拟试卷（2卷含答题卡）

三年级数学 下

最新修订

龍門書局 | 龙门品牌 · 学子至爱
www.longmenshuju.com



学校

班级

考号

姓名

密

封

线

第一单元达标卷

建议时间：60 分　满分：100 分＋10 分

一、填空。（每空 1 分，共 21 分）

1. 从 246 里连续减去 4，最多能减（　　）次。

2. 707÷7 的商是（　　）位数，648÷8 的商是（　　）位数。

3. □ 26÷8，如果商是两位数，□里最大能填（　　）；如果商的最高位是百位，□里最小能填（　　）。

4. 31□÷5，要使计算结果没有余数，方框中可以填（　　）或（　　）。

5. 一个数的 4 倍是 96，这个数的 5 倍是（　　）。

6. 甲：└┴┘
乙：└┴┴┘
丙：└┴┴┴┘
如图，如果乙表示 180，则甲表示（　　），丙表示（　　）。

7. 括号里最大填几？

4×（　　）＜36　　41＞7×（　　）

（　　）×9＜82　　8×（　　）＜60

8. 一共 72 个□，如果每 4 个铺成一行，可以铺（　　）行；如果铺成 6 行，每行可以铺（　　）个。

9. 在○里填上“＞”“＜”或“＝”。

38÷2 ○ 48÷2　　108÷3 ○ 108÷5

360÷9 ○ 240÷6　　75÷5 ○ 96÷6

10. 依依和苹苹录入一份稿件，依依平均每分录入 105 个字，4 分录入了稿件的一半，剩下的由苹苹完成，苹苹比依依多用了 2 分，苹苹平均每分录入（　　）个字。

二、判断。（对的画“√”，错的画“×”）（每题 1 分，共 5 分）

1. 0 除以任何数都等于 0。（　　）

2. 328÷4 估算时，可以把 328 估成 320，也可以把 328 估成 330。（　　）

3. 67□÷2 若有余数，余数一定是 1。（　　）

4. 5□9÷5，要使商中间有 0，□里只能填 1～4。（　　）

5. 三位数除以一位数，商不可能是一位数。（　　）

三、选择。（把正确答案的序号填在括号里）（每题 1 分，共 5 分）

1. 要使 4□0÷3 的商末尾有一个 0，□里可以填（　　）。

A. 3　　B. 0　　C. 5

2. 下面算式中商最接近 70 的是（　　）。

A. 254÷4　　B. 492÷7　　C. 560÷7

3. 用 110 米的布做环保袋，每个环保袋用布 3 米，最多能做（　　）个环保袋。

A. 35　　B. 36　　C. 37

4. 有 61 个苹果，每盘最多装 6 个，至少要（　　）个盘子才能全部装完。

A. 10　　B. 11　　C. 12

5. 3 只燕子 4 天吃 600 只害虫，1 只燕子 4 天吃（　　）只害虫，3 只燕子 1 天吃（　　）只害虫。

A. 50　　B. 200　　C. 150

四、计算。（共 34 分）

1. 口算。（6 分）

24×3＝	48÷4＝	160÷8＝
80×4＝	60÷5＝	36÷3＝
75÷3＝	88÷8＝	90÷2＝
16×4＝	120÷3＝	105÷5＝

2. 用竖式计算。（带 * 的要验算）（12 分）

504 ÷ 5=　　*722 ÷ 3=

816 ÷ 4=　　*990 ÷ 9=

3. 计算下面各题。（8 分）

272÷（4×2）　　540÷4÷3

124×5÷4　　120＋171÷3

4. 森林医生。（4 分）

```
   120
4 ⟌490
   4
   ──
    9
    8
    ─
    1
```

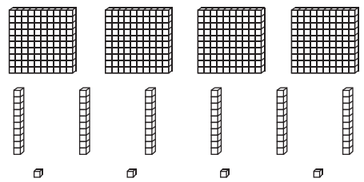
改正：

```
   205
3 ⟌709
   6
   ──
   19
   15
   ──
    4
```

改正：

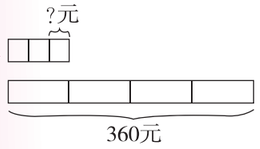
5. 圈一圈，算一算。（4 分）

464÷2=

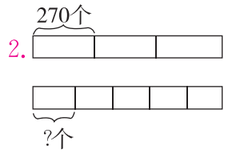


五、看图列式算一算。（共 4 分）

1.



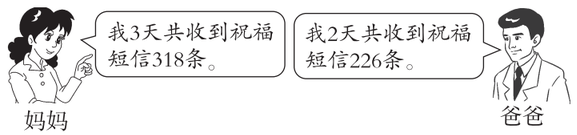
2.



六、解决问题。（共 31 分）

1. 阳光小学六年级毕业生参加团体操表演，男生 490 人，女生 290 人，排成 6 种队形，平均每种队形多少人？（4 分）

2. 春节期间，谁平均每天收到的祝福短信多？（3 分）



3.（6 分）

（1）壮壮在家和学校之间走了 2 个来回，共走了 960 米。壮壮家到学校有多远？

（2）壮壮所在的手工社团准备做一批手工，计划每天做 160 个，4 天完成。实际完成任务用了 5 天，实际平均每天做多少个？

4. 淘淘不小心把爸爸买树苗的清单弄脏了，你能帮他算一算柏树树苗的单价吗？（4 分）

树苗品种	单价	数量	总额
松树	32 元	9 棵	426 元
柏树	[illegible]	6 棵	

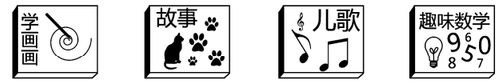
5.（6 分）



（1）今年王爷爷的年龄是黄霏霏的多少倍？

（2）明年王爷爷的年龄是黄霏霏的多少倍？

6. 黄老师准备用 150 元钱来购买图书。（8 分）



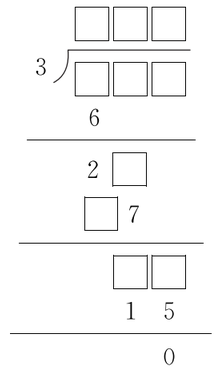
（1）买 26 本《故事》和 1 本《趣味数学》需要多少元？（2 分）

（2）黄老师买了 5 本《学画画》，剩下多少钱？剩下的钱可以买几本《儿歌》，还剩多少元？（2 分）

（3）用 150 元买书，还可以怎么买？请写出两种购买方案。（4 分）

附加题。（10 分）

在下面的□里填上合适的数。



密 封 线

学校

班级

考号

姓名

密　封　线

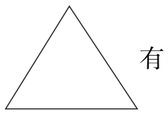
第二单元达标卷

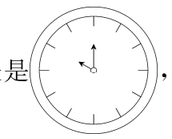
建议时间：60 分　满分：100 分＋10 分

一、填空。（每题 2 分，共 8 分）

1. 一个图形从中间分开，两边一样，这个图形就是（　　）图形。

2. 汽车在笔直的公路上行驶的过程中，车轮的运动是（　　）现象，车身的运动是（　　）现象。

3.  有（　　）条对称轴，  有（　　）条对称轴。

4. 依依从镜子里看到墙上的钟表是  ，实际时刻应该是（　　）。

二、选择。（把正确答案的序号填在括号里）（每题 2 分，共 10 分）

1.  经过（　　）可以得到  。

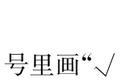
A. 轴对称　　B. 平移　　C. 旋转

2. 在长方形、平行四边形、三角形、梯形、正方形中，一定是轴对称图形的有（　　）个。

A. 2　　B. 3　　C. 4　　D. 5

3. 如图，把一张正方形纸对折后沿线剪开，得到的图形是（　　）。



A.  　　B. 　　C.

4. 图形①经过平移得到的图形是（　　）。

　A.  　B. 　C. 　D.

5. 下面的手帕缺了一角，选（　　）才能拼成一个完整的手帕。

A. 　　B. 　　C. 　　D.

三、动手操作第一关。（共 20 分）

1. 下列图形、字母、数字、汉字中哪些是轴对称图形，在下面的括号里画“√”。（8 分）


　　元　旦

（　　）（　　）（　　）（　　）

A　G　0　1


（　　）（　　）（　　）（　　）

2. 画出下面图形的对称轴。（只画 1 条）（8 分）

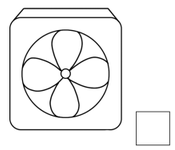
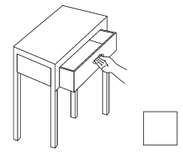


3. 下列物体的运动是平移的在□里画“△”，是旋转的画“○”。（4 分）

（1）电梯升降。　　（2）直升机螺旋桨的转动。

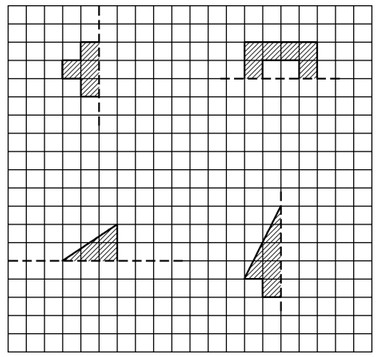
（3）排气扇的转动。　　（4）拉抽屉的运动。

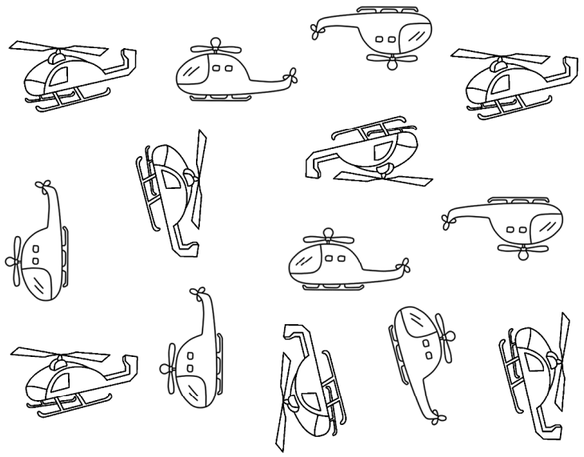
四、动手操作第二关。（共 28 分）

1. 下面的图形各是从哪张对折的纸上剪下来的？请连一连。（8 分）


2. 画一画：请在方格纸上画出轴对称图形的另一半。（12 分）



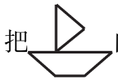
3. 涂一涂：哪些飞机通过平移与  重合，请涂上红色；哪些飞机是  经过旋转得到的，请涂上蓝色。（6 分）

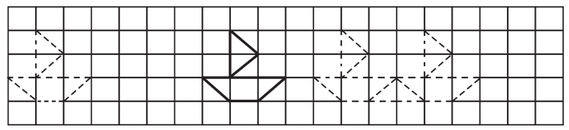


4. 请你通过平移让小猫回家，在方格图上画出路线图。（2 分）

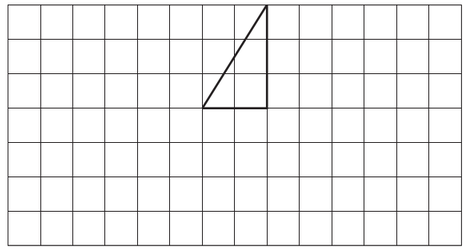


五、动手操作第三关，按要求解决。（共 34 分）

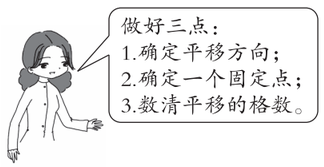
1. 把  向右平移 4 格后得到的图形涂上颜色。（2 分）



2. 分别画出三角形向左平移 4 格和向下平移 3 格的图形。（8 分）



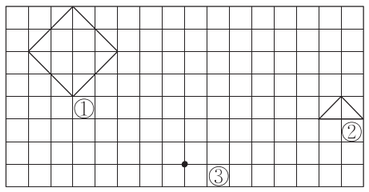
3. 移一移，描一描。（8 分）



（1）把图形①向右平移 5 格。

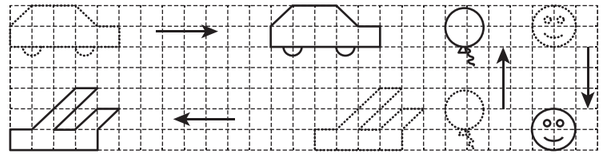
（2）把图形②向左平移 7 格。


（3）把图形③向上平移 6 格。



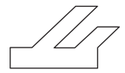
（4）拼出的图形像（　　）。

4. 移一移，填一填。（8 分）




向____平移了____格。

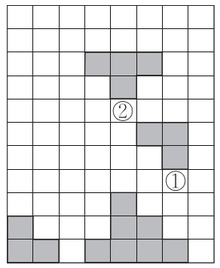

向____平移了____格。


向____平移了____格。


向____平移了____格。

5. 移一移，想一想。（8 分）

怎样才能铺满最下面两层？请写出你的方案。



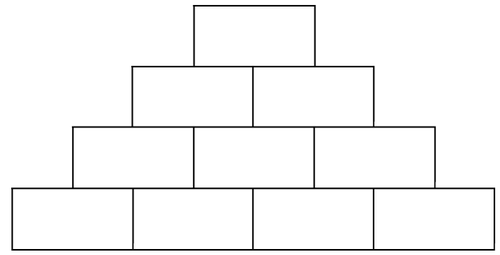
图①先向____平移____格，再向____平移____格；

图②先向____平移____格，再向____平移____格，

就能铺满最下面两层。

附加题。（10 分）

下图中每个小长方形的长都是 4cm，宽是 2cm，你能利用平移知识很快求出这个图形的周长吗？试着画一画，再算出来。



密　封　线

学校

班级

考号

姓名

密　封　线

第三单元达标卷

建议时间：60 分　满分：100 分＋10 分

一、填空。（每题 2 分，共 16 分）

1. 要使算式 4×10＋20÷5 按加法、乘法、除法的运算顺序进行计算，就要添（　　），算式变为（　　）。

2. 在（　　）里写出竖式每一步的意思。

```
  24
×32
 48  ……（24×2=48）
 72  ……（　　）
768  ……（　　）
```

3. 已知 12×6＝72，不计算，那么 12×60＝（　　），120×6＝（　　），120×60＝（　　），12×（　　）＝7200。

4. 48×55 的积的末位数字一定是（　　），估一估，它的积是（　　）位数。

5. □0×□0＝3600　　□0×□0＝4000

6. （　　）×20 的积的末尾有 2 个 0，括号里最小可以填（　　）；40×（　　）＜2800，括号里可以填的最大整数是（　　）。

7. 学校计划买 12 个书包送给贫困山区的孩子们，一个书包 38 元钱，大约需要（　　）元钱。

8. 最大的两位数与最小的两位数相乘的积是（　　），它是最大的一位数的（　　）倍。

二、判断。（对的画“√”，错的画“×”）（每题 1 分，共 5 分）

1. 两位数乘两位数，积是四位数或三位数。（　　）

2. 25＋38×12 读作 25 加上 38 的和乘 12。（　　）

3. 两个乘数的末尾都没有 0，所得的积的末尾一定也没有 0。（　　）

4. 两个乘数的积一定比这两个乘数都大。（　　）

5. 3□×51 的计算结果如果要最接近 1500，□里就只能填 1。（　　）

三、选择。（把正确答案的序号填在括号里）（每题 2 分，共 10 分）

1. 一个乘数乘 10，另一个乘数也乘 10，积就相当于原来的数（　　）。

A. 乘 10　　B. 不变

C. 乘 20　　D. 乘 100

2. 下面哪道算式的积最接近 4800？你的选择是（　　）。

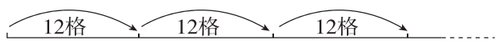
A. 51×58　　B. 62×79　　C. 92×59

3. □3×11 的积最大是（　　）。

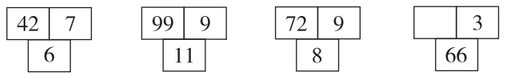
A. 1563　　B. 143　　C. 1023　　D. 无法确定

4. 小青蛙每次跳 12 格，它跳了 19 次，一共跳了多少格？正确列式是（　　）。

A. 12×(19＋1)　　B. 12×(19－1)　　C. 12×19



5. 根据规律，□中填（　　）。



A. 22　　B. 188　　C. 198

四、计算。（共 39 分）

1. 口算。（6 分）

36×30＝	41×40＝	25×40＝
11×60＝	32×200＝	130×30＝
50×20＝	53×21≈	35×79≈
99×74≈	66×33≈	21×15≈

2. 用竖式计算。（12 分）

37×45＝

19×22＝

52×35＝

79×24＝


25×18＝

88×33＝

3. 算一算，照样子再写出一组算式。（9 分）

7×5＝	14×4＝	7×9＝
70×5＝	14×40＝	_____
70×50＝	140×40＝	_____

4. 森林医生。(4 分)



```
  32
× 33
  96
 96
 192
```

改正：


```
  54
× 64
 216
3024
3456
```

改正：

5. 按要求计算。(8 分)

(1)圈一圈，算一算。

15×12=□

(2) 52×16=□

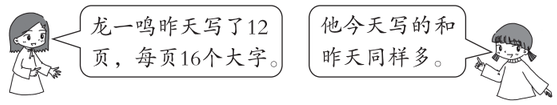
×	50	2
10		

□○□○□○□=□

五、解决问题。(每题 6 分，共 30 分)

1. 小牛的体重是 15 千克，牛妈妈的体重是小牛的 18 倍，牛爸爸的体重是小牛的 27 倍。牛妈妈和牛爸爸的体重各是多少千克？

2. 龙一鸣两天共写了多少个大字？



3. 育英小学五、六年级同学去植树，五年级有 12 个班，六年级有 14 个班，平均每班植树 48 棵，两个年级一共植树多少棵？

4.

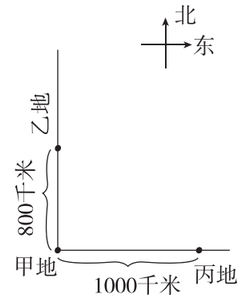


(1)购买成人票需要多少元？

(2)购票一共花了多少元？

5. 每辆汽车每时约行驶 65 千米。

(1)①号车从甲地出发，向北行驶 3 时到达目的地，同时②号车从乙地出发，向南行驶 4 时到达目的地，此时两车相距多少千米？



(2)③号车从甲地出发，向东行驶了 500 千米后休息片刻，又继续向东行驶了 6 时，大约在什么位置？用“△”表示出来，此时距丙地多少千米？

附加题。(10 分)

把下面的竖式补充完整。

```
   □ □
 × □  9
 ------
 3 □  6
1 □ 6
-------
1 □□ 6
```

密 封 线


参考答案

第一单元达标卷

一、1. 61　2. 三　两　3. 7　8　4. 0　5　5. 120
6. 120　240　7. 8　5　9　7　8. 18　12
9. ＜　＞　＝　＜　10. 70
二、1. ×　2. √　3. √　4. ×　5. √
三、1. C　2. B　3. B　4. B　5. B　C
四、1. 72　12　20　320　12　12　25　11　45　64　40　21
2. 100……4　240……2　204　110　竖式及验算略
3. 34　45　155　177
4.
```
   1 2 2          2 3 6
 4 ) 4 9 0      3 ) 7 0 9
     4              6
     9              1 0
     8              9
     1 0            1 9
     8              1 8
     2              1
```
5. 232　圈一圈略
五、1. 360÷4÷3=30(元)
2. 270×3÷5=162(个)
六、1. (490+290)÷6=130(人)
2. 妈妈:318÷3=106(条)
爸爸:226÷2=113(条)　106条<113条　爸爸收到的多。
3. (1)960÷2÷2=240(米)
(2)160×4÷5=128(个)
4. (426−32×9)÷6=23(元)
5. (1)63÷3=21　(2)(63+1)÷(3+1)=16
6. (1)26×3+5=83(元)
(2)150−5×10=100(元)　100÷8=12(本)……4(元)
(3)方案一:150÷3=50(本)
方案二:150÷5=30(本)
可以买50本《故事》或买30本《趣味数学》。(答案不唯一)

附加题:
```
     2 9 5
  3 ) 8 8 5
      6
      2 8
      2 7
        1 5
          0
```

第二单元达标卷

一、1. 轴对称　2. 旋转　平移
3. 3　1　4. 2:00
二、1. C　2. A　3. B　4. B　5. C
三、1. (√)(√)(　)(√)(√)(　)(√)(　)
2. 略
3. (1)△　(2)○　(3)○　(4)△
四、1.

2. 略　3. 略　4. 略
五、1. 从左往右第2条小船涂上颜色(本身除外)。
2. 略
3. (1)(2)(3)略　(4)小鱼
4. 右　12　左　14　上　4　下　5
5. 右　1　下　4　左　2　下　7
附加题:
4×4=16(cm)　2×4=8(cm)　(16+8)×2=48(cm)

第三单元达标卷

一、1. 括号　4×(10+20)÷5
2. 24×30=720　48+720=768
3. 720　720　7200　600　4. 0　四
5. 4　9(或6　6)　5　8
6. 5　69　7. 480(答案不唯一)　8. 990　110
二、1. √　2. ×　3. ×　4. ×　5. ×
三、1. D　2. B　3. C　4. C　5. C
四、1. 1080　1640　1000　660　6400　3900
1000　1000　3200　7400　2100　300
(估算答案不唯一)
2. 1665　418　1820　1896　450　2904　竖式略
3. 35　56　63
350　560　7×90=630(或70×9=630)
3500　5600　70×90=6300
4.
```
    3 2          5 4
  × 3 3        × 6 4
    9 6        2 1 6
  9 6        3 2 4
1 0 5 6      3 4 5 6
```
5. (1)180　圈一圈略
(2)832

×	50	2
10	500	20
6	300	12

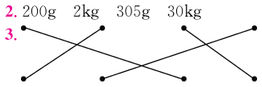
500+300+20+12=832
五、1. 牛妈妈:15×18=270(千克)　牛爸爸:15×27=405(千克)
2. 12×16×2=384(个)
3. (12+14)×48=1248(棵)
4. (1)(40−15)×45=1125(元)　(2)1125+15×28=1545(元)
5. (1)65×(3+4)=455(千米)　800−455=345(千米)
(2)500+65×6=890(千米)　1000−890=110(千米)
标位置略
附加题:
```
    3 4
  × 4 9
  3 0 6
1 3 6
1 6 6 6
```

期中检测卷

一、1. 1044　261　2. 两　四　3. 1782
4. 10　5. 48　6. 6　6
7. ＞　＞　＝　＝　8. ①④⑤　②③⑥
9. 3000(答案不唯一)　10. 644
二、1. ×　2. √　3. √　4. ×　5. ×
三、1. B　2. C　3. A　4. A　5. C
四、1. 480　880　300　30　720　123
780　101　0　60　1200　70
2. 140　1904　648　65……7　竖式及验算略
3. 12　4200　700　60
4.
```
      3 8 1          3 2
  2 ) 7 6 3        × 3 1
      6              3 2
      1 6          9 6
      1 6        9 9 2
        3
        2
        1
```
五、1.

2. 略
六、1. 72×4÷3=96(本)
2. 603÷3×5=1005(棵)
七、1. 32×5÷4=40(厘米)　40厘米=4分米
2. (285−5)÷8=35(千米)
3. 80×4÷5=64(千米)
4. (1)480÷8÷4=15(瓶)　(2)15×4×3=180(瓶)
5. (1)女生:55×16=880(元)　男生:65×24=1560(元)
(2)880+1560=2440(元)　2500元>2440元　够。
6. (1)39×16=624(元)　(2)90÷(45−39)=15(元)
(3)(16−13)×45=135(元)
附加题:
72÷(9−6)=24　24×26=624

第四单元达标卷

一、1. 克　千克　吨
2. kg　g　1kg　1000g
3. 4　4t　4. kg　g　5. 5　10
二、1. ×　2. ×　3. √　4. ×　5. ×
三、1. A　2. B　3. C　4. B　5. C
四、1. 千克　千克　克　千克　克　吨
2. 200g　2kg　305g　30kg
3.

五、1. 2000　5000　3　10000
8　4000　7　6　6000　(　)处答案不唯一)
2. ＜　＞　＝　＞
3. 克　克　千克　千克　吨
4. 100　20　40
六、1. 140×50=7000(克)　7000克=7千克
2. 96÷(2×4)=12(次)
3. 2千克=2000克
(1)2000÷4=500(克)　(2)2000÷5=400(克)
4. (1)36+5=41(千克)
(2)壮壮　龙一鸣　依依
5. (1)900×5=4500(千克)　4500千克<5吨　能。
(2)800×7=5600(千克)　5600千克>5吨　不能。
(3)900×3+800×2=4300(千克)　4300千克<5吨　能。
6. 340×3+350×2+300=2020(千克)
附加题:
小杯:(160−120)÷(6−4)=20(克)
大杯:120−20×4=40(克)

第五单元达标卷

一、1. 2　4
2. 统一　平方米　平方分米　平方厘米
3. 24平方厘米
4. 1厘米　10
5. 24　32
6. 9　24　5000　600
7. 米　平方分米　平方厘米　平方厘米
8. 体育　音乐　美术
二、1. √　2. ×　3. ×　4. ×　5. ×
三、1. C　2. A　3. C　4. A　5. A
四、1. 周长:(3+2)×2=10(cm)
面积:3×2=6(cm^2)
周长:2×4=8(cm)
面积:2×2=4(cm^2)
2. 3×9×2−3×3=45(平方厘米)
五、1. 略
2. (1)20÷2=10(厘米)

长/厘米	9	8	7	6	5
宽/厘米	1	2	3	4	5
周长/厘米	20	20	20	20	20
面积/平方厘米	9	16	21	24	25

(2)略
六、1. 80÷4=20(米)　20×20=400(平方米)
2. (1)3m^2=300(dm^2)　300÷20=15(dm)
(2)129×3=387(元)
3. 8×4−2×2×2=24(平方米)
4. (1)26×26=676(平方米)　(2)(60−26)×26=884(平方米)
5. (1)120×3+108×2=576(元)
(2)买5大盒和1小盒最省钱。
6. (1)3×4×72=864(平方分米)　(2)864÷(3×3)=96(块)
(3)A种:96×6=576(元)　B种:72×9=648(元)
576元<648元　A种地砖比较划算。
附加题:
40÷2=20(个)　17÷2=8(个)……1(厘米)　20×8=160(张)

第六单元达标卷

一、1. 九分之五　5　2. $\frac{6}{7}$　5
3. 6　4　10　9　9(　)处答案不唯一)
4. $\frac{1}{8}$　$\frac{5}{8}$　5. $\frac{3}{5}$　$\frac{2}{5}$　$\frac{1}{5}$　6. 4　3
7. 4　$\frac{1}{4}$　8. $\frac{1}{4}$　$\frac{1}{16}$
9. $\frac{4}{12}$　$\frac{1}{12}$　$\frac{3}{12}$　$\frac{2}{12}$　10. $\frac{3}{9}$
二、1. ×　2. ×　3. ×　4. ×　5. √
三、1. C　2. A　3. B　4. A　5. A
四、$\frac{5}{8}$　$\frac{3}{7}$　0　1　$\frac{3}{6}$　$\frac{5}{7}$
$\frac{4}{6}$　0　1　1　1　6(　)处答案不唯一)　4
五、1. $\frac{1}{4}$　涂色略　$\frac{3}{8}$　涂色略　$\frac{1}{4}$　涂色略
2. 略
3. 涂一涂略　$\frac{2}{6}<\frac{2}{5}$　$\frac{3}{8}<\frac{4}{8}$
六、1. (1)$\frac{2}{8}$　(2)$\frac{6}{8}$　(3)$\frac{4}{8}$
2. (1)$\frac{4}{8}+\frac{3}{8}=\frac{7}{8}$　(2)$\frac{4}{4}-\frac{1}{4}=\frac{3}{4}$　(3)$1-\frac{1}{6}=\frac{5}{6}$
七、1. $1-\frac{1}{7}-\frac{3}{7}=\frac{3}{7}$
2. (1)$\frac{2}{7}+\frac{2}{7}=\frac{4}{7}$　(2)$1-\frac{4}{7}=\frac{3}{7}$
3. (1)$\frac{3}{8}+\frac{2}{8}=\frac{5}{8}$　(2)$1-\frac{5}{8}=\frac{3}{8}$
4. (1)$\frac{5}{8}+\frac{1}{8}=\frac{6}{8}$　(2)$\frac{5}{8}-\frac{1}{8}=\frac{4}{8}$
5. (1)9　(2)$\frac{4}{9}$　$\frac{5}{9}$　(3)略
附加题:
1. 4、5、6、7、8
2. $1-\frac{2}{4}+\frac{1}{4}-\frac{2}{4}=\frac{1}{4}$

第七单元达标卷

一、1. (1)乒乓球　篮球　(2)9　8　(3)35　(4)略　(5)乒乓球
2. (1)4　8　(2)4　(3)六　一　(4)13　(5)六　日
3. (1)春　夏　(2)15　11　(3)3　(4)春　(5)40
二、1. (1)C　(2)C　(3)D　(4)A
2. (1)A　(2)B　(3)A
三、1. (1)梨　(2)11+5+9+12=37(人)　(3)略
2. 略
3. (1)略　(2)5人　(3)略
4. (1)略　(2)4　4　7　5　4　(3)24人
附加题:
1. 略　2. 1　3　10　6　3. 略　4. 略

分类专项复习卷(一)

一、1. 3　108　1080　1080　2. 2　8　3. 5　6、7、8、9
4. 270　9　5. 5或0
二、1. √　2. ×　3. ×　4. √　5. ×
三、1. D　2. A　3. B　4. C　5. C
四、1. 900　167……2　882　30……8　竖式及验算略
2. 80　150
3. 211　圈一圈略
五、1. (1000−460)÷5=108(张)
2. 3×7×27=567(页)　567页<650页　看不完。
650−567=83(页)