

语　文		数　学			英　语				
	R		R	BS		BJ	RP	WY	JK
一年级（上、下）		一年级（上、下）			一年级（上、下）				
二年级（上、下）		二年级（上、下）	★		二年级（上、下）				
三年级（上、下）		三年级（上、下）			三年级（上、下）				
四年级（上、下）		四年级（上、下）			四年级（上、下）				
五年级（上、下）		五年级（上、下）			五年级（上、下）				
六年级（上、下）		六年级（上、下）			六年级（上、下）				

防伪标使用说明

刮开　涂层，用“状元共享课堂APP”首页扫码工具扫描防伪标二维码，验证显示正版后，可绑定图书使用相应数字资源；也可以在以下网址中输入16位数字密码验证：http://www.longmenshuju.com/enterCheckCode.jspx。

无此防伪标签皆为盗版，敬请留意

ISBN 978-7-5088-3928-8
9 787508 839288 07>

定　价：26.80 元

看一看，学习能帮你；扫一扫，购买更便利

关注龙门书局公众号

内含小程序，购书优惠又便利

广　东

同步作业类

R

黄冈小状元 达标卷

主编　万志勇

- 单元检测卷（9卷）
- 分类专项复习（10卷含易错题卷）
- 期中期末检测卷（共2卷）

用APP扫一扫，防伪验证，绑定使用

状元共享课堂

内有各地真题试卷

二年级数学 下

最新修订

龍門書局　龙门品牌·学子至爱　www.longmenshuju.com

学校

班级

考号

姓名

密

封

线

第一单元达标卷

建议时间：60 分钟　满分：100 分＋10 分

一、先算一算，再填一填。（共 19 分）

1.（12 分）

5×8＝	48＋24＝	65－20＝
27＋56	65－31＝	9×6＝
5×9＝	47－18＝	8×7＝
7×6＝	8×6＝	30－12＝
54＋9＝	100－32＝	6×6＝
45＋29＝	80－58＝	46－8＝
7×9＝	20＋32＝	7＋12＝
5＋23＝	48－39＝	75－6＝

2.（7 分）





上题中一共有多少道加法、减法、乘法计算题？请用画“正”字的方法统计出来，并记录在下表里。

加法	
减法	
乘法	



加法有（　　）道，
减法有（　　）道，
乘法有（　　）道，
一共有（　　）道计算题。

二、学校准备开新学期动员会，下面是依依同学调查本班同学最喜欢吃的一种水果的情况。（15 分）

	正　下
	正　正　正　一
	正　下
	正　一
	下

1. 把记录的结果填在下表中。（5 分）

水果					
人数					

2. 全班共有（　　）人。（2 分）

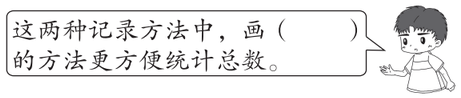
3. 最喜欢吃（　　）的人数最多。（2 分）

4. 如果这个班购买一种水果，选择（　　）合适。全校选这种水果合适吗？为什么？（6 分）

三、新学期开始了，二（1）班在班干部选举中，有三名班长候选人，通过投票决定一名同学当选。（14 分）

龙一鸣	苹苹	壮壮	龙一鸣	苹苹	壮壮
丅	正	正	√	√√√√√	√√√
	正	正	√	√√√√√	√√√
	正	下	√	√√√√√	√√√
	正		√	√√√√	√√
	下			√√√√	√√

1.（2 分）



2. 把记录的结果填入下表。（3 分）

姓名	龙一鸣	苹苹	壮壮
票数			

3. 根据统计结果，应该选（　　）为班长。（2 分）

4. 有三位同学缺勤没能参加投票，如果他们也投了票，你认为（　　）最有可能当选，理由是_____

_____（7 分）

四、数一数，填一填，答一答。（12 分）



1. 上图中各种图形各有几个？请用画“正”字的方法记录。（4 分）

长方形	
正方形	
三角形	
圆	

2.（1）（　　）的个数最多，有（　　）个。（2 分）

（2）（　　）的个数最少，有（　　）个。（2 分）

（3）最多和最少的图形数量相差（　　）个。（2 分）

算式：_____（2 分）

五、二(3)班同学对航天飞船可感兴趣了。下面是二(3)班各组同学收集的航天飞船的图片张数记录情况。(14 分)

第一组	第二组	第三组	第四组
√√√√√ √√	○○○○○	正 正 正	正 正 正 丅

1. 把他们记录的结果填在下表中。(4 分)

组别	第一组	第二组	第三组	第四组
张数				

2. 第(　　)组收集的图片最多,第(　　)组收集的图片最少。(4 分)

3. 二(3)班同学一共收集了(　　)张航天飞船的图片。(2 分)

4. 请你再提一个数学问题并解答。(4 分)

提问:_____

解答:

六、下面是某城市一个月的天气情况。(17 分)

1	2	3	4	5	6	7	8
9	10	11	12	13	14	15	16
17	18	19	20	21	22	23	24
25	26	27	28	29	30	31	

1. 用你喜欢的记录方法记录。(4 分)

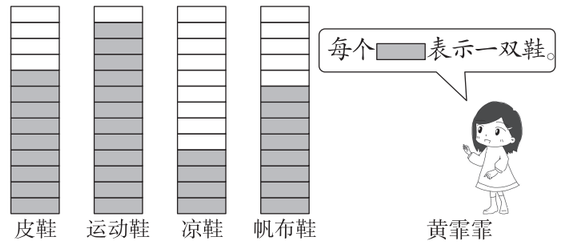
2. 把记录的结果填在下表中。(4 分)

天气				
天数				

3. 这个月共有多少天?比少几天?(6 分)

4. 这个月在夏季还是冬季?(3 分)

七、黄霏霏家开了一家鞋店,黄霏霏对上个星期卖出的鞋子进行了统计。(9 分)



1. 上个星期,(　　)鞋卖得最多,(　　)鞋卖得最少。(2 分)

2. 上个星期卖的皮鞋比凉鞋多(　　)双。(1 分)

3. 你还能发现什么?你能提出什么建议?(2 分)

4. 如果每个▭表示两双鞋,图中的数据应该各表示多少?请填在下表中。(4 分)

种类	皮鞋	运动鞋	凉鞋	帆布鞋
数量				

附加题。(10 分)

投球游戏。



小朋友们投球,每次投中的画"○",没投中的画"×"。

次数	苹苹	壮壮	龙一鸣	依依
1	×	×	○	○
2	○	×	○	×
3	○	○	○	○
4	×	○	○	×
5	○	○	×	○
6	○	○	○	○
7	○	×	×	×
8	×	×	×	○
9	○	×	×	×
10	○	×	×	○

1. 依依第 4 次(　　)。(填"投中"或"没投中")(2 分)

2. 四个人都投中的是第(　　)次和第(　　)次。(2 分)

3. 投中次数最多的是(　　)。(2 分)

4. 按投中次数的多少排名。

第一名是(　　),第二名是(　　),第三名是(　　),第四名是(　　)。(4 分)

附加题讲解

密

封

线

学校

班级

考号

姓名

密

封

线

第二单元达标卷

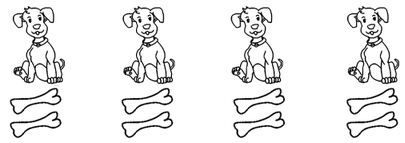
建议时间：60 分钟　满分：100 分＋10 分

一、填一填。（每空 1 分，共 30 分）

1. 一共有（　　）条金鱼，每（　　）条装一缸，装了（　　）缸。



2. 把（　　）根骨头平均分给（　　）只小狗，每只小狗分（　　）根骨头。




3. 30÷5＝6 读作（　　），其中被除数是（　　），除数是（　　），商是（　　）。

4. 从 20 里连续减 4，减（　　）次刚好减完。

5. 根据乘法口诀“三六十八”写出的乘法算式和除法算式分别是（　　）、（　　）、（　　）、（　　）。

6. 计算 24÷4 时想乘法口诀（　　），商是（　　）。

7. 在◯里填上合适的运算符号。



18◯3＝6　　8◯2＝6　　3◯3＝9

15◯5＝3　　20◯5＝15　　25◯5＝30

8◯3＝24　　12◯4＝3　　5◯5＝1

8. 从 3、4、5、6 和 20 中选出 3 个数，写出两道乘法算式和两道除法算式分别是（　　）、（　　）、（　　）和（　　）。

二、辨一辨。（对的画“√”，错的画“×”）（5 分）

1. 每份分得同样多，叫平均分。（　　）

2. 任何一句乘法口诀都可以写出两道不同的除法算式。（　　）

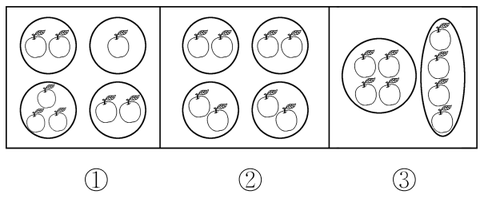
3. 把 10 颗糖分给 5 个小朋友，每人一定分 2 颗。（　　）

4. 在一道除法算式中，商一定比被除数小。（　　）

5. 8÷2＝4 读作 8 除 2 等于 4。（　　）

三、选一选。（将正确答案的序号填在括号里）（6 分）

1. 把 8 个苹果平均分给 4 个小朋友，正确的分法是（　　）。



①　　②　　③

2. 下列三种笔中，（　　）最便宜。

①4 元 1 支　　②9 元 3 支　　③25 元 5 支

3. 把 8 盆花平均摆在国旗台两边，每边摆几盆？正确的算式是（　　）。

①8÷2＝4　　②8×2＝16　　③8÷4＝2

4. 用“五五二十五”这句乘法口诀可以写出（　　）道算式。

①2　　②3　　③4

5. 一根绳子长 8 米，将它对折再对折，然后沿着折痕剪开，每段长（　　）米。


①6　　②4　　③2

6. ◯＋◯＋◯＋◯＝12，◯＝（　　）。


①3　　②4　　③6

四、算一算。（17 分）

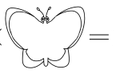
1. 过河。（从右往左计算）（6 分）

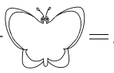


2. 连一连。（把用同一句口诀计算的算式用线连起来）（5 分）



3.  盖住的数是几？（6 分）

4×  ＝16　　24÷  ＝6　　3×  ＝15

 ÷3＝3　　  ÷2＝6　　10÷  ＝5

五、列式计算。（8 分）

1. 被除数是 6，除数是 6，商是多少？（2 分）

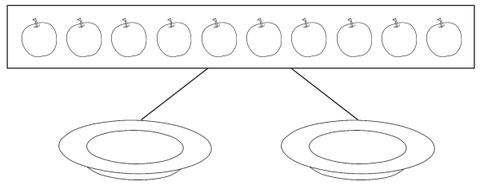
2. 18 里面有几个 6？（2 分）

3. 把 20 平均分成 4 份，每份是多少？（2 分）

4. 15 个▲，每 3 个分一份，可以分成几份？（2 分）

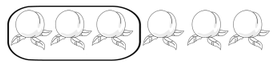
六、看图写算式。（10 分）

1. （1）（2 分）



□ ÷ □ = □（个）

（2）（2 分）



□ ÷ □ = □（个）

2. （3 分）



□ × □ = □（朵）



□ ÷ □ = □（朵）



□ ÷ □ = □（朵）

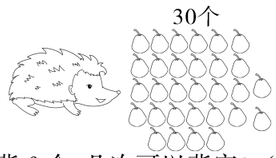
3. 把一根钢管平均分成 3 段。（3 分）



□ ○ □ = □（　　）

七、解决问题。（24 分）

1. 有 30 个果子。（6 分）



（1）小刺猬每次背 6 个，几次可以背完？（3 分）

（2）小刺猬 5 次背完，平均每次背几个？（3 分）

2. （8 分）

（1）每个鱼缸里养 6 条金鱼，3 个鱼缸可以养多少条金鱼？（2 分）


（2）每个鱼缸里养 5 条金鱼，20 条金鱼需要几个鱼缸？（2 分）

（3）有 12 条金鱼，养在 2 个鱼缸里，平均每个鱼缸养几条金鱼？（2 分）

（4）有 12 条金鱼，养在 2 个鱼缸里，一个鱼缸里养 4 条金鱼，另一个鱼缸里养几条金鱼？（2 分）

3. 妈妈买了 12 颗糖果，分给依依和她的 3 个好朋友，平均每个小朋友分到几颗糖果？（4 分）

4. 仔细看图，先把有关的信息和问题用线连起来，再解答。（6 分）



18 只猴玩滑轮，平均分成 6 组。

18 只猴玩滑轮，每组 3 只。

一群猴玩滑轮，分成 6 组，每组 3 只。

一共有多少只猴？

□ ○ □ = □（　　）

每组几只猴？


□ ○ □ = □（　　）

可以分成几组？

□ ○ □ = □（　　）

附加题。（10 分）

一根 20 米长的绳子，把它剪 4 次（不对折），平均每段长几米？



附加题讲解

密 封 线

学校

班级

考号

姓名

密

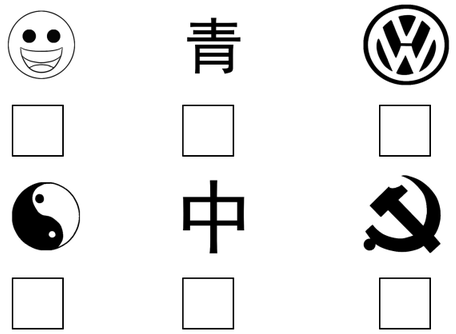
封

线

第三单元达标卷

建议时间：60 分钟　满分：100 分＋10 分

一、下面图形中是轴对称图形的在□里画“√”，不是的画“×”。（6 分）



二、下面现象中是平移的在□里画“√”，是旋转的画“○”。（8 分）

运行中的观光缆车。



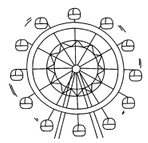
□

运动中的秋千。



□

运行中的摩天轮。



□

行进中的滑雪板。



□

三、辨一辨。（对的画“√”，错的画“×”）（5 分）

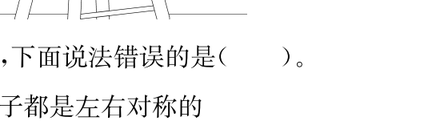
1. 汽车在笔直的公路上行驶，车身做平移运动。（　　）
2. 是轴对称图形。（　　）
3. 升旗时，国旗的运动是平移。（　　）
4. 使用吊扇时，扇叶做旋转运动。（　　）
5. 字母“V”、汉字“朋”都是轴对称图形。（　　）

四、选一选。（将正确答案的序号填在括号里）（15 分）

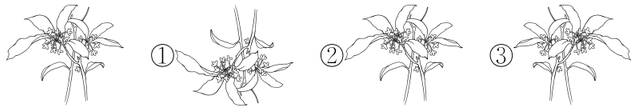
1. 将一张正方形的纸对折，然后用笔尖在上面扎出“E”，再把它铺平，可看到的图形是（　　）。

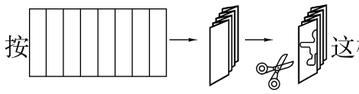


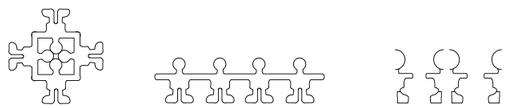
2. 下面是我国几家银行的标志，其中不是轴对称图形的是（　　）。




3. 下面三幅图中，图（　　）是通过左图平移得到的。



4. 按  这样剪，剪出来的是（　　）。



5. 

结合上图，下面说法错误的是（　　）。

①门和椅子都是左右对称的

②圆桌的桌面有无数条对称轴

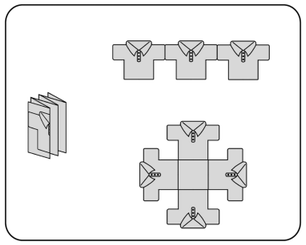
③窗帘既左右对称，也上下对称

五、连一连。（21 分）


1. 下面的哪些图形可以通过平移互相重合？连一连。（8 分）



2. 剪出来的图案是什么？连一连。（5 分）

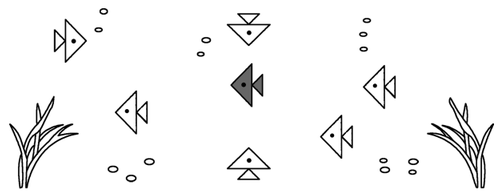


3. 下面的图案分别是从哪张对折后的纸上剪下来的？连一连。（8 分）




六、涂一涂。（10 分）

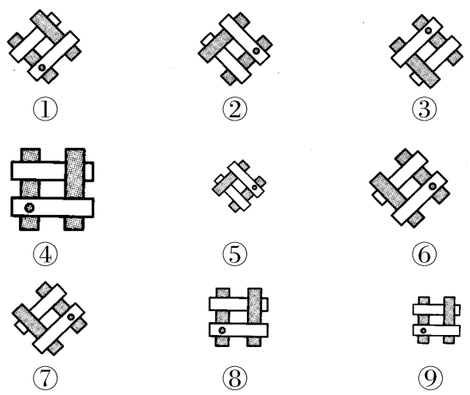
1. 下图中哪些鱼平移后能与小黑鱼重合？把它们涂上颜色。（6 分）



2. 哪个机器人是由○、□、▱、▱通过平移拼成的？把它涂上颜色。（4 分）



七、下面（　　）号图形是由  平移得到的。（填序号）（3 分）



八、写出分针从 12 旋转到下面各个位置所经过的时间。（6 分）



（　　）分　　（　　）分　　（　　）分

九、请你按照前面的规律，画出后面的两个图形。（8 分）

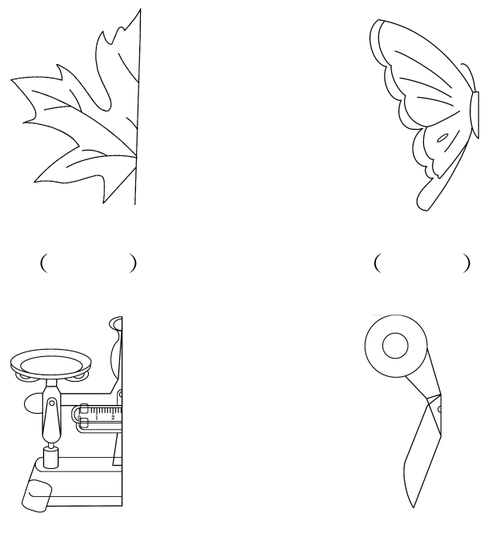
1. A ⇨ ⅄ ⇨ ∀

⇨ ⇨

2. B ⇨ ᗺ ⇨ ᗷ

⇨ ⇨

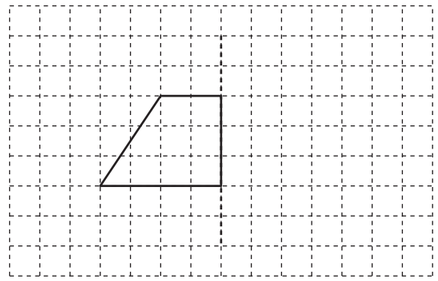
十、用镜子照一照。看看是什么？（8 分）



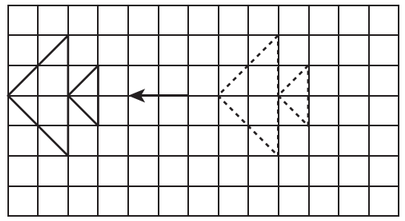
（　　）　　（　　）

（　　）　　（　　）

十一、画出下面图形的另一半。（4 分）



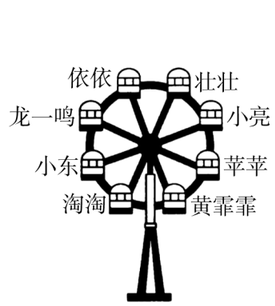
十二、数一数，填一填。（6 分）



小鱼图向（　　）平移了（　　）格。

附加题。（10 分）

快乐的摩天轮转呀转！





附加题讲解

密　封　线

参考答案


第一单元达标卷


一、1. 40　72　45　83　34　54　45　29　56　42
48　18　63　68　36　74　22　38　63　52
19　28　9　69
2. 正丅　正丌　正下　7　9　8　24
二、1. 8　16　7　6　3　2. 40　3. 香蕉
4. 香蕉　全校选这种水果不一定合适，因为一个班的调查情况不能代表全校的情况。
三、1. “正”字　2. 4　23　13　3. 苹苹
4. 苹苹　即使三票都给别人，苹苹的票仍然最多。
四、1. 正　下　正　正
2. (1)长方形　5　(2)正方形　3
(3)2　5－3＝2(个)
五、1. 7　5　15　19　2. 四　二　3. 46　4. 略
六、1. 略　2. 10　12　5　4　3. 31 天　6 天
4. 冬季
七、1. 运动　凉　2. 5　3. 略　4. 18　24　8　16
附加题　1. 没投中　2. 3　6　3. 苹苹
4. 苹苹　依依　龙一鸣　壮壮

第二单元达标卷

一、1. 9　3　3　2. 8　4　2
3. 30 除以 5 等于 6　30　5　6　4. 5
5. 3×6＝18　6×3＝18　18÷3＝6　18÷6＝3
6. 四六二十四　6
7. ÷　－　×　÷　－　＋　×　÷　÷
8. 4×5＝20　5×4＝20　20÷4＝5　20÷5＝4
二、1. √　2. ×　3. ×　4. ×　5. ×
三、1. ②　2. ②　3. ①　4. ①　5. ③　6. ①
四、1. 5　5　3;6　6　40;24　42　6;5　1　32
2. 
3. 4　4　5　9　12　2
五、1. 6÷6＝1　2. 18÷6＝3
3. 20÷4＝5　4. 15÷3＝5(份)
六、1. (1)10÷2＝5　(2)6÷3＝2
2. 4×3＝12　12÷3＝4　12÷4＝3
3. 9÷3＝3(米)
七、1. (1)30÷6＝5(次)　(2)30÷5＝6(个)
2. (1)6×3＝18(条)　(2)20÷5＝4(个)
(3)12÷2＝6(条)　(4)12－4＝8(条)
3. 1＋3＝4(人)　12÷4＝3(颗)
4.  　6×3＝18(只)　18÷6＝3(只)
18÷3＝6(组)
附加题　4＋1＝5(段)　20÷5＝4(米)

第三单元达标卷

一、√　×　√　×　√　×
二、√　○　○　√
三、1. √　2. ×　3. √　4. √　5. ×
四、1. ④　2. ①　3. ②　4. ②　5. ③
五、1.  　2. 

3. 
六、1. 　2. ②
七、⑧　八、20　45　10　九、1. ➢　A　2. ■　B
十、树叶　蝴蝶　天平　剪刀
十一、略　十二、左　7
附加题　①小东旋转到依依现在的位置。
②淘淘旋转到壮壮现在的位置。

第四单元达标卷

一、1. 6　六九五十四　54÷6＝9
2. 1　7　3. 5　4. 42　8　16　4　32　7
5. －　×　＋　÷　÷　÷
6. (1)3　(2)8　5　(3)5
7. 6　1;12　2;18　3;24　4;30　5;36　6(答案不唯一)
8. 72÷8＞40÷5＞63÷9＞21÷7＞12÷6
二、1. ×　2. ×　3. √　4. √　5. √
三、1. ②　2. ③　3. ③　4. ①　5. ①
四、左边一组：20　9　9　9　9　35　8
右边一组：7　39　8　4　24　8　7
(从下往上计算)
五、36　4;8　64;6　2
六、1. 8　48÷6＝8(个)
2. 9　36÷4＝9(辆)
七、1. 6＋1＝7(人)　42÷7＝6(元)
2. (1)72÷8＝9(元)　(2)45÷9＝5(支)
3. (1)72÷8＝9(元)
(2)30÷5＝6(枝)　她买了菊花，买了 6 枝。
4. (1)3×7＝21(元)　(2)24÷6＝4(条)　(3)略
5. 16÷2＝8(元)　10－8＝2(元)
6. 8×9＝72　27÷9＝3
附加题　18÷2＝9(个)　18÷3＝6(个)
18÷1＝18(个)　18＋9＋6＝33(个)

第五单元达标卷

一、1. 减　加　59　2. 乘　加　54
3. 31　7×(4＋3)　4. ＝　＜　＜　＞
5. 8－4＋2＝6　(8－4)÷2＝2(答案不唯一)
6. 42　7
7. 54　90　36＋6×9;8　9　72÷(53－45)
二、1. ×　2. ×　3. √　4. ×　5. √
三、1. ①　2. ③　3. ①　4. ②　5. ②
四、51　56　28　49　52　44　步骤略
五、×　52－34＋16　　×　72－48÷8
＝18＋16　　＝72－6
＝34　　＝66
×　18÷3×2
＝6×2
＝12
六、1. 80－7×8＝24　56－(40－8)＝24
2. (24＋16)÷5＝8　48÷(2×3)＝8
七、1. 16　45　29＋4×4＝45(元)
2. (72－27)÷5＝9(盘)
八、1. 3×7＋2＝23(块)
2. (8－5)×6＝18(个)或 8×6－5×6＝18(个)
3. 20÷(1＋4)＝4(元)
4. (35＋19)÷6＝9(个)
5. 42－(46－27)＝23(个)
6. 每盒草莓 15 元　5×8＋15＝55(元)(答案不唯一)
附加题　3×3＝9　18－9＝9　18－9÷3＝15
正确的得数应该是 15。

期中检测卷

一、1. 9　72 除以 8 等于 9　八九七十二
2. 12　3　4　4　3. 4　6
4. ÷　＋　÷　×　－　÷
5. 7　64　6　27
6. 8×8　36÷4　48÷6　56÷8　42÷7
7. 旋转　平移　8. (72－24)÷6
二、1. √　2. ×　3. ×　4. ×　5. √
三、1. ③　2. ①　3. ②　4. ③　5. ②
四、42　56　9　5　48　8;7　8　8　9　4　7;
9　45　3　5　18　8(从下往上计算)
五、51　19　49　6　35　85　步骤略
六、1. 8×3＝24(个)或 3×8＝24(个)
24÷3＝8(个)
24÷8＝3(盘)
2. 7×5＋56＝35＋56＝91(元)
七、1. 27　8　20　6　2. 61　3. 猴子　4. 略
八、1. (1)10÷2＝5(只)　(2)10－4＝6(只)
(3)10÷2＝5(片)
2. (16＋24)÷5＝8(组)
3. (70－38)÷4＝8(只)
4. (6－4)×8＝16(张)或 6×8－4×8＝16(张)
5. 12－45÷5＝3(元)
6. (1)(18＋6)÷3＝8(元)
(2)(50－18)÷4＝8(支)
(3)买了一支牙刷和一支牙膏
附加题　8×3＝24(个)　24÷4＝6(个)

第六单元达标卷

一、1. 4　3　1;3　4　1　2. 2　1
3. 3　20　4. 7　6　7　7　6　6
5. 4　3　6. 5　7. 5　3　9　4　8. 黑　白
二、1. ×　2. √　3. √　4. ×　5. √
三、1. ②　2. ①　3. ①　4. ①　5. ②
四、3……3　7……3　7　6……2　竖式略
五、3　1;4　5;9　2;6　3;5　1;6　2
六、7　1;38;6
七、×　65÷8＝8……1　×　50÷8＝6……2
八、1. 24÷5＝4(瓶)……4(瓶)
2. 17÷4＝4(个)……1(个)　能装满 4 个盒子。
3. 60÷8＝7(天)……4(页)　7＋1＝8(天)
4. (1)21÷5＝4(组)……1(颗)　黑色
30÷5＝6(组)　白色
(2)21÷5＝4(组)……1(颗)　白色
30÷5＝6(组)　黑色
5. (1)14÷3＝4(束)……2(个)
17÷5＝3(束)……2(个)
7÷2＝3(束)……1(个)　可以扎成 3 束。
(2)黄气球：4×5－17＝3(个)
绿气球：4×2－7＝1(个)
6. (1)31÷4＝7(辆)……3(人)　7＋1＝8(辆)
(2)31÷9＝3(辆)……4(人)　能坐满 3 辆大车，还剩余 4 人。
(3)可以租 3 辆大车和 1 辆小车。(答案不唯一)
附加题　4×6＋2＝26(个)

第七单元达标卷

一、1324　一千三百二十四
2305　二千三百零五
2005　二千零五
1400　一千四百
二、1. 1000　100
2. 千　一　4800　3. 6805　四　千
4. 2100　4999　5. ＜　＞　＞　＜
6. 6100　7800　8000　9900　10000
7. 4　3　8. 1500
三、1. √　2. ×　3. √　4. ×　5. ×
四、1. ②　2. ①　3. ②　4. ③　5. ③
五、略
六、1200　700　2000　2500　700　140　4000　8000
七、1. 8400　2. 4008
3. 4008　4080　8004　8040　4. 8400　4800
5. 8400＞8040＞8004＞4800＞4080＞4008
八、1. (1)600＋500＝1100(元)
(2)1000－500＝500(元)
2. 1000－600＝400(元)　400＜430　不够。
3. 500＋500＋500＝1500(人)　估小了正好，所以不能全部进入馆内。
4. 菊花　月季　百合花
5. (1)②和③或②和④　(2)2800 元
附加题　6955

第八单元达标卷

一、1. 克　千克　2. 克　千克　克　千克
3. 5　1500　2000　3　200
4. ＜　＞　＜　＜　＜　＝
5. 80 千克＞1800 克＞1 千克＞800 克
6. 2500　7. 4
二、1. ×　2. √　3. ×　4. ×　5. √
三、1. ②　2. ③　3. ①　4. ③　5. ③
四、100　600　1　400　600　2
30 千克　9 克　6 千克　9 千克
五、600　2　350　六、略
七、厘米　千克　小时　元
八、第一个天平：①　⑤　第二个天平：③　②④(答案不唯一)
九、1. 500－100＝400(克)
2. 1 千克＝1000 克　1200－1000＝200(克)
3. 32　27
4. (1)5×4＝20(元)
(2)4×2＋3＝11(元)　(3)略
5. 35－2×2＝31(千克)
6. 2 千克＋4300 克＋700 克＝7 千克
7 千克＜10 千克　能。
附加题　6　3

第九单元达标卷

一、1. 依依拿 A　淘淘拿 B　2. 83　75　68
3. 花　黄　白　4. 刘　王　徐　5. 4　3
二、1.  　2.  　3. 
三、1. ②　2. ③　3. ②　4. ②
四、张明是电脑组的，王山是美术组的。
五、龙一鸣得第一名　淘淘得第二名