1.开学必备

3.升学复习

看一看，学习能帮你；扫一扫，购买更便利

关注龙门书局公众号

内含小程序，购书优惠又便利

2.期末复习

4.假期学习

语　文		数　学				英　语				
	R		R	BS	五四制		BJ	RP	WY	JK
一年级（上、下）		一年级（上、下）			★	一年级（上、下）				
二年级（上、下）		二年级（上、下）				二年级（上、下）				
三年级（上、下）		三年级（上、下）				三年级（上、下）				
四年级（上、下）		四年级（上、下）				四年级（上、下）				
五年级（上、下）		五年级（上、下）				五年级（上、下）				
六年级（上、下）		六年级（上、下）				六年级（上、下）				

ISBN 978-7-5088-5666-7

9 787508 856667 >

定　价：26.80 元

山东

同步作业类

五四制

黄冈小状元 达标卷

主编　万志勇

单元检测卷（9卷）

分类专项复习（8卷含易错题卷）

期中期末检测卷（共3卷）

一年级数学 下

龍門書局 | 龙门品牌 · 学子至爱 www.longmenshuju.com

学校

班级

考号

姓名

密　封　线

第一单元达标卷

建议时间：50 分钟　满分：100 分 + 10 分

一、认真填一填。（每空 1 分，共 13 分）

1.
（　　）针
（　　）针

2.
时针指着（　　），分针指着（　　），是（　　）时。

3. 10 时可以写作［　：　］，这时分针指着（　　），时针指着（　　）。

4. （　　）时整，时针和分针在一条直线上而且不重合；（　　）时整，时针和分针完全重合。

5.
（　　）针刚过 12，时针大约指向（　　），是刚过（　　）时。

二、认一认，连一连。（每题 4 分，共 8 分）

1. 

6 : 00　　4 : 00　　9 : 00　　11 : 00

2. 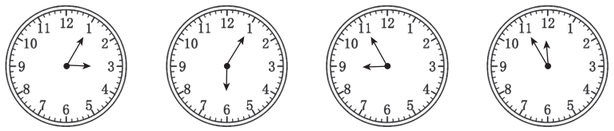

快到9时　　快到12时　　刚过3时　　刚过6时

三、划去叶子上的错误时间。（8 分）

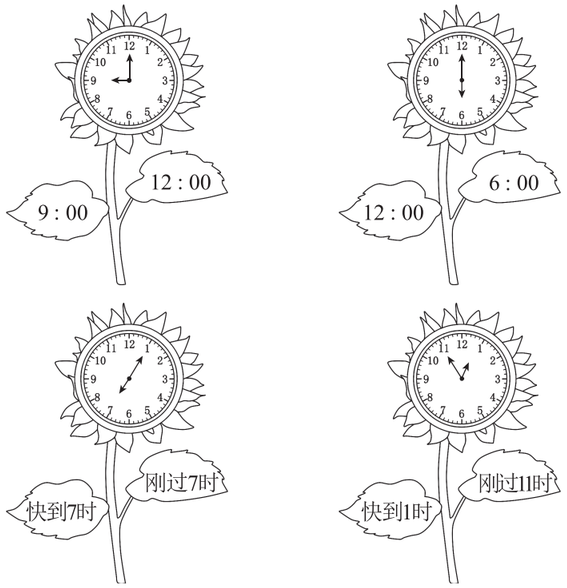

四、选一选。（将正确答案的序号填在括号里）（共 16 分）

1. 龙一鸣的作息时间。（8 分）

①［7 时］　②［10 时］

③［快到 8 时］　④［刚过 8 时］

（　　）
起床

（　　）

上学

（　　）
朝读

（　　）
课间游戏

2. 给妈妈问好。（8 分）

①［早上好］　②［下午好］

③［中午好］　④［晚上好］



五、动手画一画。（共 18 分）

1. 根据时间画出缺少的时针或分针。（6 分）

5 : 00　　11 : 00　　8 : 00

2. 按规律画出缺少的时针或分针。（12 分）

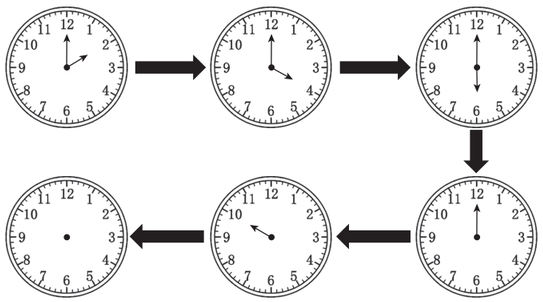

六、看图按先后顺序填写时间，再讲一讲。（每空 2 分，共 16 分）

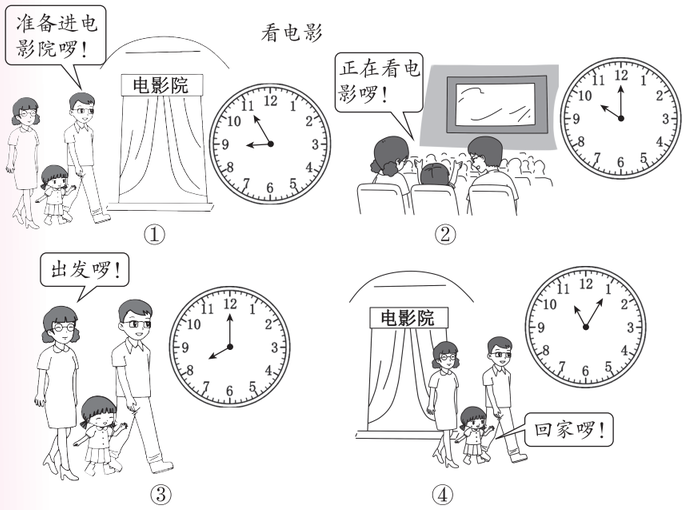

(　　)→(　　)→(　　)→(　　)

星期六，爸爸妈妈带着依依去看电影。他们(　　)时从家出发去电影院；快到(　　)时，他们开始进电影院；(　　)时的时候，他们正在津津有味地看着电影呢！刚过(　　)时，电影结束，他们快快乐乐地从电影院出来准备回家。

七、谁迟到了？（4 分）

星期六，黄霏霏、依依和苹苹三人都要去图书馆看书，她们约好上午 9 时整在图书馆门口集合。下面是她们三人到达图书馆的时间，谁迟到了？在□里画“○”。



八、龟兔赛跑。（5 分）



乌龟和兔子谁先到达终点？

九、爸爸大约什么时间到家？（4 分）

十、下面是淘淘、依依、苹苹和壮壮给钟面画的时针和分针，他们四人中有一人画错了，请找出来，并说一说为什么。（8 分）

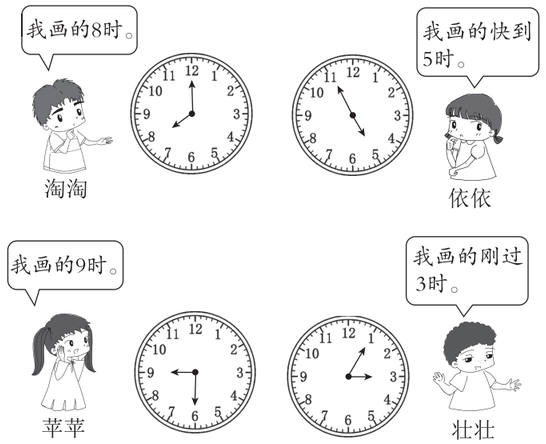

答：_____画错了，原因是_____

_____。

附加题。（10 分）

同样是 12 时，淘淘在吃饭，依依在睡觉，你知道这是为什么吗？

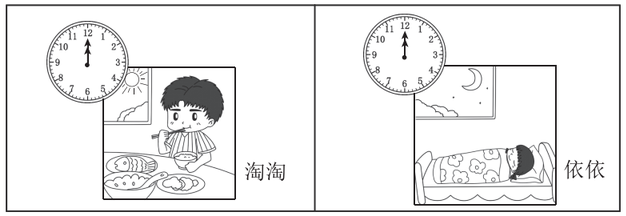

密　封　线

学校

班级

考号

姓名

密　封　线

第二单元达标卷

建议时间：50 分钟　满分：100 分 + 10 分

一、认真填一填。（每空 1 分，共 24 分）

1. 在计数器上，从右边起，第二位是（　　）位，第三位是（　　）位。

2. 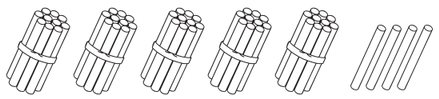

（　　）个十和（　　）个一合起来是（　　）。

3. 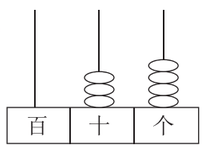

写作：（　　）

读作：（　　）

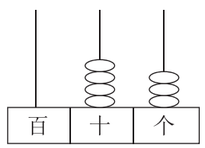

写作：（　　）

读作：（　　）

4. 写出 68 后面连续的 5 个数：（　　）、（　　）、（　　）、（　　）、（　　）。

5. 最大的两位数是（　　），它再添上 1 就是（　　）。

6. 5 个一和 9 个十合起来是（　　），再添上 1 个一就是（　　）。

7. 在 36、66、63、60 这四个数中，最大的数是（　　），最小的数是（　　），个位上是 6 的数有（　　），十位上是 6 的数有（　　）。

8. 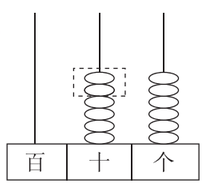

在十位上减 2 个珠子后，表示的数是（　　）。

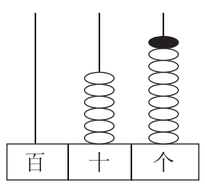

在个位上加 1 个珠子后，表示的数是（　　）。

二、估一估，选一选。（每题 3 分，共 9 分）



1. 估一估，在合适的 □ 里画“√”。

20 □　　40 □　　80 □

2. 10 个 10 个地数，有（　　）个 10 还多（　　）个，共有（　　）个。

3. 比它多得多的数可能是（在合适的 □ 里画“√”）

18 □　　45 □　　85 □

三、连一连。（共 11 分）

1. （4 分）

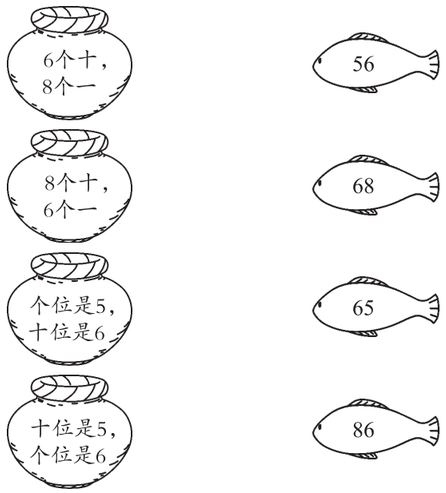

2. （7 分）

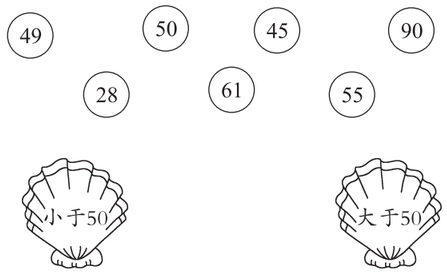

四、画一画。（共 8 分）

1. 看数画珠子。（3 分）

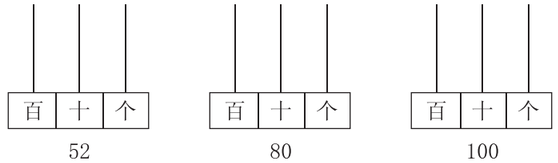

2. 画出用 5 个珠子表示的两位数，并写出来。（5 分）

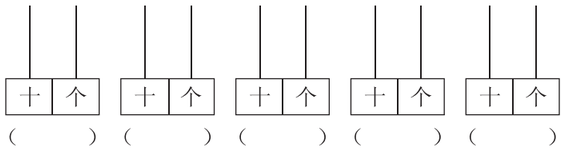

五、看图写算式。（每题 3 分，共 9 分）

1. 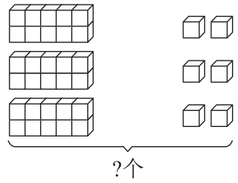

□ ○ □ = □（个）

2. 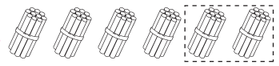

□ ○ □ = □（根）

3.

□ ○ □ = □（人）

六、填表。（8 分）

				
原有	37 个	90 支	76 支	（　　）个
卖出	30 个	（　　）支	（　　）支	20 个
还剩	（　　）个	20 支	6 支	8 个

七、在合适的答案下面画“√”。（共 4 分）



依依可能得了多少个优？（2 分）

12 个	22 个	28 个	52 个

壮壮可能得了多少个优？（2 分）

12 个	25 个	30 个	55 个

八、投飞镖。（共 10 分）

壮壮、淘淘和龙一鸣玩投飞镖游戏，每人投了 10 支镖，全部落到了圆盘上。每支镖投进小圆得 10 分，投进小圆外得 1 分。

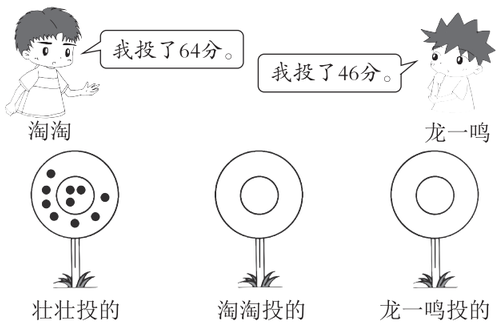

1. 在 中画“•”，分别表示淘淘和龙一鸣的成绩。（4 分）

2. 他们三人中，(　　)得分最高，(　　)得分最低。（2 分）

3. 圈出正确答案。（4 分）

(1)壮壮得分比龙一鸣(少一些　　少得多)。

(2)淘淘得分比壮壮(少得多　　多得多)。

九、解决问题。（共 17 分）

1.

淘淘和龙一鸣一共收集了多少个矿泉水瓶？（5 分）

2.



停车场还剩多少辆车？（4 分）

3.（8 分）



(1)数一数，左边树上有(　　)个苹果，右边树上有(　　)个苹果，一共有多少个苹果？（4 分）

(2)原来两棵树上有(　　)只鸟，飞走了(　　)只。

请你根据这两个条件，提出一个问题，再解答。（4 分）

附加题。（10 分）

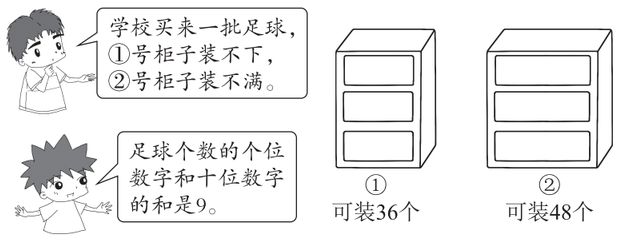

这批足球有多少个？

密　封　线

学校

班级

考号

姓名

密　封　线

第三单元达标卷

建议时间：50 分钟　满分：100 分 + 10 分

一、认一认，连一连。（10 分）

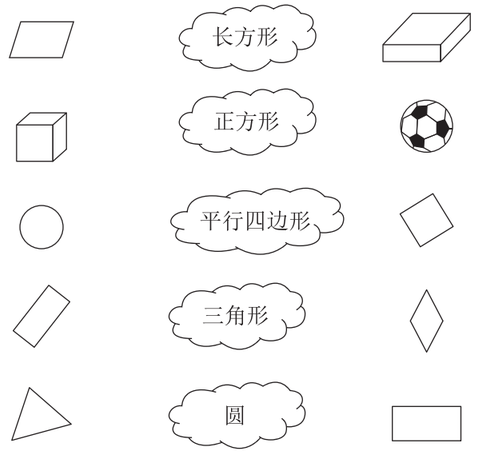

二、认一认，分一分。（10 分）



长方形　正方形　平行四边形　三角形　圆

三、认真填一填。（每空 1 分，共 12 分）

1. 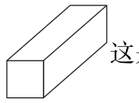 这是一个（　　），这个图形共有 6 个面，其中有 2 个面是（　　）形，有 4 个面是（　　）形。

2. 用 2 个□可以拼成 1 个（　　）形。用 2 个▭可以拼成 1 个（　　）形，还可以拼成 1 个（　　）形。

3. 至少用（　　）个 可以拼成一个大正方体。至少用（　　）个□可以拼成一个大正方形。

4. 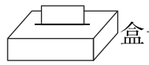 盒子里抽出来的图形可能是（　　）形，也可能是（　　）形。

5. 是用（　　）个△拼成的，至少再添（　　）个这样的△，可以拼成一个大三角形。

四、辨一辨。（对的画“√”，错的画“×”）（每题 1 分，共 5 分）

1. 三角形的三条边一定都相等。（　　）

2. 的上底面和下底面是两个相同的圆。（　　）

3. 两个三角形一定能拼成一个平行四边形。（　　）

4. 四个可以拼成一个圆。（　　）

5. 一张正方形纸对折后可以剪成两个相同的小正方形。（　　）

五、选一选。（将正确答案的序号填在括号里）（每题 2 分，共 10 分）

1. 数学课本的封面是（　　）。

①长方形　　②平行四边形　　③正方形

2. ____接下来应该摆（　　）。

①▭　　②□　　③▱

3. 能围成长方形的一组小棒是（　　）。

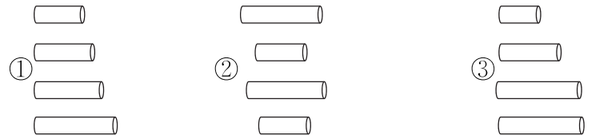

4. 用两个同样的 ，不能拼成（　　）。

①长方形　　②正方形　　③平行四边形

5. 能画出圆的物体是（　　）。

六、细心数一数。（共 21 分）

1. 数一数，填一填。（3 分）

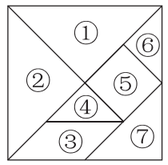

一副七巧板里有（　　）个三角形，其中（　　）号图形是正方形，（　　）号图形是平行四边形。

2. 数图形。（10 分）

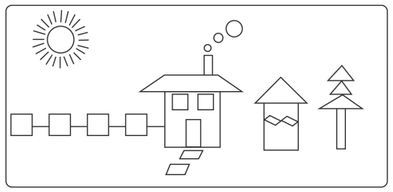

▭（　）个　□（　）个　△（　）个

▱（　）个　○（　）个

3. 你能数出几个？（8 分）

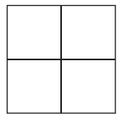

（　　）个正方形

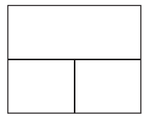

（　　）个长方形

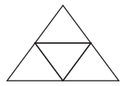

（　　）个三角形

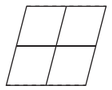

（　　）个平行四边形

七、右边的哪个物体能画出左边的图形？圈一圈。（8 分）

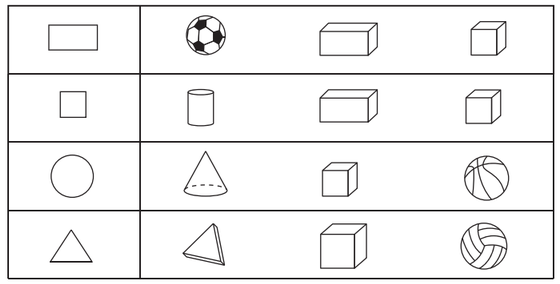

八、我会画。（共 12 分）

1. 添上一个同样大的长方形，拼成一个正方形。（3 分）



2. 添上一个同样大的三角形，拼成一个平行四边形。（3 分）

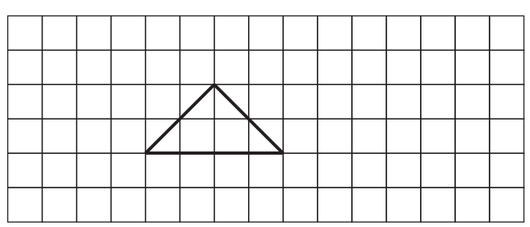

3. 请照样子分别画一个长方形、一个正方形、一个三角形，并涂上颜色。（6 分）

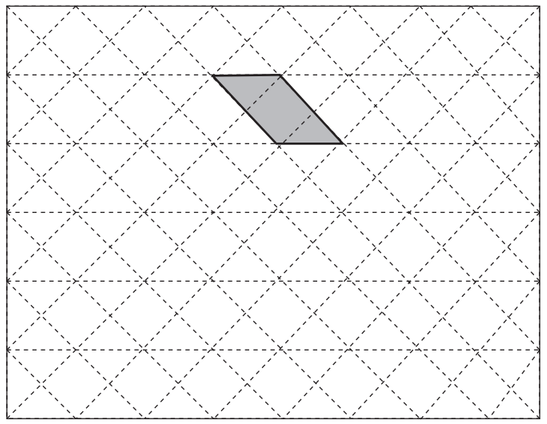

九、分一分，画一画。（每题 3 分，共 12 分）



分成4个相同的三角形



分成4个长方形

分成一个平行四边形和一个三角形

分成两个平行四边形

附加题。（10 分）

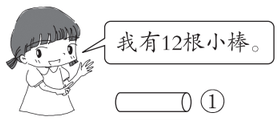

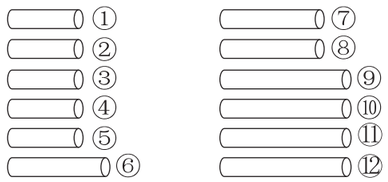

1. 如果依依选了④号、⑤号、⑥号小棒，可以摆成一个什么图形？（2 分）

2. 如果依依选了⑤号、⑥号、⑦号、⑧号小棒，她能摆成一个长方形吗？（2 分）

3. 依依要摆一个平行四边形，可以选哪几根小棒？（写序号）（3 分）

4. 依依如果要摆正方形，最多可以摆几个？（3 分）

密　封　线

参 考 答 案

第一单元达标卷

一、1. 分　时　2. 7　12　7　3. 10:00　12　10
　4. 6　12　5. 分　5　5
二、1.
　2.
三、~~12:00~~　~~12:00~~　快到~~7~~时　刚过~~11~~时
四、1. ①　③　④　②　2. ①　③　②　④
五、略
六、③　①　②　④　8　9　10　11
七、依依
八、兔子先到达终点。
九、爸爸大约 12 时到家。
十、苹苹　9 时整时针指向 9，分针应指向 12
附加题：一天有两个 12 时，中午 12 时，淘淘在吃饭，晚上 12 时，依依在睡觉。

第二单元达标卷

一、1. 十　百　2. 5　4　54
　3. 34　三十四　43　四十三
　4. 69　70　71　72　73
　5. 99　100
　6. 95　96
　7. 66　36、66　66、63、60
　8. 46　69
二、1. 40 [√]　2. 3　8　38　3. 85 [√]
三、1. 　2. 略
四、1. 略　2. 画珠子略　50　14　23　32　41
五、1. 30 + 6 = 36　2. 60 − 20 = 40　3. 24 − 4 = 20
六、7　70　70　28
七、依依 28 个　壮壮 12 个
八、1. 略　2. 淘淘　壮壮　3. (1)少一些　(2)多得多
九、1. 40 + 8 = 48(个)
　2. 36 − 6 = 30(辆)
　3. (1)20　9　20 + 9 = 29(个)
　(2)13　5　还剩多少只鸟？　13 − 5 = 8(只)
附加题：45 个

第三单元达标卷

一、
二、⑤⑨⑮⑲　③⑩⑪⑭⑳　②⑧⑰
　④⑥⑫⑯　①⑦⑬⑱
三、1. 长方体　正方　长方　2. 长方　长方　正方
　3. 8　4　4. 长方　正方　5. 5　4
四、1. ×　2. √　3. ×　4. √　5. ×
五、1. ①　2. ②　3. ②　4. ②　5. ③
六、1. 5　⑤　③　2. 4　7　4　4　4　3. 5　5　5　9
七、
八、略
九、略
附加题：1. 可以摆成一个三角形。　2. 不能摆成一个长方形。
　3. ① ② ⑦ ⑧(答案不唯一)　4. 2 个

第四单元达标卷

一、1. 2　5　7　30　7　37
　2. 30　50　80　80　2　82
　3. 8　3　5　60　5　65
　4. 60　30　30　30　8　38
　5. <　<　>　=　=　>　<　<
　6. 20　60　9　70　8　20　58　40
　7. (1)35　84　(2)29　88
二、1. ②　2. ①　3. ③　4. ①　5. ②　6. ①
三、1. 39　82　45　81　54；　14　59　18　63　59
　2. 68　18　25　19；　42　37　77　69
　3. (1)43 + 9　65 − 20　27 + 8　35 − 8
　(2)4 + 46　71 − 20　46 + 8　80 − 8
四、1. 36 + 20 = 56　2. 29 + 4 = 33
　3. 31 − 6 = 25　4. 18 + 3 = 21
五、11　11　81　53
六、1. (1)28 + 9 = 37　(2)35 − 9 = 26
　(3)答案不唯一，如：梨树和桃树一共有多少棵？
　9 + 35 = 44(棵)
　2. (1)26 + 8 = 34(分)
　(2)9 + 28 = 37(分) 壮壮套中的是①号和②号鱼缸。
　3. (1)40 − 4 = 36(个)　(2)55 − 40 = 15(个)
附加题：20 + 15 = 35(名)

第五单元达标卷

一、1. 1　2　5　6　5　6　80
　2. 30　50　2　14　100　5　6
　3. 10　2；100　10　2；　4
　4. >　<　=　>　>　<
　5. 角　分　元　元　角
　6. 6　5；　2；　2　5；　4　6
二、1. ②　2. ②　3. ③　4. ②　5. ②
三、1. 　2.
四、2 元　2 角　2 元
五、略
六、1. (1)50 − 6 = 44(元)
　(2)8 + 12 = 20(元)　够。
　(3)略
　2. (1)4 元　(2) 2 元 5 角　(3) 5
　3. (1)12 元 5 角 − 7 元 5 角 = 5 元
　淘淘抢得多，多 5 元。
　(2)12 元 5 角 + 7 元 5 角 = 20(元)
附加题：20 元 − 2 元 − 2 元 = 16 元

期中检测卷

一、1. 3　2　32　2. 56　五十六　3. 55　65　75　80　90　100
　4. 74　29　5. 三角　长方　圆柱　6. 9
　7. >　<　<　>　=　<
　8. 6　3　35　40　4　88　9. 20　11
　10. 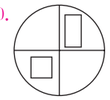
二、1. ②　2. ③　3. ②　4. ③　5. ①
三、1. 7　36　72　87　24　93　59　36　44　29　82　44
　47　29　76　63　14　74　27　51
　2. 略
四、1. 　 　2. 第三个画“√”
　3. 第一个、第三个和第四个画“√”
　4. 依依 48 个　壮壮 18 个
五、1. (1)4 张　4 张　8 张　(2)16　68
　(3)68 − 50 = 18(元)
　2. (1)38　20
　(2)答案不唯一，如：□比□多多少个？38 − 20 = 18(个)
六、1. (1)23 + 20 = 43(名)　(2)23 − 20 = 3(名)
　2. (1)32 − 9 = 23(个)　(2)32 − 20 = 12(个)
　(3)9<12　12 − 9 = 3(个)　依依得的优多，多 3 个。
附加题：91　81

第六单元达标卷

一、1. 对齐　个　2. 十　个　10　3. 18　45　50　4. 33　63
　5. >　>　<　>　<　=
　6. 16　26　20　30　37　50
　7. 66　18；　74　26；　80　44
二、1. ②　2. ③　3. ②　4. ①　5. ①
三、1. 42　37　87　16　38　68　44　32　44　30　70　22
　24　0
　2. 90　38　76　95　71　100　64　92　竖式略
　3. 93　77；87　79　83
　4. $\begin{array}{r} \boxed{3}\ 3 \\ +\ 3\ \boxed{8} \\ \hline 7\ 1 \end{array}$　$\begin{array}{r} 8\ \boxed{0} \\ -\ 1\ 8 \\ \hline \boxed{6}\ 2 \end{array}$　$\begin{array}{r} \boxed{5}\ \boxed{2} \\ -\ 2\ 6 \\ \hline 2\ 6 \end{array}$
四、83　33　18
五、1. 38 + 27 = 65　2. 40 − 12 = 28
　3. 38 + 28 + 18 = 84　4. 90 − 49 − 20 = 21
六、1. (1)56 + 27 = 83(只)
　(2)答案不唯一，如：鸡比鸭多多少只？
　56 − 27 = 29(只)
　2. 47 − 44 = 3(秒)　壮壮跑得快，快 3 秒。
　3. 2 + 59 = 61(人)　39 + 25 = 64(人)　61<64　能坐得下。
　4. 32 − 7 + 32 = 57(人)
　5. 29 + 29 = 58(人)　27 + 33 = 60(人)
　一班租 2 辆①号车，二班租 1 辆②号车和 1 辆③号车。
附加题：8 + 7 + 6 + 5 + 4 = 30(棵)

第七单元达标卷

一、1. 4 + 4 + 4 = 12　3　4　12　4×3 = 12　3×4 = 12
　2. 6 + 6 + 6 + 6 = 24　4　6　24
　4 + 4 + 4 + 4 + 4 + 4 = 24　6×4 = 24
　4×6 = 24
　3. 5×3　4×5　8×6
　4. 3×2　3 乘 2；7×9　7 乘 9
二、1. ③　2. ①　3. ①　4. ②　5. ①
三、略
四、2. 4×7　3. 10×2　6. 15×4
五、1 + 1 + 1 + 1；3 + 3 + 3；
　5 + 5 + 5 + 5 + 5 + 5 或 6 + 6 + 6 + 6 + 6；
　7 + 7 + 7 + 7 或 4 + 4 + 4 + 4 + 4 + 4 + 4
六、
七、1. 3×5 = 15　2. 5×3 = 15
　3. 8×2 = 16(或 8 + 8 = 16)　4. 15 − 5 − 5 = 5
八、1. 7×4 = 28(个)
　2. (1)2×3 = 6(棵)　(2)4×6 = 24(个)
　(3)答案不唯一，如：一共有多少只鸟？5×3 = 15(只)
　3. (1)6×2 = 12(本)　(2)6×3 = 18(本)
　4. 方法一：10 + 10 + 10 + 10 = 40(人)
　方法二：10×4 = 40(人)
附加题：5×6(或 10×3)；3×5；4×7；8×7；5×5