同步作业类

BS

黄冈小状元
达标卷

主编　万志勇

单元期中检测卷（共8卷）

分类专项复习（12卷含易错题卷）

标准化调考模拟试卷（2卷含答题卡）

三年级数学 下

最新修订

龍門書局 | 龙门品牌 · 学子至爱
www.longmenshuju.com

1.开学必备

3.升学复习

2.期末复习

4.假期学习

看一看，学习能帮你；扫一扫，购买更便利

关注龙门书局公众号

内含小程序，购书优惠又便利

语　文		数　学			英　语				
	R		R	BS		BJ	RP	WY	JK
一年级（上、下）		一年级（上、下）			一年级（上、下）				
二年级（上、下）		二年级（上、下）			二年级（上、下）				
三年级（上、下）		三年级（上、下）		★	三年级（上、下）				
四年级（上、下）		四年级（上、下）			四年级（上、下）				
五年级（上、下）		五年级（上、下）			五年级（上、下）				
六年级（上、下）		六年级（上、下）			六年级（上、下）				

ISBN 978-7-5088-3936-3

定　价：26.80 元

学校 □

班级 □

考号 □

姓名 □

密　封　线

第一单元达标卷

建议时间：60 分　满分：100 分＋10 分

一、填空。（每空 1 分，共 21 分）

1. 从 246 里连续减去 4，最多能减（　　）次。

2. 707÷7 的商是（　　）位数，648÷8 的商是（　　）位数。

3. □26÷8，如果商是两位数，□里最大能填（　　）；如果商的最高位是百位，□里最小能填（　　）。

4. 31□÷5，要使计算结果没有余数，方框中可以填（　　）或（　　）。

5. 一个数的 4 倍是 96，这个数的 5 倍是（　　）。

6. 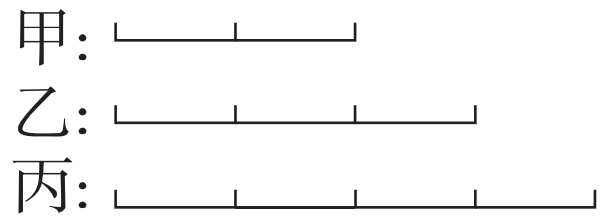

如图，如果乙表示 180，则甲表示（　　），丙表示（　　）。

7. 括号里最大填几？

4×（　　）＜36　　41＞7×（　　）

（　　）×9＜82　　8×（　　）＜60

8. 一共 72 个□，如果每 4 个铺成一行，可以铺（　　）行；如果铺成 6 行，每行可以铺（　　）个。

9. 在○里填上"＞""＜"或"＝"。

38÷2 ○ 48÷2　　108÷3 ○ 108÷5

360÷9 ○ 240÷6　　75÷5 ○ 96÷6

10. 依依和苹苹录入一份稿件，依依平均每分录入 105 个字，4 分录入了稿件的一半，剩下的由苹苹完成，苹苹比依依多用了 2 分，苹苹平均每分录入（　　）个字。

二、判断。（对的画"√"，错的画"×"）（每题 1 分，共 5 分）

1. 0 除以任何数都等于 0。（　　）

2. 328÷4 估算时，可以把 328 估成 320，也可以把 328 估成 330。（　　）

3. 67□÷2 若有余数，余数一定是 1。（　　）

4. 5□9÷5，要使商中间有 0，□里只能填 1～4。（　　）

5. 三位数除以一位数，商不可能是一位数。（　　）

三、选择。（把正确答案的序号填在括号里）（每题 1 分，共 5 分）

1. 要使 4□0÷3 的商末尾有一个 0，□里可以填（　　）。

A. 3　　B. 0　　C. 5

2. 下面算式中商最接近 70 的是（　　）。

A. 254÷4　　B. 492÷7　　C. 560÷7

3. 用 110 米的布做环保袋，每个环保袋用布 3 米，最多能做（　　）个环保袋。

A. 35　　B. 36　　C. 37

4. 有 61 个苹果，每盘最多装 6 个，至少要（　　）个盘子才能全部装完。

A. 10　　B. 11　　C. 12

5. 3 只燕子 4 天吃 600 只害虫，1 只燕子 4 天吃（　　）只害虫，3 只燕子 1 天吃（　　）只害虫。

A. 50　　B. 200　　C. 150

四、计算。（共 34 分）

1. 口算。（6 分）

24×3＝　　48÷4＝　　160÷8＝

80×4＝　　60÷5＝　　36÷3＝

75÷3＝　　88÷8＝　　90÷2＝

16×4＝　　120÷3＝　　105÷5＝

2. 用竖式计算。（带 * 的要验算）（12 分）

504 ÷ 5=　　*722 ÷ 3=

816 ÷ 4=　　*990 ÷ 9=

3. 计算下面各题。（8 分）

272÷(4×2)　　540÷4÷3

124×5÷4　　120＋171÷3

4. 森林医生。（4 分）



```
    1 2 0
4 ) 4 9 0
    4
    -----
      9
      8
    -----
      1
```

改正：



```
    2 0 5
3 ) 7 0 9
    6
    -----
    1   9
    1   5
    -----
        4
```

改正：

5. 圈一圈，算一算。（4 分）

464÷2＝

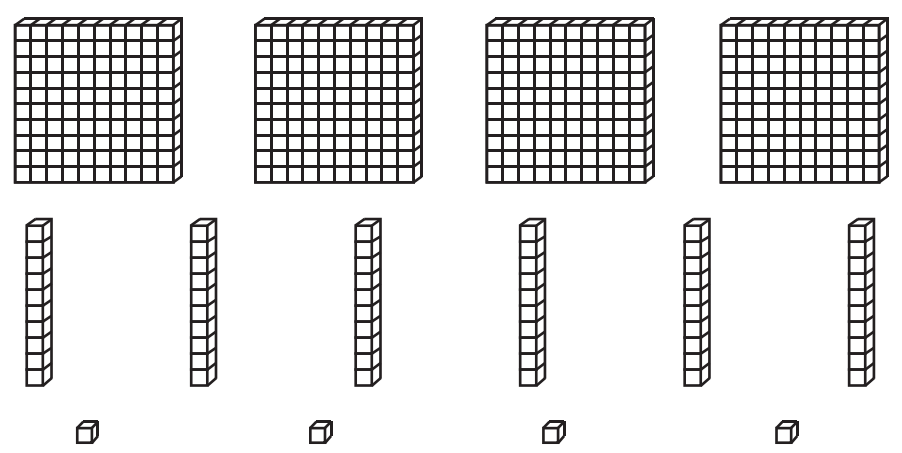

五、看图列式算一算。（共 4 分）

1.
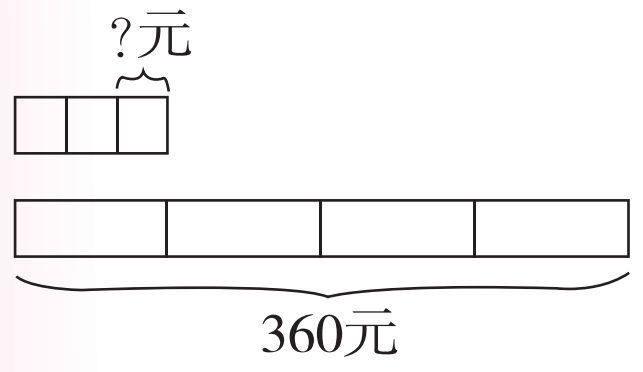

2.
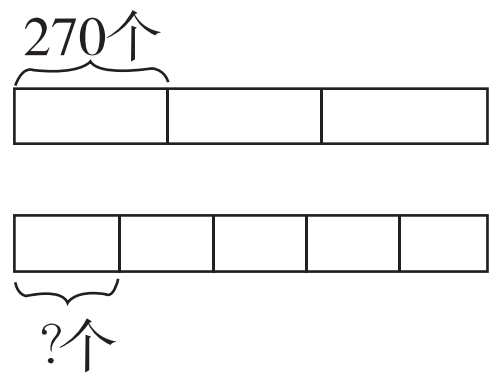

六、解决问题。（共 31 分）

1. 阳光小学六年级毕业生参加团体操表演，男生 490 人，女生 290 人，排成 6 种队形，平均每种队形多少人？（4 分）

2. 春节期间，谁平均每天收到的祝福短信多？（3 分）

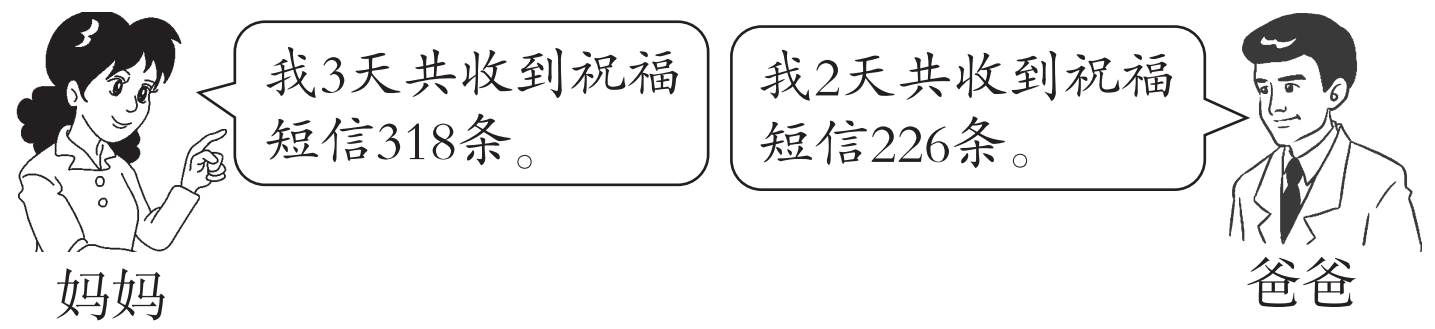
我3天共收到祝福短信318条。
我2天共收到祝福短信226条。
妈妈
爸爸

3. （6 分）

（1）壮壮在家和学校之间走了 2 个来回，共走了 960 米。壮壮家到学校有多远？

（2）壮壮所在的手工社团准备做一批手工，计划每天做 160 个，4 天完成。实际完成任务用了 5 天，实际平均每天做多少个？

4. 淘淘不小心把爸爸买树苗的清单弄脏了，你能帮他算一算柏树树苗的单价吗？（4 分）

树苗品种	单价	数量	总额
松树	32 元	9 棵	426 元
柏树	[illegible]	6 棵	

5. （6 分）

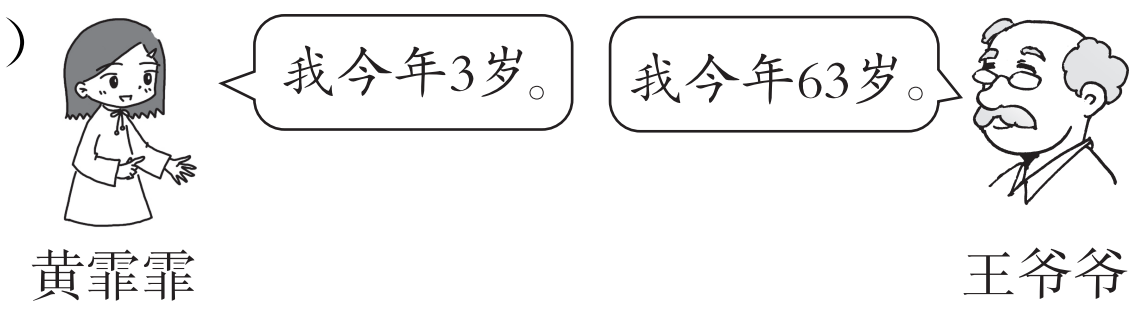
我今年3岁。
我今年63岁。
黄霏霏
王爷爷

（1）今年王爷爷的年龄是黄霏霏的多少倍？

（2）明年王爷爷的年龄是黄霏霏的多少倍？

6. 黄老师准备用 150 元钱来购买图书。（8 分）

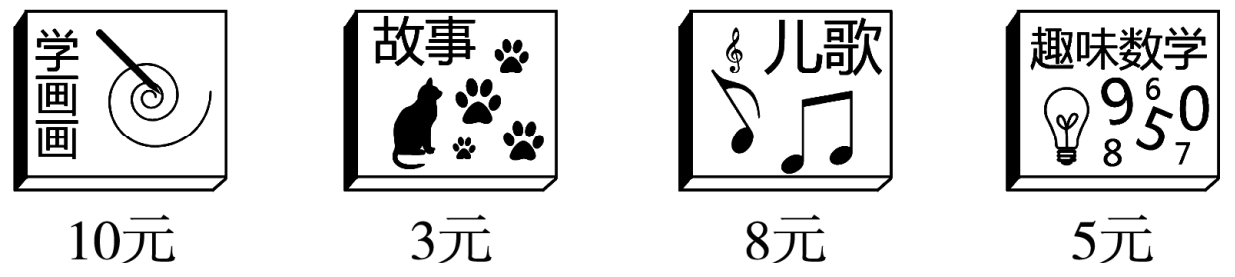
学画画
故事
儿歌
趣味数学
10元
3元
8元
5元

（1）买 26 本《故事》和 1 本《趣味数学》需要多少元？（2 分）

（2）黄老师买了 5 本《学画画》，剩下多少钱？剩下的钱可以买几本《儿歌》，还剩多少元？（2 分）

（3）用 150 元买书，还可以怎么买？请写出两种购买方案。（4 分）

附加题。（10 分）

在下面的□里填上合适的数。

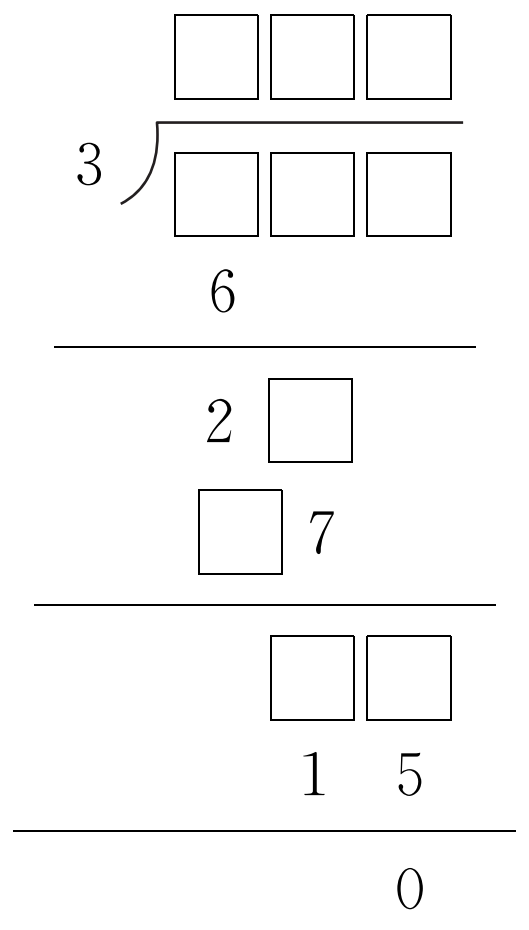

密
封
线

学校

班级

考号

姓名

密 封 线

第二单元达标卷

建议时间：60 分 满分：100 分＋10 分

一、填空。（每题 2 分，共 8 分）

1. 一个图形从中间分开，两边一样，这个图形就是（　　　　）图形。

2. 汽车在笔直的公路上行驶的过程中，车轮的运动是（　　　　）现象，车身的运动是（　　　　）现象。

3. 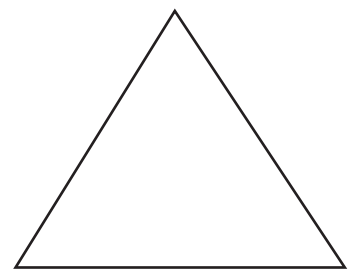 有（　　）条对称轴，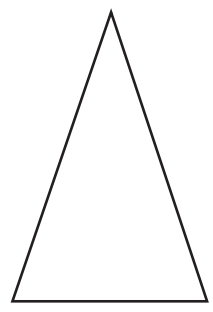 有（　　）条对称轴。

4. 依依从镜子里看到墙上的钟表是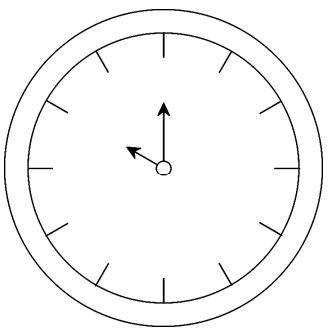，实际时刻应该是（　　　　）。

二、选择。（把正确答案的序号填在括号里）（每题 2 分，共 10 分）

1.  经过（　　）可以得到。

A. 轴对称　　B. 平移　　C. 旋转

2. 在长方形、平行四边形、三角形、梯形、正方形中，一定是轴对称图形的有（　　）个。

A. 2　　B. 3　　C. 4　　D. 5

3. 如图，把一张正方形纸对折后沿线剪开，得到的图形是（　　）。

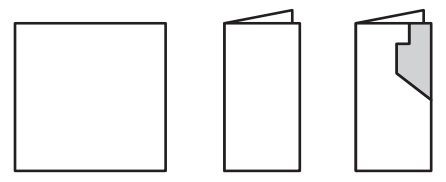

A. 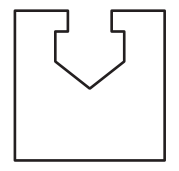　B. 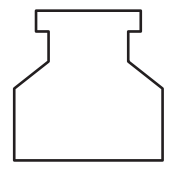　C. 

4. 图形①经过平移得到的图形是（　　）。

① 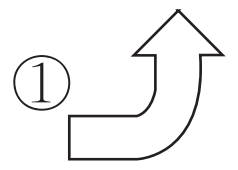　A. 　B. 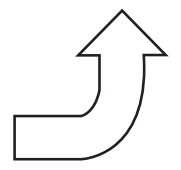　C. 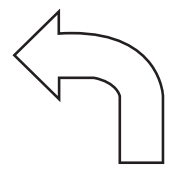　D. 

5. 下面的手帕缺了一角，选（　　）才能拼成一个完整的手帕。

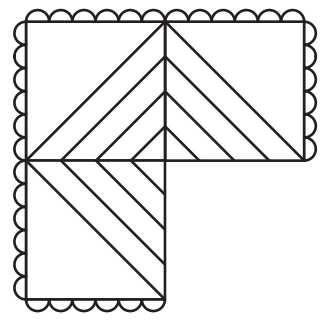

A. 　B. 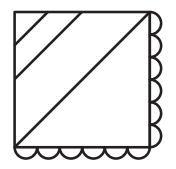　C. 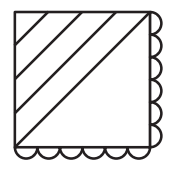　D. 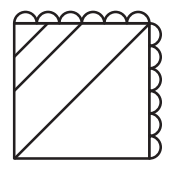

三、动手操作第一关。（共 20 分）

1. 下列图形、字母、数字、汉字中哪些是轴对称图形，在下面的括号里画“√”。（8 分）

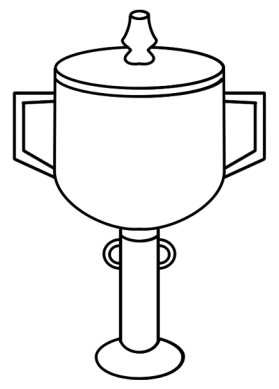　　元　旦

（　　）（　　）（　　）（　　）

A　G　0　1

（　　）（　　）（　　）（　　）

2. 画出下面图形的对称轴。（只画 1 条）（8 分）

　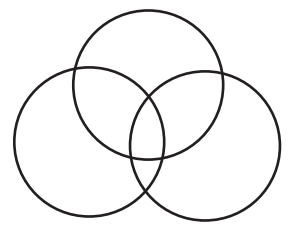

　

3. 下列物体的运动是平移的在□里画“△”，是旋转的画“○”。（4 分）

（1）电梯升降。　　（2）直升机螺旋桨的转动。

 □　 □

（3）排气扇的转动。　　（4）拉抽屉的运动。

 □　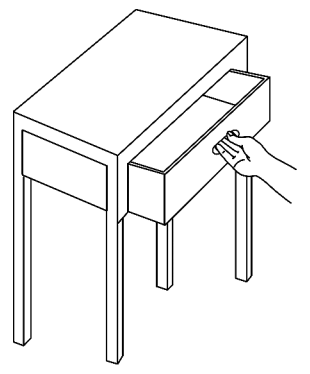 □

四、动手操作第二关。（共 28 分）

1. 下面的图形各是从哪张对折的纸上剪下来的？请连一连。（8 分）

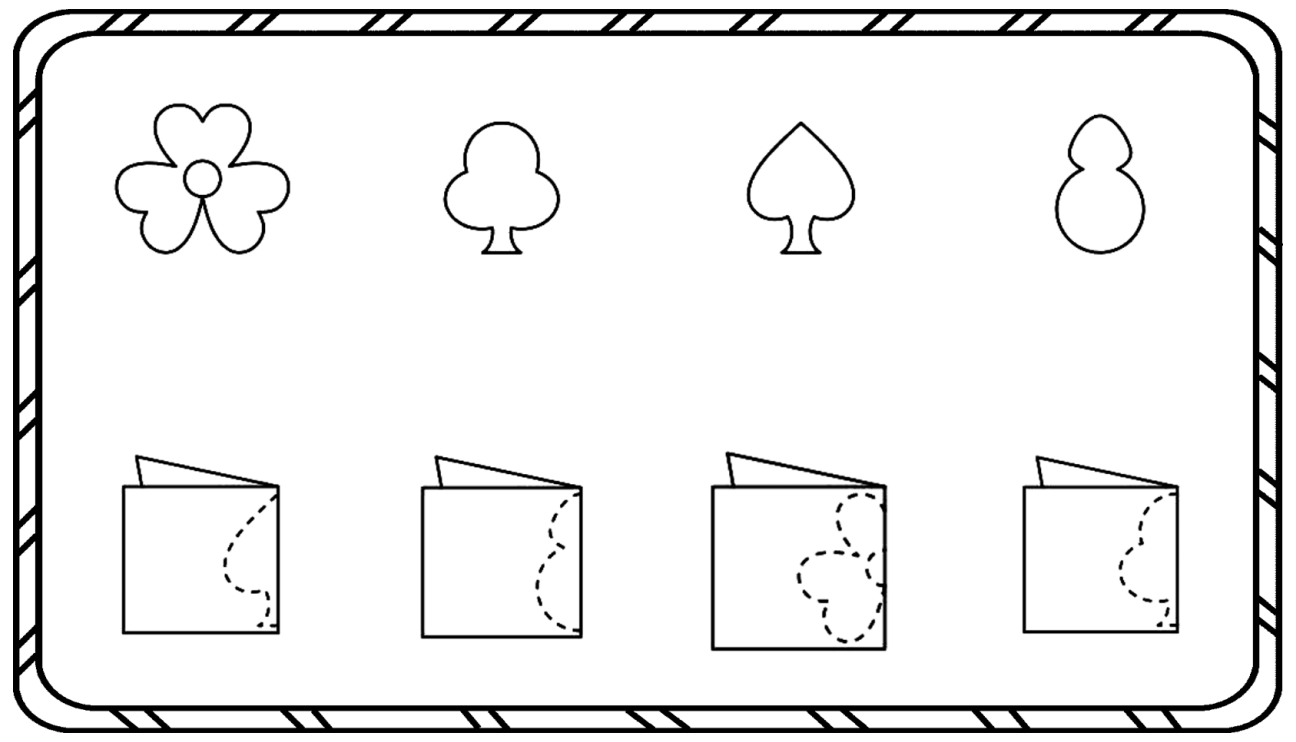

2. 画一画：请在方格纸上画出轴对称图形的另一半。（12 分）

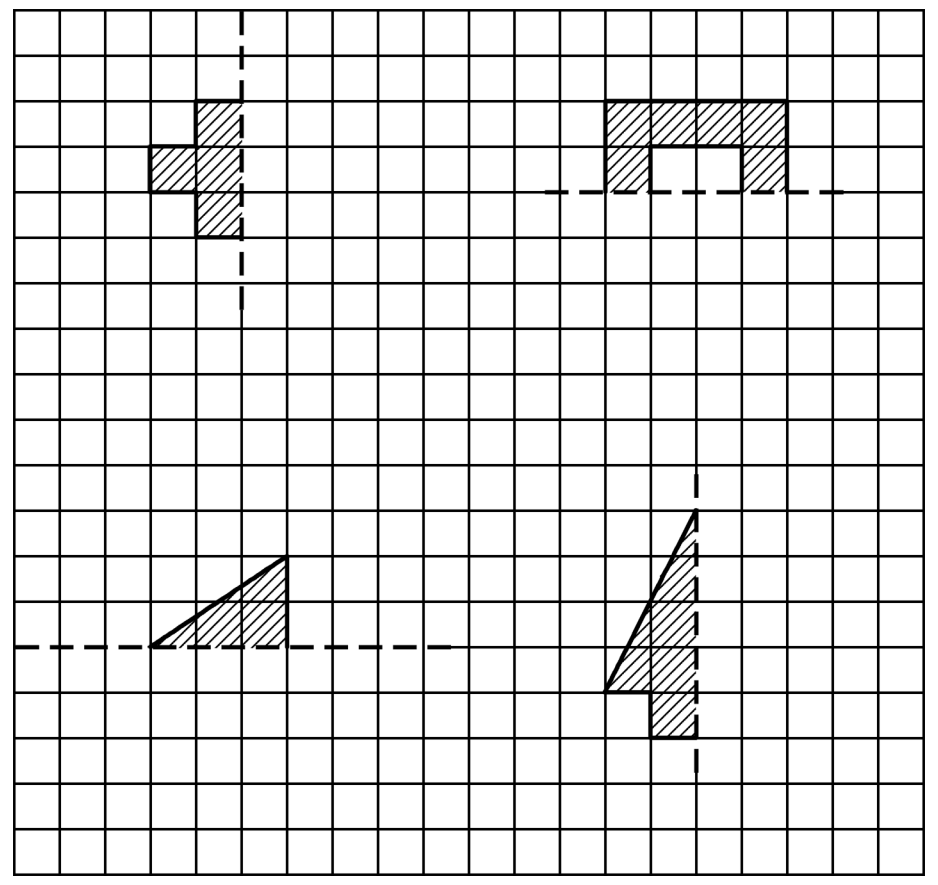

3. 涂一涂：哪些飞机通过平移与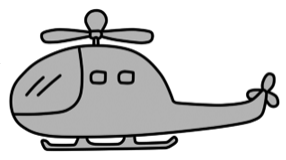重合，请涂上红色；哪些飞机是经过旋转得到的，请涂上蓝色。（6 分）

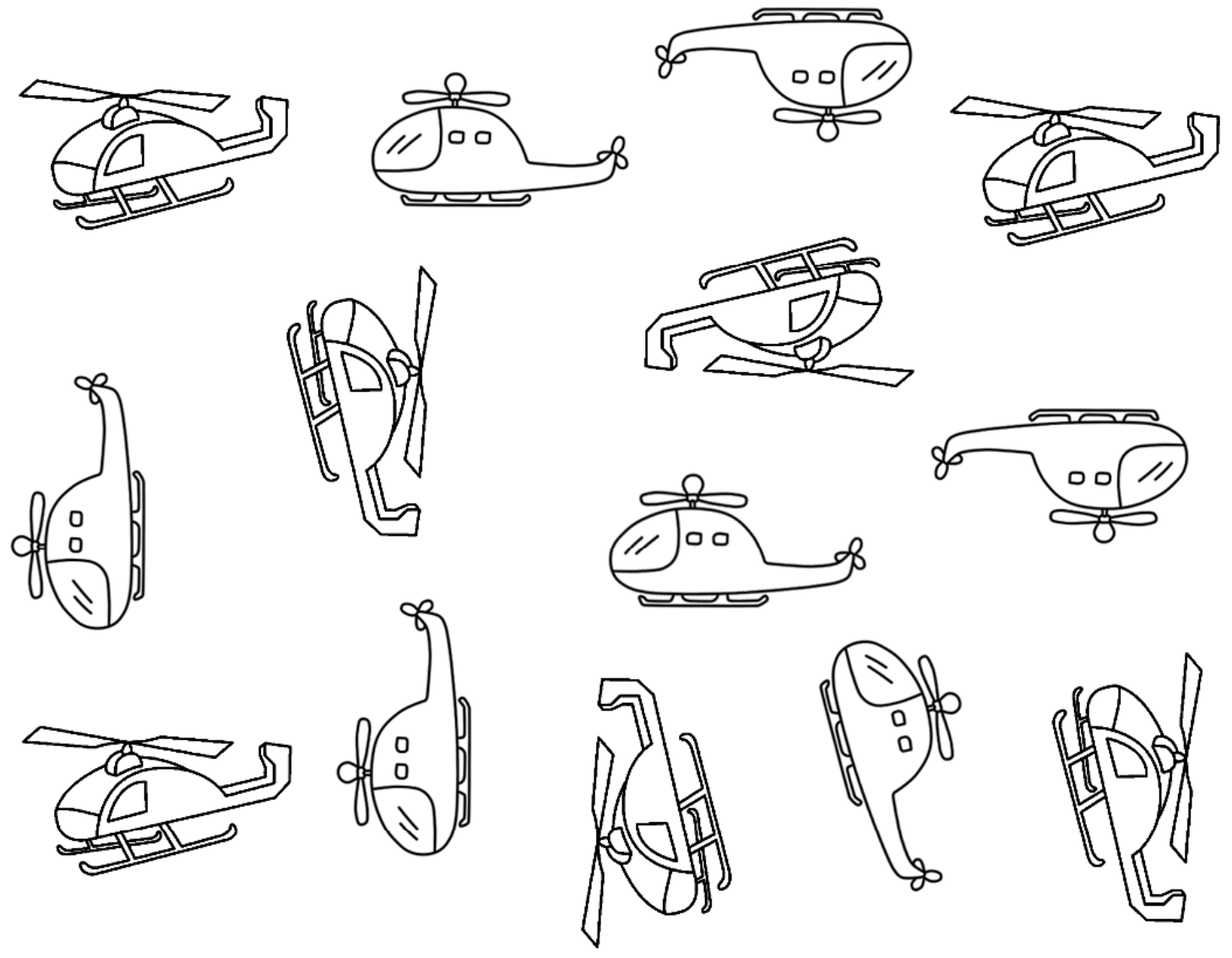

4. 请你通过平移让小猫回家，在方格图上画出路线图。（2 分）



五、动手操作第三关，按要求解决。（共 34 分）

1. 把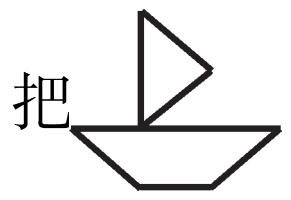向右平移 4 格后得到的图形涂上颜色。（2 分）

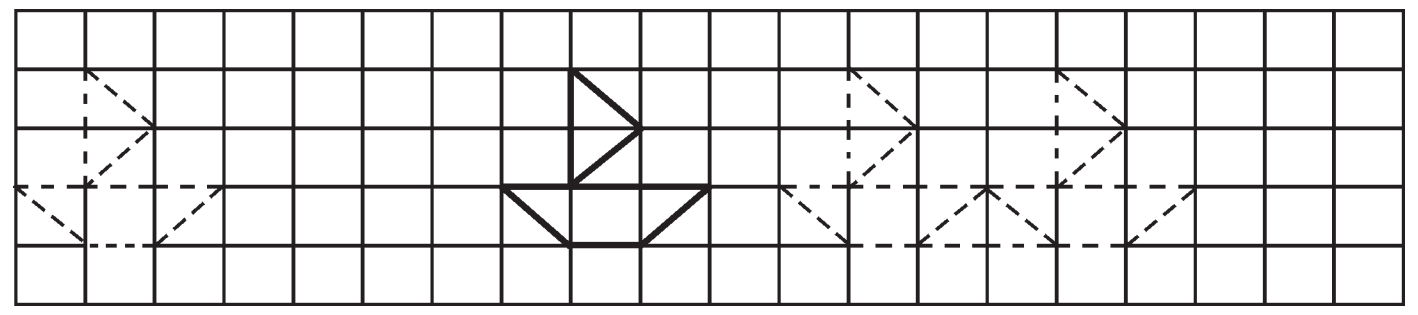

2. 分别画出三角形向左平移 4 格和向下平移 3 格的图形。（8 分）

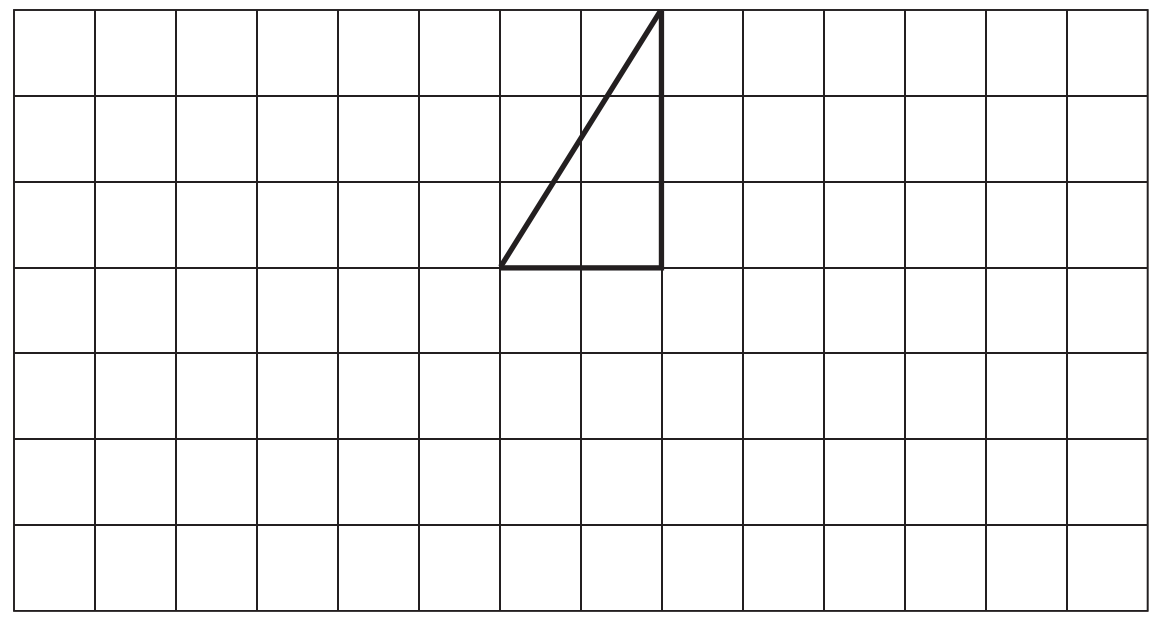

3. 移一移，描一描。（8 分）

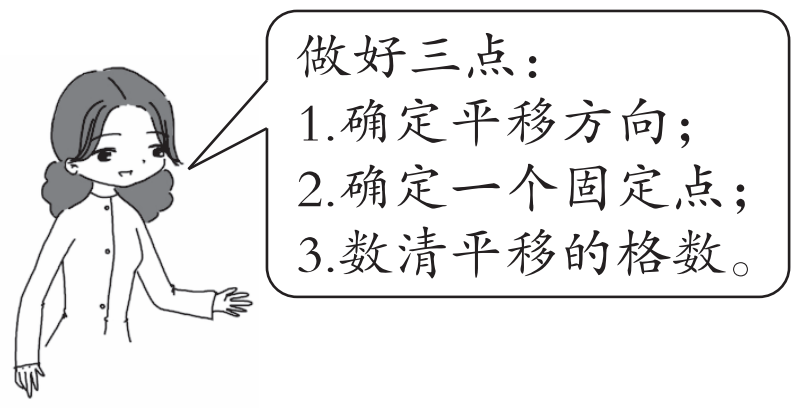
做好三点：
1.确定平移方向；
2.确定一个固定点；
3.数清平移的格数。

（1）把图形①向右平移 5 格。

（2）把图形②向左平移 7 格。

（3）把图形③向上平移 6 格。

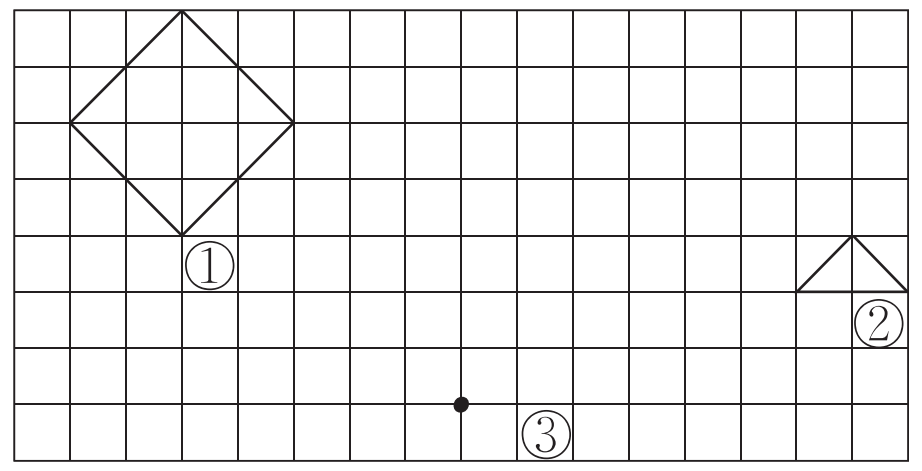

（4）拼出的图形像（　　　　）。

4. 移一移，填一填。（8 分）

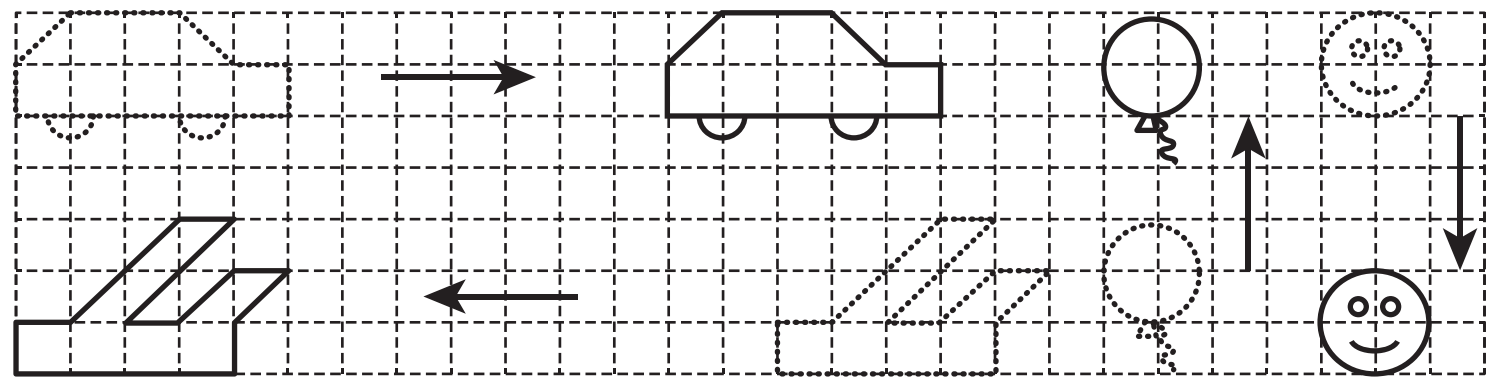

向____平移了____格。

向____平移了____格。

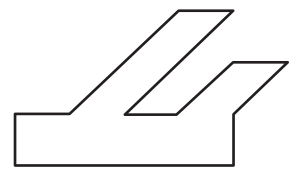向____平移了____格。

向____平移了____格。

5. 移一移，想一想。（8 分）

怎样才能铺满最下面两层？请写出你的方案。

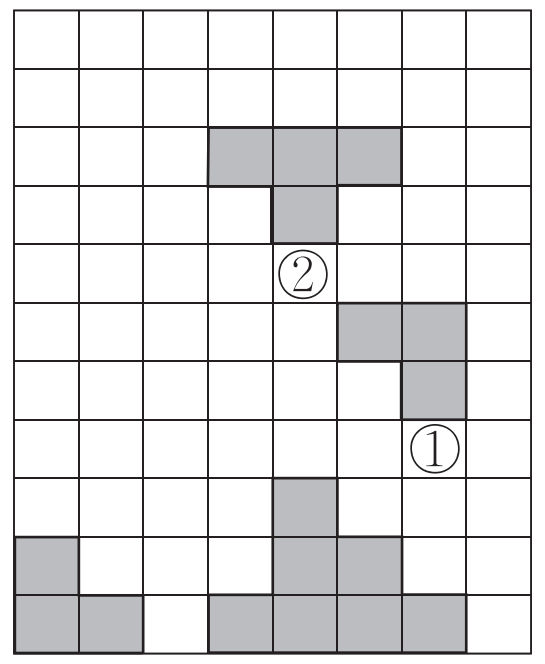

图①先向____平移____格，再向____平移____格；

图②先向____平移____格，再向____平移____格，

就能铺满最下面两层。

附加题。（10 分）

下图中每个小长方形的长都是 4cm，宽是 2cm，你能利用平移知识很快求出这个图形的周长吗？试着画一画，再算出来。

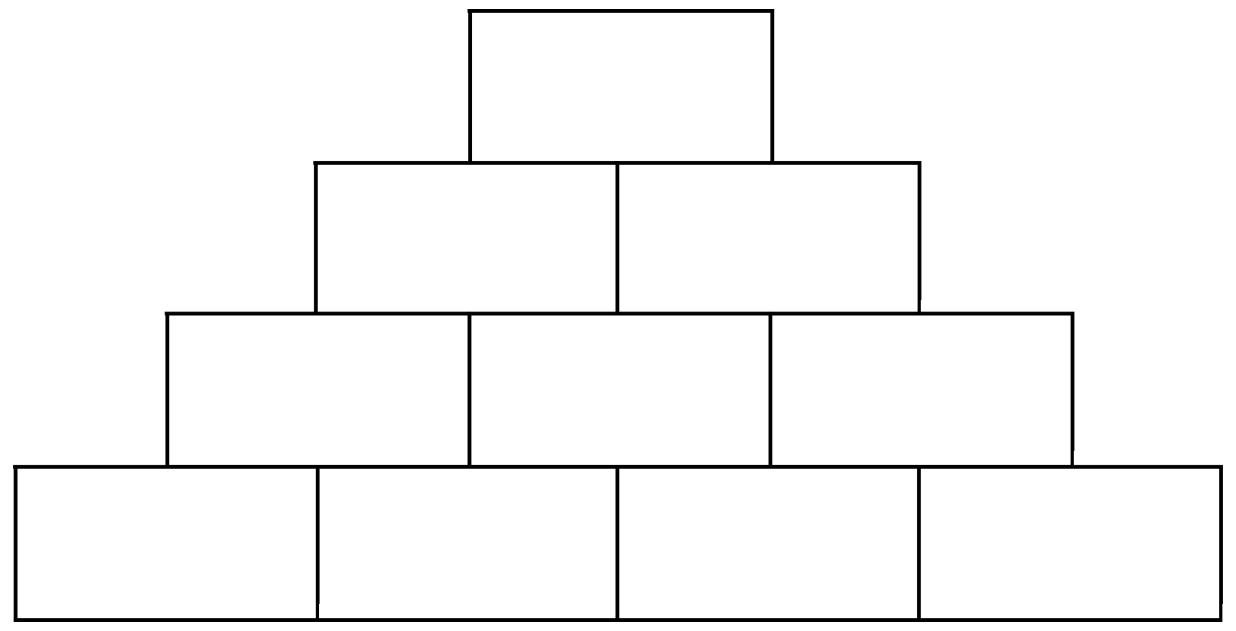

密
封
线

学校 □

班级 □

考号 □

姓名 □

密　封　线

第三单元达标卷

建议时间：60 分　满分：100 分＋10 分

一、填空。（每题 2 分，共 16 分）

1. 要使算式 4×10＋20÷5 按加法、乘法、除法的运算顺序进行计算，就要添（　　　　），算式变为（　　　　　　　　）。

2. 在（　　）里写出竖式每一步的意思。

```
  24
×32
  48 ……………………………………（24×2＝48）
 72  ……………………………………（　　　　　）
 768 ……………………………………（　　　　　）
```

3. 已知 12×6＝72，不计算，那么 12×60＝（　　），120×6＝（　　），120×60＝（　　），12×（　　）＝7200。

4. 48×55 的积的末位数字一定是（　　），估一估，它的积是（　　）位数。

5. □0×□0＝3600　　□0×□0＝4000

6. （　　）×20 的积的末尾有 2 个 0，括号里最小可以填（　　）；40×（　　）＜2800，括号里可以填的最大整数是（　　）。

7. 学校计划买 12 个书包送给贫困山区的孩子们，一个书包 38 元钱，大约需要（　　）元钱。

8. 最大的两位数与最小的两位数相乘的积是（　　），它是最大的一位数的（　　）倍。

二、判断。（对的画“√”，错的画“×”）（每题 1 分，共 5 分）

1. 两位数乘两位数，积是四位数或三位数。（　　）

2. 25＋38×12 读作 25 加上 38 的和乘 12。（　　）

3. 两个乘数的末尾都没有 0，所得的积的末尾一定也没有 0。（　　）

4. 两个乘数的积一定比这两个乘数都大。（　　）

5. 3□×51 的计算结果如果要最接近 1500，□里就只能填 1。（　　）

三、选择。（把正确答案的序号填在括号里）（每题 2 分，共 10 分）

1. 一个乘数乘 10，另一个乘数也乘 10，积就相当于原来的数（　　）。

A. 乘 10　　B. 不变

C. 乘 20　　D. 乘 100

2. 下面哪道算式的积最接近 4800？你的选择是（　　）。

A. 51×58　　B. 62×79　　C. 92×59

3. □3×11 的积最大是（　　）。

A. 1563　　B. 143　　C. 1023　　D. 无法确定

4. 小青蛙每次跳 12 格，它跳了 19 次，一共跳了多少格？正确列式是（　　）。

A. 12×(19＋1)　　B. 12×(19－1)　　C. 12×19

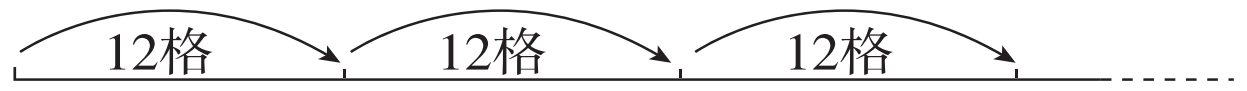

5. 根据规律，□中填（　　）。

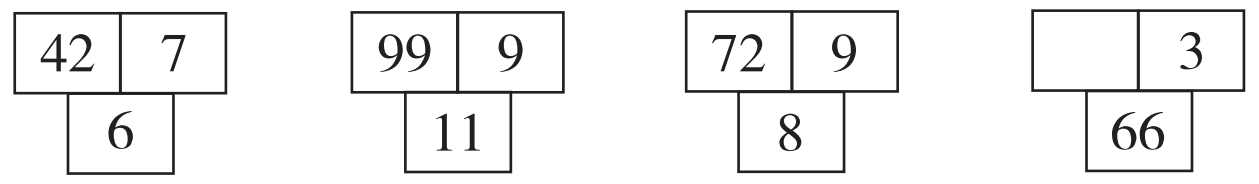

A. 22　　B. 188　　C. 198

四、计算。（共 39 分）

1. 口算。（6 分）

36×30＝	41×40＝	25×40＝
11×60＝	32×200＝	130×30＝
50×20＝	53×21≈	35×79≈
99×74≈	66×33≈	21×15≈

2. 用竖式计算。（12 分）

37×45＝　　19×22＝

52×35＝　　79×24＝

25×18＝　　88×33＝

3. 算一算，照样子再写出一组算式。（9 分）

7×5＝	14×4＝	7×9＝
70×5＝	14×40＝	________
70×50＝	140×40＝	________

4. 森林医生。（4 分）

$$\begin{array}{r} 32 \\ \times\ 33 \\ \hline 96 \\ 96 \\ \hline 192 \end{array}$$

改正：

$$\begin{array}{r} 54 \\ \times\ 64 \\ \hline 216 \\ 3024 \\ \hline 30456 \end{array}$$

改正：

5. 按要求计算。（8 分）

（1）圈一圈，算一算。

15×12=□



（2） 52×16=□

×	50	2
10		

□○□○□○□=□

五、解决问题。（每题 6 分，共 30 分）

1. 小牛的体重是 15 千克，牛妈妈的体重是小牛的 18 倍，牛爸爸的体重是小牛的 27 倍。牛妈妈和牛爸爸的体重各是多少千克？

2. 龙一鸣两天共写了多少个大字？

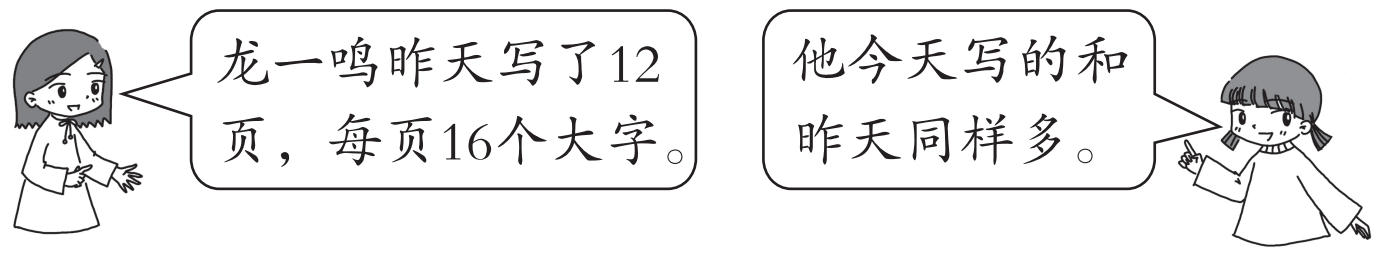
龙一鸣昨天写了12页，每页16个大字。
他今天写的和昨天同样多。

3. 育英小学五、六年级同学去植树，五年级有 12 个班，六年级有 14 个班，平均每班植树 48 棵，两个年级一共植树多少棵？

4.

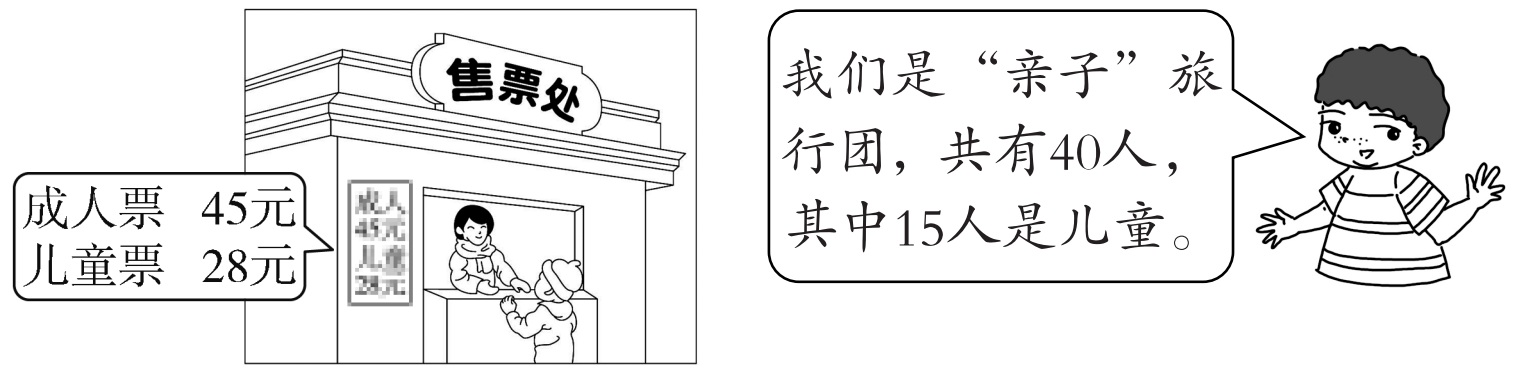
售票处
成人票 45元
儿童票 28元
成人 45元 儿童 28元
我们是“亲子”旅行团，共有40人，其中15人是儿童。

（1）购买成人票需要多少元？

（2）购票一共花了多少元？

5. 每辆汽车每时约行驶 65 千米。

（1）①号车从甲地出发，向北行驶 3 时到达目的地，同时②号车从乙地出发，向南行驶 4 时到达目的地，此时两车相距多少千米？

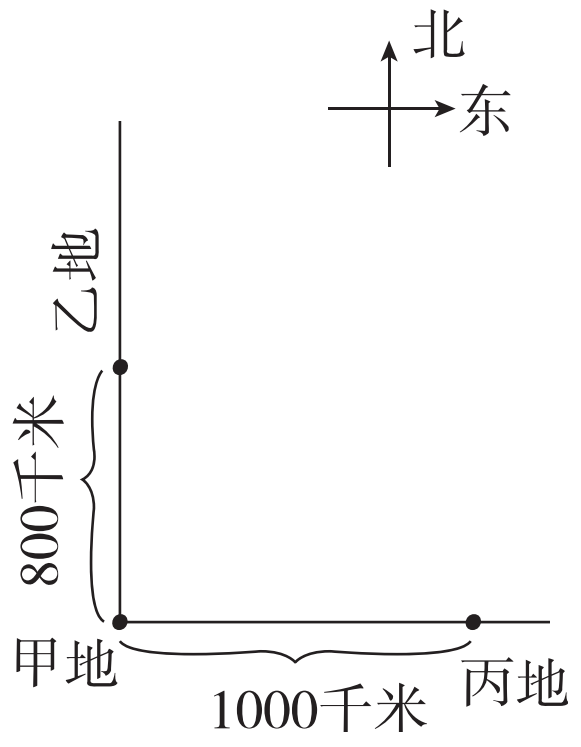
北
东
乙地
800千米
甲地
1000千米
丙地

（2）③号车从甲地出发，向东行驶了 500 千米后休息片刻，又继续向东行驶了 6 时，大约在什么位置？用“△”表示出来，此时距丙地多少千米？

附加题。（10 分）

把下面的竖式补充完整。

$$\begin{array}{r} \square\,\square \\ \times\ \square\ 9 \\ \hline 3\,\square\,6 \\ 1\,\square\,6 \\ \hline 1\,\square\,\square\,6 \end{array}$$

密

封

线

参考答案

第一单元达标卷

一、1. 61　2. 三　两　3. 7　8　4. 0　5　5. 120
6. 120　240　7. 8　5　9　7　8. 18　12
9. <　>　=　<　10. 70

二、1. ×　2. √　3. √　4. ×　5. √

三、1. C　2. B　3. B　4. B　5. B　C

四、1. 72　12　20　320　12　12　25　11　45　64　40　21
2. 100……4　240……2　204　110　竖式及验算略
3. 34　45　155　177
4.

$$\begin{array}{rccc}
 & 1 & 2 & 2 \\ \cline{2-4}
4) & 4 & 9 & 0 \\
 & 4 & & \\ \cline{2-4}
 & & 9 & \\
 & & 8 & \\ \cline{2-4}
 & & 1 & 0 \\
 & & & 8 \\ \cline{2-4}
 & & & 2
\end{array}
\qquad
\begin{array}{rccc}
 & 2 & 3 & 6 \\ \cline{2-4}
3) & 7 & 0 & 9 \\
 & 6 & & \\ \cline{2-4}
 & 1 & 0 & \\
 & & 9 & \\ \cline{2-4}
 & & 1 & 9 \\
 & & 1 & 8 \\ \cline{2-4}
 & & & 1
\end{array}$$

5. 232　圈一圈略

五、1. 360÷4÷3=30(元)
2. 270×3÷5=162(个)

六、1. (490+290)÷6=130(人)
2. 妈妈：318÷3=106(条)
爸爸：226÷2=113(条)　106 条<113 条　爸爸收到的多。
3. (1)960÷2÷2=240(米)
(2)160×4÷5=128(个)
4. (426−32×9)÷6=23(元)
5. (1)63÷3=21　(2)(63+1)÷(3+1)=16
6. (1)26×3+5=83(元)
(2)150−5×10=100(元)　100÷8=12(本)……4(元)
(3)方案一：150÷3=50(本)
方案二：150÷5=30(本)
可以买 50 本《故事》或买 30 本《趣味数学》。(答案不唯一)

附加题：

$$\begin{array}{rccc}
 & \boxed{2} & \boxed{9} & \boxed{5} \\ \cline{2-4}
3) & \boxed{8} & \boxed{8} & \boxed{5} \\
 & 6 & & \\ \cline{2-4}
 & 2 & \boxed{8} & \\
 & \boxed{2} & 7 & \\ \cline{2-4}
 & & \boxed{1} & \boxed{5} \\
 & & 1 & 5 \\ \cline{2-4}
 & & & 0
\end{array}$$

第二单元达标卷

一、1. 轴对称　2. 旋转　平移
3. 3　1　4. 2:00

二、1. C　2. A　3. B　4. B　5. C

三、1. (√)(√)(　)(√)(√)(　)(√)(　)
2. 略
3. (1)$\boxed{\triangle}$　(2)$\boxed{\bigcirc}$　(3)$\boxed{\bigcirc}$　(4)$\boxed{\triangle}$

四、1.

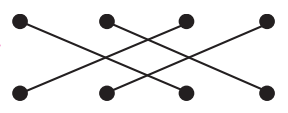

2. 略　3. 略　4. 略

五、1. 从左往右第 2 条小船涂上颜色(本身除外)。
2. 略
3. (1)(2)(3)略　(4)小鱼
4. 右　12　左　14　上　4　下　5
5. 右　1　下　4　左　2　下　7

附加题：
4×4=16(cm)　2×4=8(cm)　(16+8)×2=48(cm)

第三单元达标卷

一、1. 括号　4×(10+20)÷5
2. 24×30=720　48+720=768
3. 720　720　7200　600　4. 0　四
5. 4　9(或 6　6)　5　8
6. 5　69　7. 480(答案不唯一)　8. 990　110

二、1. √　2. ×　3. ×　4. ×　5. ×

三、1. D　2. B　3. C　4. C　5. C

四、1. 1080　1640　1000　660　6400　3900
1000　1000　3200　7400　2100　300
(估算答案不唯一)
2. 1665　418　1820　1896　450　2904　竖式略
3. 35　56　63
350　560　7×90=630(或 70×9=630)
3500　5600　70×90=6300
4.

$$\begin{array}{cccc}
 & & 3 & 2 \\
 & \times & 3 & 3 \\ \hline
 & & 9 & 6 \\
 & 9 & 6 & \\ \hline
1 & 0 & 5 & 6
\end{array}
\qquad
\begin{array}{cccc}
 & & 5 & 4 \\
 & \times & 6 & 4 \\ \hline
 & 2 & 1 & 6 \\
3 & 2 & 4 & \\ \hline
3 & 4 & 5 & 6
\end{array}$$

5. (1)180　圈一圈略
(2)832

×	50	2
10	500	20
6	300	12

500+300+20+12=832

五、1. 牛妈妈：15×18=270(千克)　牛爸爸：15×27=405(千克)
2. 12×16×2=384(个)
3. (12+14)×48=1248(棵)
4. (1)(40−15)×45=1125(元)　(2)1125+15×28=1545(元)
5. (1)65×(3+4)=455(千米)　800−455=345(千米)
(2)500+65×6=890(千米)　1000−890=110(千米)
标位置略

附加题：

$$\begin{array}{cccc}
 & & \boxed{3} & \boxed{4} \\
 & \times & \boxed{4} & 9 \\ \hline
 & 3 & \boxed{0} & 6 \\
1 & \boxed{3} & 6 & \\ \hline
1 & \boxed{6} & \boxed{6} & 6
\end{array}$$

期中检测卷

一、1. 1044　261　2. 两　四　3. 1782
4. 10　5. 48　6. 6　6
7. >　>　=　=　8. ①④⑤　②③⑥
9. 3000(答案不唯一)　10. 644

二、1. ×　2. √　3. √　4. ×　5. ×

三、1. B　2. C　3. A　4. A　5. C

四、1. 480　880　300　30　720　123
780　101　0　60　1200　70
2. 140　1904　648　65……7　竖式及验算略
3. 12　4200　700　60
4.

$$\begin{array}{rccc}
 & 3 & 8 & 1 \\ \cline{2-4}
2) & 7 & 6 & 3 \\
 & 6 & & \\ \cline{2-4}
 & 1 & 6 & \\
 & 1 & 6 & \\ \cline{2-4}
 & & & 3 \\
 & & & 2 \\ \cline{2-4}
 & & & 1
\end{array}
\qquad
\begin{array}{ccc}
 & 3 & 2 \\
\times & 3 & 1 \\ \hline
 & 3 & 2 \\
9 & 6 & \\ \hline
9 & 9 & 2
\end{array}$$

五、1.

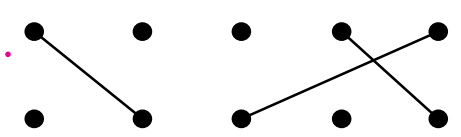

2. 略

六、1. 72×4÷3=96(本)
2. 603÷3×5=1005(棵)

七、1. 32×5÷4=40(厘米)　40 厘米=4 分米
2. (285−5)÷8=35(千米)
3. 80×4÷5=64(千米)
4. (1)480÷8÷4=15(瓶)　(2)15×4×3=180(瓶)
5. (1)女生：55×16=880(元)　男生：65×24=1560(元)
(2)880+1560=2440(元)　2500 元>2440 元　够。
6. (1)39×16=624(元)　(2)90÷(45−39)=15(元)
(3)(16−13)×45=135(元)

附加题：
72÷(9−6)=24　24×26=624

第四单元达标卷

一、1. 克　千克　吨
2. kg　g　1kg　1000g
3. 4　4t　4. kg　g　5. 5　10

二、1. ×　2. ×　3. √　4. ×　5. ×

三、1. A　2. B　3. C　4. B　5. C

四、1. 千克　千克　克　千克　克　吨
2. 200g　2kg　305g　30kg
3.

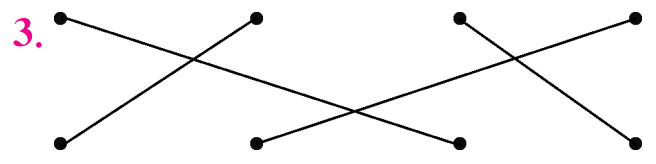

五、1. 2000　5000　3　10000
8　4000　7　6　6000　(﹏﹏处答案不唯一)
2. <　>　=　>
3. 克　克　千克　千克　吨
4. 100　20　40

六、1. 140×50=7000(克)　7000 克=7 千克
2. 96÷(2×4)=12(次)
3. 2 千克=2000 克
(1)2000÷4=500(克)　(2)2000÷5=400(克)
4. (1)36+5=41(千克)
(2)壮壮　龙一鸣　依依
5. (1)900×5=4500(千克)　4500 千克<5 吨　能。
(2)800×7=5600(千克)　5600 千克>5 吨　不能。
(3)900×3+800×2=4300(千克)　4300 千克<5 吨　能。
6. 340×3+350×2+300=2020(千克)

附加题：
小杯：(160−120)÷(6−4)=20(克)
大杯：120−20×4=40(克)

第五单元达标卷

一、1. 2　4
2. 统一　平方米　平方分米　平方厘米
3. 24 平方厘米
4. 1 厘米　10
5. 24　32
6. 9　24　5000　600
7. 米　平方分米　平方厘米　平方厘米
8. 体育　音乐　美术

二、1. √　2. ×　3. ×　4. ×　5. ×

三、1. C　2. A　3. C　4. A　5. A

四、1. 周长：(3+2)×2=10(cm)
面积：3×2=6(cm^2)
周长：2×4=8(cm)
面积：2×2=4(cm^2)
2. 3×9×2−3×3=45(平方厘米)

五、1. 略
2. (1)20÷2=10(厘米)

长/厘米	9	8	7	6	5
宽/厘米	1	2	3	4	5
周长/厘米	20	20	20	20	20
面积/平方厘米	9	16	21	24	25

(2)略

六、1. 80÷4=20(米)　20×20=400(平方米)
2. (1)$3m^2=300(dm^2)$　300÷20=15(dm)
(2)129×3=387(元)
3. 8×4−2×2×2=24(平方米)
4. (1)26×26=676(平方米)　(2)(60−26)×26=884(平方米)
5. (1)120×3+108×2=576(元)
(2)买 5 大盒和 1 小盒最省钱。
6. (1)3×4×72=864(平方分米)　(2)864÷(3×3)=96(块)
(3)A 种：96×6=576(元)　B 种：72×9=648(元)
576 元<648 元　A 种地砖比较划算。

附加题：
40÷2=20(个)　17÷2=8(个)……1(厘米)　20×8=160(张)

第六单元达标卷

一、1. 九分之五　5　2. $\frac{6}{7}$　5
3. 6　4　10　9　9(﹏﹏处答案不唯一)
4. $\frac{1}{8}$　$\frac{5}{8}$　5. $\frac{3}{5}$　$\frac{2}{5}$　$\frac{1}{5}$　6. 4　3
7. 4　$\frac{1}{4}$　8. $\frac{1}{4}$　$\frac{1}{16}$
9. $\frac{4}{12}$　$\frac{1}{12}$　$\frac{3}{12}$　$\frac{2}{12}$　10. $\frac{3}{9}$

二、1. ×　2. ×　3. ×　4. ×　5. √

三、1. C　2. A　3. B　4. A　5. A

四、$\frac{5}{8}$　$\frac{3}{7}$　0　1　$\frac{3}{6}$　$\frac{5}{7}$
$\frac{4}{6}$　0　1　1　1　6(﹏﹏处答案不唯一)　4

五、1. $\frac{1}{4}$　涂色略　$\frac{3}{8}$　涂色略　$\frac{1}{4}$　涂色略
2. 略
3. 涂一涂略　$\frac{2}{6}<\frac{2}{5}$　$\frac{3}{8}<\frac{4}{8}$

六、1. (1)$\frac{2}{8}$　(2)$\frac{6}{8}$　(3)$\frac{4}{8}$
2. (1)$\frac{4}{8}+\frac{3}{8}=\frac{7}{8}$　(2)$\frac{4}{4}-\frac{1}{4}=\frac{3}{4}$　(3)$1-\frac{1}{6}=\frac{5}{6}$

七、1. $1-\frac{1}{7}-\frac{3}{7}=\frac{3}{7}$
2. (1)$\frac{2}{7}+\frac{2}{7}=\frac{4}{7}$　(2)$1-\frac{4}{7}=\frac{3}{7}$
3. (1)$\frac{3}{8}+\frac{2}{8}=\frac{5}{8}$　(2)$1-\frac{5}{8}=\frac{3}{8}$
4. (1)$\frac{5}{8}+\frac{1}{8}=\frac{6}{8}$　(2)$\frac{5}{8}-\frac{1}{8}=\frac{4}{8}$
5. (1)9　(2)$\frac{4}{9}$　$\frac{5}{9}$　(3)略

附加题：
1. 4、5、6、7、8
2. $1-\frac{2}{4}+\frac{1}{4}-\frac{2}{4}=\frac{1}{4}$

第七单元达标卷

一、1. (1)乒乓球　篮球　(2)9　8　(3)35　(4)略　(5)乒乓球
2. (1)4　8　(2)4　(3)六　一　(4)13　(5)六　日
3. (1)春　夏　(2)15　11　(3)3　(4)春　(5)40

二、1. (1)C　(2)C　(3)D　(4)A
2. (1)A　(2)B　(3)A

三、1. (1)梨　(2)11+5+9+12=37(人)　(3)略
2. 略
3. (1)略　(2)5 人　(3)略
4. (1)略　(2)4　4　7　5　4　(3)24 人

附加题：
1. 略　2. 1　3　10　6　3. 略　4. 略

分类专项复习卷(一)

一、1. 3　108　1080　1080　2. 2　8　3. 5　6、7、8、9
4. 270　9　5. 5 或 0

二、1. √　2. ×　3. ×　4. √　5. ×

三、1. D　2. A　3. B　4. C　5. C

四、1. 900　167……2　882　30……8　竖式及验算略
2. 80　150
3. 211　圈一圈略

五、1. (1000−460)÷5=108(张)
2. 3×7×27=567(页)　567 页<650 页　看不完。
650−567=83(页)