1.开学必备

3.升学复习

2.期末复习

4.假期学习

防伪标使用说明

刮开 涂层，用“状元共享课堂 APP”首页扫码工具扫描防伪标二维码，验证显示正版后，可绑定图书使用相应数字资源；也可在以下网址中输入 16 位数字密码验证：http://www.longmenshuju.com/enterCheckCode.jspx。

无此防伪标签皆为盗版，敬请留意

语　文		数　学			英　语				
	R		R	BS		BJ	RP	WY	JK
一年级（上、下）		一年级（上、下）			一年级（上、下）				
二年级（上、下）		二年级（上、下）			二年级（上、下）				
三年级（上、下）		三年级（上、下）			三年级（上、下）				
四年级（上、下）		四年级（上、下）	★		四年级（上、下）				
五年级（上、下）		五年级（上、下）			五年级（上、下）				
六年级（上、下）		六年级（上、下）			六年级（上、下）				

看一看，学习能帮你；扫一扫，购买更便利

关注龙门书局公众号

内含小程序，购书优惠又便利

ISBN 978-7-5088-1064-5

定　价：26.80 元

同步作业类

R

黄冈小状元 达标卷

主编　万志勇

单元期中检测卷（共9卷）

分类专项复习（8卷含易错题卷）

标准化调考模拟试卷（2卷含答题卷）

用 APP 扫一扫，查找配套资源

状元共享课堂

防伪验证，真品保障

内有各地真题试卷

四年级数学 上

最新修订

龍門書局 | 龙门品牌 · 学子至爱 www.longmenshuju.com

分类专项复习卷（一）

数与代数

——大数的认识

建议时间:25 分钟　满分:100 分

一、认真读题,思考填空。（每空 1 分,共 18 分）

1. 一个数由 5 个千万、7 个千、8 个十组成,这个数是(　　),读作(　　),省略万位后面的尾数约是(　　)。

2. 杭州湾跨海大桥总投资约11800000000 元人民币。横线上的数是一个(　　)位数,8 在(　　)位上,表示 8 个(　　),改写成用"亿"作单位的数是(　　)亿。

3. 在○中填上"＞""＜"或"＝"。

99860 ○ 101000

708 万 ○ 7080000

1635001300 ○ 1635003001

1 亿 ○ 9999 万

4. 一万张 A4 纸叠放起来高约 1 米,一亿张 A4 纸叠放起来约高(　　)米。

5. 一个十位数,它的最高位是(　　)位;30190400 中的"1"所表示的数比"9"所表示的数多(　　)。

6. 在□里填上合适的数。

301 □ 5945≈3013 万

2360798000≈□亿

9 □ 64008507≈100 亿

70 □ 02003500＞70810024000

二、仔细推敲,做出判断。（对的画"√",错的画"×"）（15 分）

1. 一(个)、十、百、千……十亿、百亿、千亿都是计数单位。(　　)

2. 最小的自然数是 1,没有最大的自然数。(　　)

3. 最大的八位数与最小的九位数之间相差 1。(　　)

4. 世界上最大的金字塔——埃及胡夫金字塔由230 多万块石块砌成,这个数是准确数。(　　)

5. 用 9、1、7 和三个 0 这六个数字组成的只读一个零的最大六位数是 971000。(　　)

三、反复比较,慎重选择。（把正确答案的序号填在括号里）（15 分）

1. 一个数四舍五入到万位约是 25 万,这个数最大是(　　)。

A. 259999　　B. 254000　　C. 254999

2. 下面各数,只读一个零的数是(　　)。

A. 4006300　　B. 4006030　　C. 406300

3. 在 9 和 7 中间添(　　)个 0,这个数才能成为九十亿零七。

A. 7　　B. 8　　C. 9

4. 下面三个数"四舍五入"后都得到 83 万,其中(　　)最接近 83 万。

A. 829800　　B. 830100　　C. 830099

5. 下面算盘上的这个数写作(　　)。

A. 647103021

B. 647503021

C. 247103021

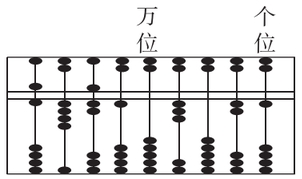

四、读出下面各数。（9 分）

35003062007　　读作:_____

9080000040　　读作:_____

208000010000　　读作:_____

五、写出下面各数,再省略万位或亿位后面的尾数,求出它们的近似数。（第 1 题每空 2 分,其余每空 3 分,共 19 分）

1. 四千零八十万三千九百

写作:_____≈(　　)万

2. 五百六十九亿七千万零八

写作:_____≈(　　)亿

3. 五千零八十九亿六千零八十万零六

写作:_____≈(　　)万≈(　　)亿

六、根据规律,算出得数。（12 分）

先算出左边三道算式的得数,再根据规律直接写出右边的三道算式的得数。

21 ×9 =	54321 ×9 =
321 ×9 =	654321 ×9 =
4321 ×9 =	987654321 ×9 =

七、用自己喜欢的方法算一算。（12 分）

1. 698 ＋699 ＋700 ＋701 ＋702 ＝

2. 296 ＋297 ＋298 ＋299 ＋1 ＋2 ＋3 ＋4 ＝

3. 454 ＋456 ＋458 ＋460 ＋462 ＋464 ＝

分类专项复习卷（二）

数与代数

——三位数乘两位数

建议时间:25 分钟　满分:100 分

一、认真读题,思考填空。（每空 2 分,共 30 分）

1. 蝴蝶飞行的速度每分钟可达 200 米,可以写作(　　),蝴蝶 1小时可飞行(　　)千米。

2. 一本《百科全书》65 元,买 16 本一共要多少钱？这道题已知(　　)和(　　),要求的是(　　),利用的数量关系式是(　　)。

3. 两个数相乘的积是 15,如果其中一个数不变,要使积变为 45,那么另一个数应(　　)。

4. 根据 25 × 12 = 300,写出下面各题的得数。

   25 × 6 = (　　)　　125 × 12 = (　　)

   125 × 48 = (　　)　　(　　) × 6 = 1500

5. 在 ◯ 中填上“ > ”“ < ”或“ = ”。

   430 × 5 ◯ 43 × 50　　78 × 200 ◯ 20 × 770

   24 × 300 ◯ 23 × 400　　140 × 5 ◯ 70 × 10

二、反复比较,慎重选择。（把正确答案的序号填在括号里）（12 分）

1. 324 × □ 2,要使积是四位数,□ 里应填(　　)。

   A. 1,2,3　　B. 1,2　　C. 1

2. 两个数的积是 10,若两个因数同时乘 10,则积是(　　)。

   A. 10　　B. 100　　C. 1000

3. 计算 9 □ 4 × 12,可能得到的结果是(　　)。

   A. 10848　　B. 1848　　C. 108048

4. 依依有 60 元,买 3 束花,有(　　)种买法。

   A. 1　　B. 2

   C. 3

三、一丝不苟,细心计算。（共 28 分）

1. 直接写出得数。（每题 0.5 分,共 15 分）

30 × 120 =	40 × 70 =	25 × 400 =
60 × 31 =	72 × 5 =	12 × 40 =
50 × 600 =	270 × 3 =	40 × 54 =
52 × 60 =	17 × 100 =	24 × 500 =
63 × 20 =	110 × 60 =	47 × 30 =
70 × 80 =	50 × 90 =	30 × 13 =
54 × 20 =	200 × 11 =	90 × 300 =
40 × 80 =	5 × 400 =	250 × 20 =
35 × 20 =	401 × 32 ≈	512 × 60 ≈
98 × 17 ≈	93 × 21 ≈	39 × 82 ≈

2. 用竖式计算下面各题。（带△号的要验算）（每题 4 分,验算 1 分,共 13 分）

25 × 402 =

570 × 360 =

△46 × 347 =

验算

四、活学活用,解决问题。（共 30 分）

1. 壮壮家今年前 3 个月的电费是 195 元,平均每个月的电费是多少元？照这样计算,一年的电费是多少元？（7 分）

2. 实验小学有一块长方形苗圃（如图）,现在要把长减少到 16 米,宽不变,缩小后,苗圃的面积是多少？（7 分）

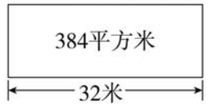

3. 某景区的大巴车上山的速度是 32 千米/时,5 小时到达山顶,下山沿原路返回,只用了 4 小时。

   (1)从山脚到山顶有多少千米？（4 分）

   (2)大巴车下山时平均每小时行多少千米？（4 分）

4. 万老师带 2500 元钱到商场为学校买 15 个同样的热水瓶,万老师该买哪一种热水瓶？还剩多少钱？（8 分）

分类专项复习卷（三）

数与代数

——除数是两位数的除法

建议时间：25 分钟　满分：100 分

一、认真读题，思考填空。（每空 2 分，共 26 分）

1. □ ÷ ○ = 17……21，○最小是（　　），这时□是（　　）。
2. 420 ÷（　　）= 38……2。
3. 347 ÷ □6，要使商是两位数，□里最大能填（　　）；
   5□7 ÷ 53，要使商是一位数，□里最小能填（　　）。
4. ○ ÷ △ = 23，如果○不变，△除以 3，商是（　　）。
5. （　　）里最大能填几？
   20 ×（　　）< 78　　54 ×（　　）< 432
   60 ×（　　）< 500　　78 ×（　　）< 385
6. 29 ÷ 7 = 4……1，现将被除数和除数同时乘 100，那么商是（　　），余数是（　　）。
7. 一本书一共有 150 个小故事，依依每天看 1 个小故事，大约需要（　　）个月看完这本书。

二、反复比较，慎重选择。（把正确答案的序号填在括号里）（15 分）

1. 下列说法错误的是（　　）。
   A. 三位数除以两位数，商是一位数或两位数
   B. 试商后，要把原来的除数与商相乘的积写在被除数的下面
   C. 被除数和除数都除以一个相同的数，商不变
2. 288 ÷ 36，把除数看作 40 来试商，商可能会（　　）。
   A. 正好　　B. 偏小　　C. 偏大
3. 在 625 ÷ 25 中，如果被除数变成 125，要使商不变，除数应变成（　　）。
   A. 25　　B. 5　　C. 125
4. 两个数相除商是 15，如果被除数不变，除数乘 5，商就变成（　　）。
   A. 75　　B. 15　　C. 3
5. 在计算 140 ÷ 35 时，下面的计算方法错误的是（　　）。
   A. 140 ÷ 7 × 5　　B. （140 × 2）÷（35 × 2）　　C. 140 ÷ 7 ÷ 5

三、一丝不苟，细心计算。（共 28 分）

1. 直接写出得数。（每题 0.5 分，共 15 分）

160 ÷ 40 =	210 ÷ 70 =	320 ÷ 80 =
4500 ÷ 500 =	720 ÷ 8 =	930 ÷ 30 =
510 ÷ 3 =	240 ÷ 10 =	3600 ÷ 400 =
750 ÷ 30 =	250 ÷ 50 =	360 ÷ 20 =
720 ÷ 20 =	2700 ÷ 900 =	800 ÷ 400 =
260 ÷ 130 =	1200 ÷ 60 =	120 ÷ 4 =
950 ÷ 50 =	810 ÷ 30 =	400 ÷ 5 =
830 ÷ 83 =	0 ÷ 451 =	280 ÷ 7 =
4200 ÷ 70 =	632 ÷ 70 ≈	398 ÷ 50 ≈
483 ÷ 61 ≈	723 ÷ 84 ≈	304 ÷ 58 ≈

2. 用竖式计算下面各题。（带△号的要验算）（每题 4 分，验算 1 分，共 13 分）

9100 ÷ 13 =

792 ÷ 34 =

△5360 ÷ 260 =

验算

四、认真思考，填写表格。（9 分）

交通工具	速度（千米/时）	时间/时	路程/千米
自行车		27	405
电动车	20		360
火车	125	16	

五、活学活用，解决问题。（共 22 分）

1. 光之星奶牛场有 8 个牛棚，每个牛棚里圈养了 15 头奶牛。这个奶牛场每天要喂 2400 千克饲料，平均每头奶牛每天要吃多少千克饲料？（6 分）

2. 小华每分钟走 68 米，小明每分钟走 62 米。

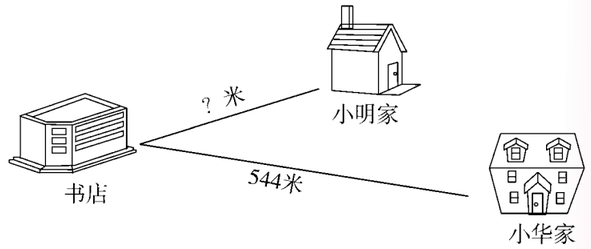

从家到书店小华比小明多走 3 分钟，小明家离书店有多少米？（8 分）

3. 下面是暖暖糖果店同一种糖果的价钱。黄老师要买 25 袋这种糖果，怎样买最省钱？最少要多少钱？109 元最多可以买多少袋糖果？（8 分）

分类专项复习卷（四）

图形与几何

——公顷和平方千米、角的度量

建议时间:25 分钟　满分:100 分

一、认真读题,思考填空。(每空 1 分,共 20 分)

1. 在(　　)里填入合适的单位。
   秦皇岛的面积约 7813(　　)。
   北京故宫的占地面积是 72(　　)。
   淘淘家的住房面积是 132(　　)。
   边长是 200 米的正方形的面积是 4(　　)。
2. 6 平方千米 = (　　)公顷
   50000 平方米 = (　　)公顷
   4 公顷 = (　　)平方米
   9 平方千米 = (　　)平方米
3. 钟面上分针从 12 起走到 3,形成的角是(　　)角,分针在钟面上走 1 大格,形成的角是(　　)角,分针在钟面上走 1 小时,形成的角是(　　)角。
4. 把一张正方形纸沿对角线对折后再对折,打开后出现两条折痕。

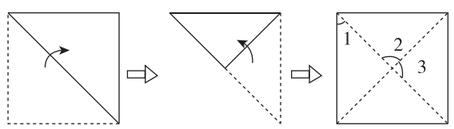

   (1)两条折痕的关系是互相(　　)。(填"垂直"或"平行")
   (2) ∠1 是(　　)角,它是(　　)度。
   (3) ∠2 和∠3 组成的角是(　　)角。
5. 如图,经过 A 点,可以画(　　)条直线,经过图中 A、B、C 中的任意两点,一共可以画(　　)条直线。

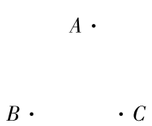

6. 图中有(　　)个直角,(　　)个锐角,(　　)个钝角。

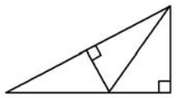

二、反复比较,慎重选择。(把正确答案的序号填在括号里)(15 分)

1. 下面的角中,(　　)是周角,(　　)是平角。

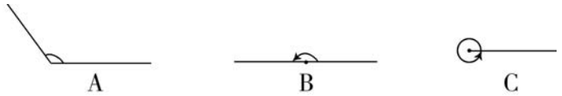

2. 下面说法正确的是(　　)。
   A. 依依画了一条 9cm 长的射线
   B. 一副三角尺不可以拼出 125°的角
   C. 面积为 1 公顷的土地只能是边长为 100 米的正方形土地。
3. 下列说法不正确的是(　　)。
   A. 锐角 + 锐角 = 钝角
   B. 直角 + 直角 = 平角
   C. 平角 + 平角 = 周角
4. 用一个放大 100 倍的放大镜看一个 60°的角,看到的角的度数是(　　)。
   A. 600°　　B. 60°　　C. 6000°
5. 如下图,在一个长方形中,∠1 = 40°,那么∠2 = (　　)。

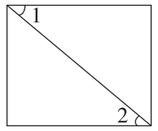

   A. 40°　　B. 50°　　C. 60°

三、仔细测量,认真画角。(共 24 分)

1. 下面的角分别是什么角?分别画出与∠1,∠2 同样大的角。(12 分)

2. 选择合适的方法画出下面的角。(12 分)
   40°　　105°　　90°

四、细心观察,认真计算角的度数。(共 21 分)

1. (9 分)

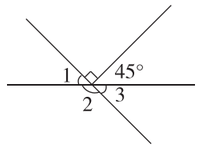

∠1 = (　　)
∠2 = (　　)
∠3 = (　　)

2. (12 分)

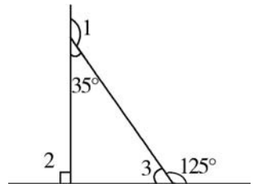

∠1 = (　　)
∠2 = (　　)
∠3 = (　　)

五、阅览室的地面是长 9 米、宽 6 米的长方形,现要摆放长 1 米 8 分米、宽 10 分米的阅览桌。(20 分)

1. 请分别算出阅览室的地面面积和每张阅览桌的占地面积。
2. 根据阅览室的地面面积,摆放 30 张阅览桌供大家使用,你认为合理吗?为什么?

分类专项复习卷（五）

图形与几何
——平行四边形和梯形

建议时间:25 分钟　满分:100 分

一、认真读题,思考填空。（每空 2 分,共 26 分）

1. 教室黑板的两组对边分别(　　),且长度(　　),邻边互相(　　)。
2. 平行四边形四个角的度数和是(　　),而且对角的度数(　　)。
3. 平行四边形的一组对边之间可以画(　　)条垂线段,它们是平行四边形的(　　)。
4. 在同一平面内,若两条直线都和第三条直线垂直,那么这两条直线互相(　　)。
5. 如右图,一个直角梯形有一个角是 40°,那么其他三个内角的度数分别是(　　)、(　　)、(　　)。

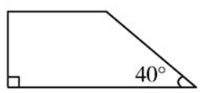

6. 一个平行四边形的一组邻边分别是 6 厘米和 4 厘米,那么这个平行四边形的周长是(　　)厘米。
7. 两条互相垂直的线段将平行四边形分成四部分(如右图),那么图中梯形有(　　)个。

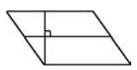

二、仔细推敲,做出判断。（对的画"√",错的画"×"）(15 分)

1. 在同一平面内,两条直线不平行,就互相垂直。　(　　)
2. 平行四边形具有稳定、不易变形的特性。　(　　)
3. 正方形的对角线互相垂直。　(　　)
4. 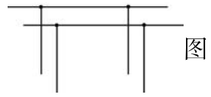 图中共有 3 组平行线。　(　　)
5. 在梯形中剪一刀,只能把它分为一个平行四边形和一个三角形。　(　　)

三、反复比较,慎重选择。（把正确答案的序号填在括号里）(15 分)

1. 下图是学校的沙坑,A 点是苹苹跳远时脚后跟落入沙坑的点,哪条线段的长度表示她的成绩比较合理?(　　)

A. 线段 AB

B. 线段 AC

C. 线段 AD

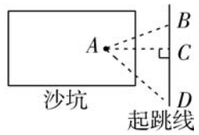

2. 在图上找到一点 D,使点 A、B、C、D 构成一个平行四边形,点 D 有(　　)种选法。

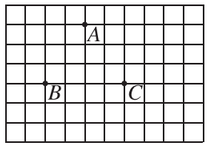

A. 3　　B. 2　　C. 1

3. 下面线段中,第(　　)组可以拼成一个平行四边形。

A.  　B. 　C.

4. 下图中的四边形被一张灰色的纸片遮住了一部分,这个图形可能是(　　)。

A. 梯形

B. 平行四边形

C. 长方形

5. 依依用两根 10 厘米和两根 8 厘米的木条钉成一个长方形,然后推拉得到一个平行四边形。这个平行四边形的底是 10 厘米,高可能是(　　)厘米。



A. 8　　B. 6　　C. 11

四、根据每个图形的特点连一连。（20 分）

长方形　　正方形　　平行四边形　　梯形

四边相等	两组对边分别相等	只有一组对边平行	两组对边分别平行	有四个直角

五、严谨规范,动手操作。（共 16 分）

1. 过 A 点画直线 l_1 的垂线,过 B 点画直线 l_2 的垂线。(8 分)

2. 画出下面各图形所给底边上的高。(8 分)

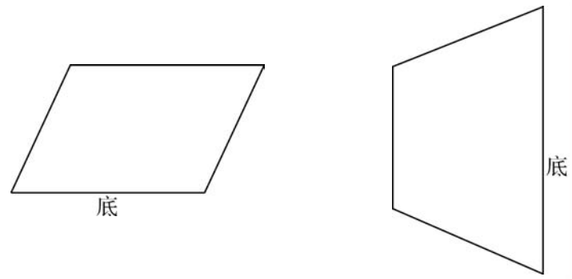

六、从河西村和河东村各修一条小路与公路连接,应该怎样修离公路最近?请在图中画出来。(8 分)

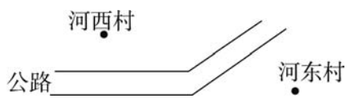

分类专项复习卷（六）

数与代数
——数学广角—优化

统计与概率
——条形统计图

建议时间:25 分钟　满分:100 分

一、认真读题,思考填空。(每题 5 分,共 20 分)

1. 淘淘、壮壮和龙一鸣玩“黄金矿工”游戏,需要双人玩,玩 1 局要 15 分钟,淘淘、壮壮和龙一鸣 3 人每人玩 2 局,至少需要(　　)分钟。

2. 下面是电脑专卖店上半年销售情况统计表。

月份	一月	二月	三月	四月	五月	六月
台数	120	160	220	200	240	280

用条形图表示上面的数据,1 格代表(　　)台较合适。

3. 下面是某校“我最喜欢的卡通形象”前四名评选情况统计表。

卡通形象	海绵宝宝	喜羊羊	维尼熊	米老鼠
人数	600	800	200	270

用条形图表示上面的数据,1 格代表(　　)人较合适。

4. 龙一鸣帮妈妈蒸鸡蛋羹(先烧开水再蒸),前后花掉 23 分钟,他是这样安排的:①1 分钟打蛋,②2 分钟切葱花,③2 分钟搅蛋,④2 分钟洗锅,⑤6 分钟把水烧开,⑥10 分钟蒸熟。如果调整一下操作,你觉得做完这些事情最少用(　　)分钟。

二、下面是龙一鸣和黄霏霏的 18 次作业成绩记录单。(共 32 分)

龙一鸣

第 1 次	第 2 次	第 3 次	第 4 次	第 5 次	第 6 次	第 7 次	第 8 次	第 9 次
⚑	☆	☆	⚑	❀	⚑	⚑	☆	☆
第 10 次	第 11 次	第 12 次	第 13 次	第 14 次	第 15 次	第 16 次	第 17 次	第 18 次
☆	⚑	❀	⚑	☆	☆	❀	❀	☆

黄霏霏

第 1 次	第 2 次	第 3 次	第 4 次	第 5 次	第 6 次	第 7 次	第 8 次	第 9 次
☆	☆	⚑	❀	❀	⚑	❀	⚑	⚑
第 10 次	第 11 次	第 12 次	第 13 次	第 14 次	第 15 次	第 16 次	第 17 次	第 18 次
❀	⚑	☆	⚑	❀	☆	☆	⚑	❀

1. 根据上面的记录单填写下表。(12 分)

成绩 / 次数 / 姓名	⚑	☆	❀
龙一鸣			
黄霏霏			

2. 把上面的数据分别在下面用条形图表示出来。(12 分)

龙一鸣作业成绩统计图

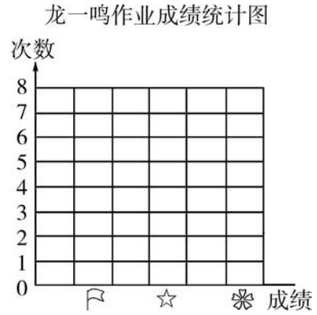

黄霏霏作业成绩统计图

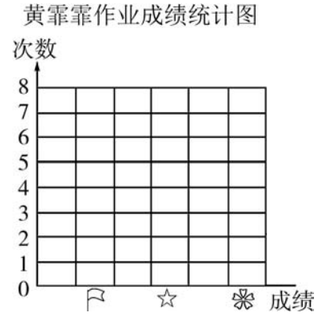

3. 看图回答。

(1)龙一鸣得的(　　)最多,得的(　　)最少;

黄霏霏得的(　　)最多,得的(　　)最少。(4 分)

(2)你还知道哪些信息?(4 分)

三、四年级掂球比赛(五局三胜)。(20 分)

四(5)班:	肖力	占军	秦刚	刘大为	王磊
	94 个	90 个	86 个	78 个	75 个
四(6)班:	熊博	陈柯	徐勇	童帆	李君成
	102 个	98 个	92 个	84 个	80 个

四(5)班怎样对阵才能获胜?

四(6)班	熊博	陈柯	徐勇	童帆	李君成
四(5)班					
本局获胜班级					

四、育才小学四年级(1)~(4)班本学期卫生检查获得优秀次数如下表。(共 28 分)

月份	九月	十月	十一月	十二月
四(1)班	18	21	24	18
四(2)班	9	18	25	26
四(3)班	20	17	28	22
四(4)班	16	20	19	14

1. 选择一个月把四年级(1)~(4)班的卫生检查优秀情况在下图中表示出来。(12 分)

四年级(1)~(4)班(　)月卫生优秀情况统计图

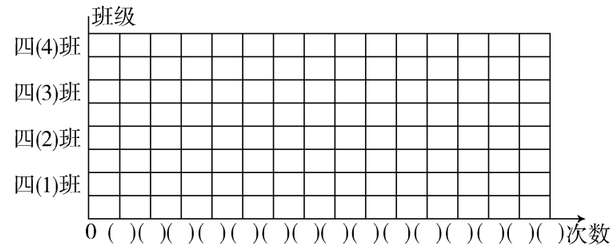

2. 分析上面条形图回答:(共 16 分)

(1)每格代表(　　)次比较合理。

(2)四(　　)班(　　)月获得优秀次数最多。

(3)从图中你还能得到什么信息?

学校

班级

考号

姓名

密　封　线

分类专项复习卷（七）

解决问题专项训练

建议时间:60 分钟　满分:100 分 + 10 分

一、认真读题,思考填空。（每空 2 分,共 22 分）

1. 花店有 289 枝花,如果每 31 枝花制作一个花篮,最多能做(　　)个花篮,还余(　　)枝,至少增加(　　)枝花又可以做一个花篮了。

2. 一列火车 3 小时行驶 324 千米,这列火车 12 小时可以行驶多少千米?

   这道题可以先求(　　),再求 12 小时行驶多少千米;也可以先求 12 小时是(　　)小时的(　　)倍,再求(　　)个 324 千米是多少千米。

3. 平底锅中,每次最多只能放 2 张饼,1 张饼要烙 2 面,烙熟每面需要 2 分钟,烙 5 张饼至少需要(　　)分钟,烙 20 张饼至少需要(　　)分钟。

4. 龙一鸣 24 分钟能打 912 个字,依依 45 分钟能打 1440 个字,(　　)的打字速度快。

5. 苹苹和淘淘玩卡片游戏,每人出 3 次卡片,不准重复,数字大的获胜,采取三局两胜制。苹苹先出 6,淘淘要获胜,应出(　　)。

4	6	8
苹苹		

5	7	3
淘淘		

二、反复比较,慎重选择。（把正确答案的序号填在括号里）(15 分)

1. 一列火车,每节车厢可以运煤 60 吨,有 500 吨煤,至少需要(　　)节车厢。

   A. 9　　B. 10　　C. 8

2. 橙汁每箱 36 元,一箱内有 24 瓶,买 15 箱需要多少钱?正确列式为(　　)。

   A. 36 × 24 × 15　　B. 24 × 15　　C. 36 × 15

3. 一台织布机 5 小时织布 1250 米,照这样计算,8 台织布机 1 小时织布多少米?正确列式是(　　)。

   A. 1250 ÷ 5 ÷ 8　　B. 1250 ÷ 5 × 8　　C. 1250 ÷ 8 × 5

4. 淘淘房间的地面是长方形,装修时沿着长正好铺了 12 块地砖,沿着宽正好铺了 10 块地砖,每块正方形地砖的边长是 4 分米,淘淘房间地面的面积是(　　)平方分米。

   A. 480　　B. 960　　C. 1920

5. 如果 1 平方米能铺 4 块地砖,1 公顷能铺(　　)块地砖。

   A. 40000　　B. 4000　　C. 400

三、填表。（9 分）

根据“单价、数量、总价”的关系填写下表。

物品	单价/元	数量/个	总价/元
足球	68	18	
篮球	45		1350
排球		70	3920

四、把算式和问题连起来。（8 分）

服装厂生产了 4000 件衬衫,每 4 件装一包,每 25 包装一箱。

25 × 4	一共可装多少包?
4000 ÷ 4	一共可装多少箱?
4000 ÷ 4 ÷ 25	每箱装多少件?
4000 ÷ (4 × 25)	

五、活学活用,解决问题。（共 46 分）

1. 某品牌啤酒每箱 12 千克,一辆卡车的载质量为 3 吨。现有 260 箱这种啤酒,这辆卡车能否一次运走这些啤酒?（4 分）

2. 若长不变,宽增加到 36 米,扩大后的绿地面积是多少?（4 分）

3. 壮壮和依依去动物园游玩。壮壮每分钟走 58 米,依依每分钟走 55 米。（5 分）

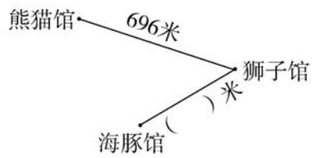

壮壮从狮子馆到熊猫馆,依依从狮子馆到海豚馆,壮壮比依依多走了 3 分钟,狮子馆到海豚馆有多远?

4. 养鸡场昨天收了 180 千克鸡蛋，装了 12 箱后，还剩 12 千克。平均每箱鸡蛋有多少千克？（4 分）

5. 胡阿姨卖出观赏蔬菜 124 盆，观赏花卉 207 盆。（6 分）

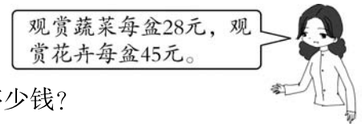

（1）两种观赏植物各卖了多少钱？

（2）一共卖了多少元？

6. 龟兔赛跑。7:30 它们同时从 A 点出发，7:40 兔子跑到大树下开始睡觉。已知 A 点离大树有 1200 米（如图所示），8:30 乌龟终于爬到了大树下。（假设乌龟、兔子的速度保持不变）（4 分）

（1）兔子的速度是多少？

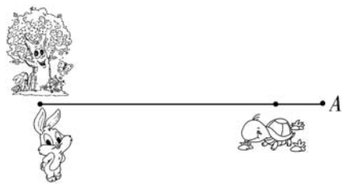

（2）乌龟的速度是多少？

7. 光明小学 6 个年级共有 192 名少先队员，“重阳节”帮助老人做好事。这些少先队员平均分成 8 队，每队分成 4 组，平均每组有多少名少先队员？（4 分）

8. 《格林童话》每本 21 元。黄老师带 300 元钱，最多可以买多少本？（4 分）

“六一”优惠
买五本送一本

9. （5 分）

10. （6 分）

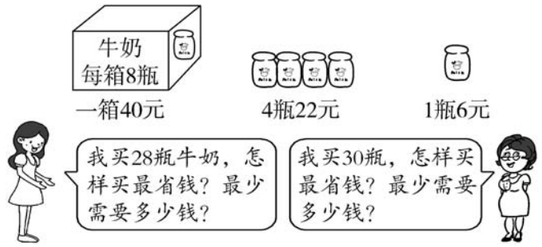

附加题。（10 分）

下面是一个小区的一则广告：本小区环境优美，景色宜人，是绿色花园模范小区。

小区占地面积 12 公顷，娱乐场所等设施占地面积 3 公顷，绿化面积 5 公顷……龙一鸣在小区走了一圈，发现一共有 75 幢楼，每幢楼长 80 米，宽 10 米。请你通过计算推断开发商的广告真实吗？

附加题讲解

密 封 线

学校

班级

考号

姓名

密　封　线

易错知识大闯关

建议时间：60 分钟　满分：100 分

彩云满天

易错课堂⑤～⑧

一、认真读题，思考填空。（每空 1 分，共 24 分）

1. 一个自然数，最高位是百万位，最高位上的数字是 6，万位上的数字是 4，其他各个数位上的数字都是最小的自然数，这个数写作（　　），改写成用“万”作单位的数是（　　）。

2. 由 15 个亿、705 个万、4006 个一组成的数是（　　），读作（　　），四舍五入到万位约是（　　）万，省略亿位后面的尾数约是（　　）。

3. 与千万位相邻的两个数位是（　　）和（　　）。

4. 一只猎狗的奔跑速度可达每小时 60 千米，记作（　　），读作（　　）。

5. 把平角平均分成 180 份，这样的 62 份是（　　）°，它再增加（　　）°就是直角。

6. 右图是一块绿地，现在想扩大这块绿地，扩大后的绿地面积是原绿地面积的 3 倍，如果宽不变，长应增加（　　）米。

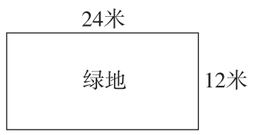

7. （　　）÷ 28 = 17……21

532 ÷（　　）= 12……4

8. 括号里最大能填几？

68 ×（　　）< 560　　18 ×（　　）< 90

9. 右图里有（　　）条线段与 *AB* 垂直，有（　　）条线段与 *CD* 平行。

图中一共有（　　）个直角，（　　）个锐角，（　　）个钝角。

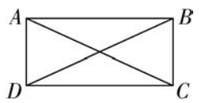

10. 万老师要给学生发钢笔作为奖品，文具店对同一种钢笔用三种方式进行销售，万老师有 117 元钱，最多能买（　　）支这样的钢笔，还剩（　　）元。

9元/支
15元/2支
20元/3支

二、仔细推敲，做出判断。（对的画“√”，错的画“×”）（5 分）

1. 面积是 1 公顷的一块地，一定是边长为 100 米的正方形土地。（　　）

2. 20040000300 = 20000000000 + 4000000 + 300　（　　）

3. 用一副三角尺拼成的这个角是 15°。（　　）

4. □32 ÷ 45 的商是一位数，□里最大能填 3。（　　）

5. 4580 ÷ 240 = 19……2　（　　）

三、反复比较，慎重选择。（把正确答案的序号填在括号里）（5 分）

1. 下面说法正确的是（　　）。
   A. 角的两条边是直线
   B. 100 张纸的厚度大约是 1 厘米，1 亿张纸摞起来大约有 1 万米高
   C. 平行四边形有两条高，梯形只有一条高

2. 下面两个面积单位间进率是 100 的是（　　）。
   A. 平方米和公顷
   B. 平方米和平方千米
   C. 公顷和平方千米

3. 把一个平行四边形卡片剪一刀，不可能出现的是（　　）。
   A. 两个三角形
   B. 两个梯形
   C. 一个平行四边形和一个梯形

4. 下面哪个问题可以用 12 ÷ 3 来解决？（　　）
   A. 龙一鸣买了 3 个变形金刚，每个 12 元，他花了多少元？
   B. 依依今年 12 岁，爸爸的年龄是她的 3 倍，爸爸今年多少岁？
   C. 苹苹每小时走 3 千米，照这样走 12 千米，需要多少小时？

5. 烤面包的架子上最多能放 2 个面包，面包两面都要烤，烤1 个面包的一面需要 3 分钟，烤 9 个面包至少需要（　　）分钟。
   A. 27　　B. 30　　C. 54

碧空如洗

四、一丝不苟，细心计算。（共 35 分）

1. 直接写出得数。（每题 0.5 分，共 15 分）

120 × 5 =	4500 ÷ 15 =	900 ÷ 60 =
2100 ÷ 70 =	360 ÷ 20 =	800 × 40 =
3200 ÷ 400 =	45 × 40 =	630 ÷ 210 =
50 × 70 =	420 ÷ 21 =	52 × 5 =
8100 ÷ 90 =	340 × 3 =	210 ÷ 7 =
70 × 21 =	540 ÷ 60 =	900 ÷ 90 =
260 ÷ 13 =	840 ÷ 40 =	7000 万 + 3000 万 =
1 亿 − 6000 万 =	5 × 6 ÷ 5 × 6 =	18 + 31 − 18 + 31 =
0 × 23 × 24 =	904 × 87 ≈	724 ÷ 79 ≈
412 ÷ 68 ≈	298 × 18 ≈	810 ÷ 92 ≈

2. 用竖式计算下面各题。（带△号的要验算）（每题 3 分，验算 1 分，共 14 分）

△48 × 605 =

验算

260 × 150 =

598 ÷ 29 =

△816 ÷ 51 =

验算

3. 先算出左边三道算式的得数，再根据规律直接写出右边算式的得数。（6 分）

9 × 9 − 1 =	9876 × 9 − 4 =
98 × 9 − 2 =	98765 × 9 − 5 =
987 × 9 − 3 =	987654321 × 9 − 9 =

繁星闪耀

五、严谨规范，操作实践。（共 6 分）

1. 过 A 点画 BC 的垂线段和平行线。（2 分）

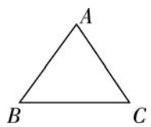

2. 画一个比平角小 30°的角。（2 分）

3. 下图是一个长方形的两条边，请把这个长方形画完整。（2 分）

六、如图，$a \parallel b$，$\angle 1 = 60°$。（3 分）

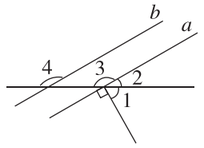

1. ∠2 =（　　），

∠3 =（　　）。

2. 量一量，∠4 =（　　）。

宇宙遨游

七、活学活用，解决问题。（共 22 分）

1.

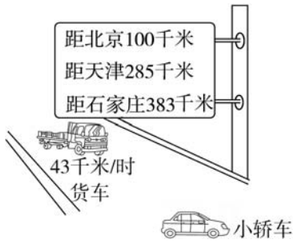

（1）小轿车到达路牌后，3 小时到达天津，它的时速是多少？（2 分）

（2）货车到达路牌后，8 小时能否到达石家庄？（2 分）

2. 李伯伯开了一家超市，周末他骑车去进货。

（1）李伯伯购进了球形巧克力和心形巧克力各 16 盒，一共要付多少钱？（3 分）

球形巧克力	58 元/盒
心形巧克力	45 元/盒

（2）李伯伯去时速度为 250 米/分，12 分钟到达。原路返回时多用了 3 分钟。他返回时的速度是多少？（3 分）

3. 这本杂志创刊多少年了？（4 分）

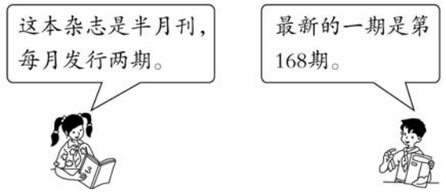

4. 龙一鸣、淘淘和依依各有一本纸质相同的书。（纸的厚度一样）

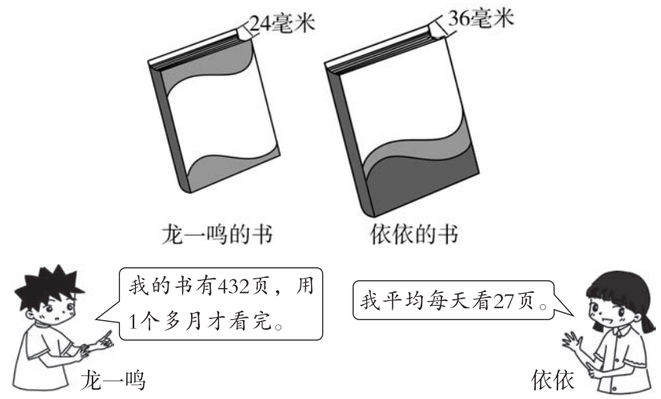

（1）依依的书有多少页？（3 分）

（2）淘淘的书有 504 页，他用 12 天就看完了。淘淘平均每天比依依多看多少页？（3 分）

（3）他们三个人中，（　　）每天看书最多。（2 分）

密

封

线

学校

班级

考号

姓名

密　封　线

期末调考模拟测试卷（一）

建议时间：90 分钟　满分：100 分

注意事项：1. 选择题、判断题用 2B 铅笔填涂。未按要求涂的不能得分。

2. 所有答案必须写在答题卡的指定位置。答在本卷或其他位置不能得分。

一、选择。（请将答题卡上正确答案所对应字母的方框涂黑）（每题 1 分，共 5 分）

1. 下面的说法不正确的是（　　）。

A. 两个锐角可以拼成一个锐角，也可以拼成一个直角，还可以拼成一个钝角

B. 当平行四边形的一个角是直角时，这个图形有可能是长方形或正方形

C. 一个除法算式的被除数、除数都除以 6 以后，商是 20，那么原来的商是 120

D. 边长是 100 米的正方形草地，占地面积是 1 公顷

2. 59□836≈59 万，□中最小可以填（　　）。

A. 4　　B. 0　　C. 5　　D. 1

3. 在算式 225 ÷ 15 中，被除数不变，除数除以 5，它的商应（　　）。

A. 除以 5　　B. 乘 5　　C. 不变　　D. 乘 2

4. 下列动物中，奔跑速度最快的是（　　）。

A. 跳羚每分钟跑 1440 米

B. 野驴的奔跑速度为 750 米/分

C. 长颈鹿 3 分钟跑 3 千米

D. 猎狗 5 分钟跑 5000 米

5. 已知右图中，四边形 *ABCD* 为平行四边形，*BE* ⊥ *DE*，下列说法正确的有（　　）个。

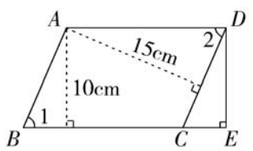

（1）平行四边形 *ABCD* 的 *CD* 边上的高是 15cm

（2）*DE* = 10cm

（3）四边形 *ABED* 是一个直角梯形

（4）∠1 = ∠2

A. 1　　B. 2　　C. 3　　D. 4

二、判断。（说法正确的在答题卡上将符号“√”方框涂黑，说法错误的在答题卡上将符号“×”方框涂黑）（每题 1 分，共 5 分）

6. 长方形、正方形和梯形都是特殊的平行四边形。（　　）

7. 一条直线的垂线有无数条。（　　）

8. 在除法算式中，商与除数的积不一定等于被除数。（　　）

9. 平行四边形相对应的底和高互相垂直。（　　）

10. 两个因数同时乘相同的数，积不变。（　　）

三、填空。（将正确答案写在答题卡的相应位置）（每空 1 分，共 27 分）

11. 银河系的年龄大约是13600000000 岁，横线上的数是一个（　　）位数，它最高位上的计数单位是（　　），读作（　　），改写成用“亿”作单位的数是（　　）。

12. 甲数是乙数的 12 倍，丙数是甲数的 16 倍，甲数是 96，乙数是（　　），丙数是（　　）。

13. 四边形中，两组对边分别平行且相等的图形有（　　）形、（　　）形和（　　）形。

14. □70 ÷ 47，要使商是一位数，□里最大填（　　）；要使商是两位数，□里最小填（　　）。

15. 一个长方形的飞机场跑道，长是 4 千米，宽是 50 米，这个跑道的面积是（　　）公顷。

16. 右图所示的各条直线中，（　　）和（　　）互相平行，（　　）和（　　）互相垂直。（填序号）

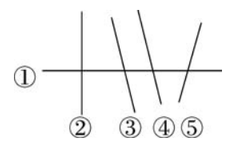

17. 在○里填“>”“<”或“=”。

7080600 ○ 8904500

130 × 30 ○ 13 × 301

5400 ÷ 180 ○ 540 ÷ 18

360 × 1500 ○ 36 × 15 × 100

7 平方千米 ○ 7000 公顷

18. 如右图，∠1 + ∠2 = （　　）°，已知∠4 = 135°，∠3 = （　　）°。

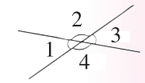

19. 苹苹安排时间最合理：①起床整理被褥 4 分钟；②刷牙 3 分钟；③洗脸 2 分钟；④听英语录音 8 分钟。她做完这些事最少需要（　　）分钟。

20. 右图中有（　　）个三角形，（　　）个平行四边形，（　　）个梯形。

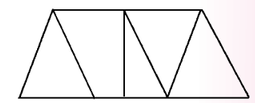

四、计算。（请将答案写在答题卡的相应位置）（共 25 分）

21. 直接写出得数。（每题 0.5 分，共 15 分）

(1) 90 ÷ 30 =	(2) 4800 ÷ 40 =	(3) 24 × 500 =
(4) 70 × 90 =	(5) 60 × 80 =	(6) 320 ÷ 40 =
(7) 5400 ÷ 54 =	(8) 280 ÷ 70 =	(9) 44 × 200 =
(10) 510 ÷ 30 =	(11) 26 × 30 =	(12) 270 ÷ 90 =
(13) 18 × 40 =	(14) 2000 ÷ 40 =	(15) 60 × 70 =
(16) 12000 ÷ 50 =	(17) 81 × 30 =	(18) 5600 ÷ 80 =
(19) 3500 ÷ 50 =	(20) 400 × 91 =	(21) 240 × 3 ÷ 80 =
(22) 0 × 860 × 52 =	(23) (18 + 32) × 40 =	(24) 0 + 27 × 20 =
(25) 36 ÷ 4 − 4 =	(26) 396 × 42 ≈	(27) 722 ÷ 81 ≈
(28) 5420 ÷ 62 ≈	(29) 604 × 29 ≈	(30) 422 ÷ 58 ≈

22. 用竖式计算下面各题。（带△号的要验算）（每题 2 分，验算 1 分，共 10 分）

（1）125 × 580 =

（2）25800 ÷ 430 =

(3) △902 ÷ 23 =

验算

(4) △206 × 38 =

验算

五、操作题。(请将答案写在答题卡相应的位置)(共 8 分)

23. 画一个 85°的角,并标出角的各部分名称。(2 分)

24. 分别画出平行四边形和梯形的一条高,并标出相应的底。(4 分)

25. 龙一鸣在游泳池游泳,现在他在 A 点处想尽快游上岸,你能帮他设计一条游上岸的最近的路线吗?请在下图中画出来。(2 分)

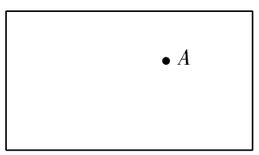

六、统计。(请将答案写在答题卡相应的位置)(共 8 分)

26. 胜利小学四年级举行"心里话最愿跟谁说"的调查活动,调查结果如下表。

类别	同学	父母	老师	其他
人数	50	49	31	36

胜利小学四年级"心里话最愿跟谁说"

调查活动结果统计图

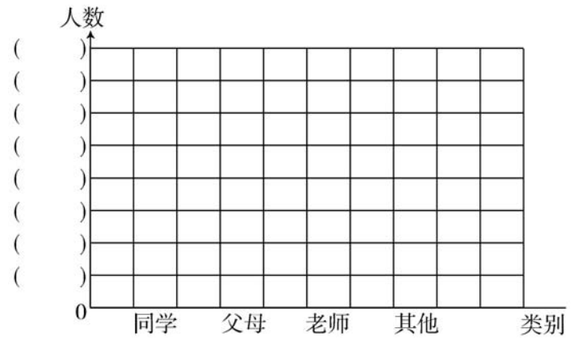

(1)根据表中数据完成上面的条形图。(4 分)

(2)共有(　　)人参与调查,同学们最喜欢跟(　　)说心里话。(2 分)

(3)根据统计情况提出问题并解答。(2 分)

七、解决问题。(请将答案写在答题卡相应的位置)(共 22 分)

27. 6 箱蜜蜂一年可以酿 450 千克蜂蜜,张叔叔家养了这样的蜜蜂 14 箱,一年可以酿多少千克蜂蜜?(4 分)

28. 李老师带 1000 元钱去商场买篮球,买了 15 个,还剩 40 元钱,每个篮球多少元?(4 分)

29. 王叔叔 12 分钟打字 960 个,李阿姨 18 分钟打字 1170 个。

(1)王叔叔和李阿姨谁打字速度快?(2 分)

(2)一篇 2000 个字的文章,谁能在半小时内打完?(2 分)

30. 早上,小明坐妈妈的电动车以 450 米/分的速度去上学,20 分钟可以到达学校。放学时爸爸开车接他回家,汽车的速度是多少?(5 分)

31. 某超市正在举行"迎春节,大促销"活动。

请问 100 元最多能买到这样的棉袜多少双?(5 分)

密

封

线

期末调考模拟测试卷（一）

建议时间:90 分钟　满分:100 分

学校:_____　班级:_____　姓名:_____

注意事项:

1. 答题前,考生先将自己的学校、班级、姓名、准考证号填写清楚,并认真核对。
2. 选择题、判断题必须用 2B 铅笔填涂,如需修改,请用橡皮擦干净;其他题必须用 0.5 mm 黑色签字笔作答,不得用铅笔或圆珠笔答题;字体工整、笔迹清晰。
3. 请按照题号顺序在各题目的答题区域内作答,超出区域书写的答案无效;在草稿纸、试题卷上答题无效。
4. 保持卡面清洁,不要折叠、弄皱、弄破;不准使用涂改液、修正带、刮纸刀。

准考证号:

_____

填涂样例

正确填涂:■

错误填涂:√ × ○ ● 等

一、选择。(每题 1 分,共 5 分)

1. A B C D　2. A B C D　3. A B C D　4. A B C D　5. A B C D

二、判断。(每题 1 分,共 5 分)

6. √ ×　7. √ ×　8. √ ×　9. √ ×　10. √ ×

三、填空。(每空 1 分,共 27 分)

11. (_____)　(_____)　(_____)　(_____)

12. (_____)　(_____)

13. (_____)　(_____)　(_____)

14. (_____)　(_____)

15. (_____)

16. (_____)　(_____)　(_____)　(_____)

17. (_____)　(_____)　(_____)　(_____)　(_____)

18. (_____)　(_____)　19. (_____)

20. (_____)　(_____)　(_____)

四、计算。(共 25 分)

21. 直接写出得数。(每题 0.5 分,共 15 分)

(1)_____　(2)_____　(3)_____　(4)_____　(5)_____　(6)_____

(7)_____　(8)_____　(9)_____　(10)_____　(11)_____　(12)_____

(13)_____　(14)_____　(15)_____　(16)_____　(17)_____　(18)_____

(19)_____　(20)_____　(21)_____　(22)_____　(23)_____　(24)_____

(25)_____　(26)_____　(27)_____　(28)_____　(29)_____　(30)_____

22. 用竖式计算下面各题。(带△号的要验算)(每题 2 分,验算 1 分,共 10 分)

(1) 125 × 580 =　　(2) 25800 ÷ 430 =

(3) △902 ÷ 23 =　　(4) △206 × 38 =

验算　　验算

五、操作题。(共 8 分)

23. (2 分)

24. (4 分)

25. (2 分)

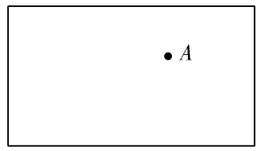

六、统计。（共 8 分）

26.（1）（4 分）

胜利小学四年级“心里话最愿跟谁说”

调查活动结果统计图

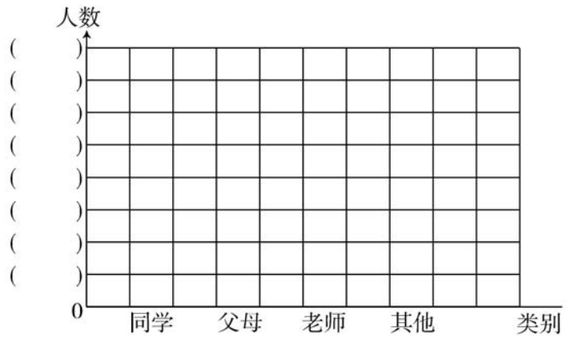

（2）（2 分）（　　）　（　　）

（3）（2 分）

七、解决问题。（共 22 分）

27.（4 分）

28.（4 分）

29.（1）（2 分）

（2）（2 分）

30.（5 分）

31.（5 分）

学校

班级

考号

姓名

密　封　线

期末调考模拟测试卷（二）

建议时间：90 分钟　满分：100 分

注意事项：1. 选择题、判断题用 2B 铅笔填涂。未按要求涂的不能得分。

2. 所有答案必须写在答题卡的指定位置。答在本卷或其他位置不能得分。

一、选择。（请将答题卡上正确答案所对应字母的方框涂黑）（每题 1 分，共 5 分）

1. 下列数中，与图中所表示的数最接近的是（　　）。

A. 1008300　　B. 85300　　C. 783000　　D. 853000

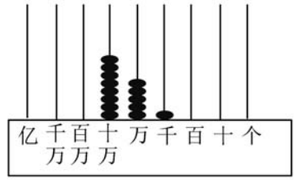

2. 如图，A 点表示的数可能是（　　）。

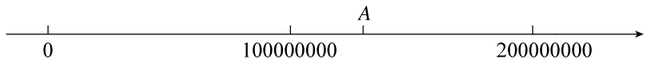

A. 90000000　　B. 130000000

C. 150000000　　D. 160000000

3. 一个四边形的两组对边分别平行，这个四边形不可能是（　　）。

A. 梯形　　B. 长方形

C. 正方形　　D. 平行四边形

4. $92 \div 3 = 30 \cdots\cdots 2$，如果被除数和除数同时扩大到原来的 10 倍，那么余数是（　　）。

A. 2　　B. 20　　C. 200　　D. 2000

5. 一个长方形的宽是 7 米，面积是 105 平方米，如果要使面积扩大到 210 平方米，长不变，宽应是（　　）米。

A. 7　　B. 15　　C. 14　　D. 21

二、判断。（说法正确的在答题卡上将符号“√”方框涂黑，说法错误的在答题卡上将符号“×”方框涂黑）（每题 1 分，共 5 分）

6. 两条平行线长都是 8cm。（　　）

7. 两个数的商是 6，如果被除数不变，除数乘 5，商就变成 30。（　　）

8. 200 个 50 平方米的教室面积是 1 公顷。（　　）

9. “田忌赛马”这个故事中只要齐王的上等马不对阵田忌的下等马，齐王就一定能获胜。（　　）

10. 在数位顺序表中，两个计数单位之间的进率都是 10。（　　）

三、填空。（将正确答案写在答题卡的相应位置）（每空 1 分，共 23 分）

11. 目前，我国林地面积约为二亿三千零七十二万公顷，横线上的数写作（　　），改写成以“万”为单位的数是（　　）万，省略亿位后面的尾数约是（　　）亿。

12. 6809000760 是一个（　　）位数，最高位是（　　）位，9 在（　　）位上，表示 9 个（　　）。

13. 一个乘法算式的积是 60，一个因数乘 12，另一个因数不变，积是（　　）。

14. 在 ◯ 里填“>”“<”或“=”。

1 周角 ◯ 4 直角　　102367000 ◯ 12367000

299×19 ◯ 301×21　　$2400 \div 100$ ◯ $600 \div 25$

15. 右图中，$a \parallel b$，有（　　）个平行四边形，有（　　）个梯形。

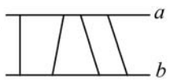

16. $1400 \div 1$ □（□ 表示一个数字），若商是三位数，□ 最大是（　　），若商是两位数，□ 最小是（　　）。

17. 烙熟一张饼要 4 分钟，每次最多烙两张，每面要 2 分钟，如果要烙熟 10 张饼，最少要（　　）分钟，12 分钟最多能烙熟（　　）张饼。

18. 999 □ 988 ≈ 1000 万，□ 里最小填（　　）；

$215 \times$ □ 3 的积是四位数，□ 里最大填（　　）。

19. 下面是用一副三角尺拼成的角，算出拼成的角的度数。

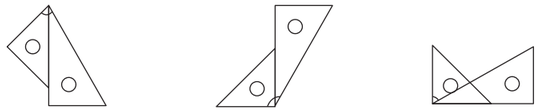

（　　）　（　　）　（　　）

四、计算。（请将答案写在答题卡的相应位置）（共 26 分）

20. 直接写出得数。（每题 0.5 分，共 15 分）

(1) $420 \div 70 =$	(2) $80 \div 40 =$	(3) $640 \div 80 =$
(4) $20 \times 30 =$	(5) $17 \times 30 =$	(6) $14 \times 40 =$
(7) $0 \times 1203 =$	(8) $3600 \div 60 =$	(9) $20 \times 42 =$
(10) $1000 \div 50 =$	(11) $2400 \div 60 =$	(12) $18 \times 40 =$
(13) $125 \times 20 =$	(14) $380 \div 20 =$	(15) $200 \div 100 =$
(16) $320 - 150 =$	(17) $60 + 400 =$	(18) $52 + 508 =$
(19) $0 \div 127 =$	(20) $145 \div 145 =$	(21) $450 \div 90 =$
(22) $5600 \div 8 =$	(23) $10 \times 397 =$	(24) $300 \div 5 =$
(25) $80 \times 90 =$	(26) $538 \div 63 \approx$	(27) $404 \times 23 \approx$
(28) $59 \times 202 \approx$	(29) $642 \div 81 \approx$	(30) $7280 \div 80 \approx$

21. 用竖式计算下面各题。（带△号的要验算）（每题 2 分，验算 1 分，共 11 分）

(1) $56 \times 209 =$

(2) $420 \times 65 =$

(3) △$5720 \div 26 =$

验算

(4)924 ÷ 38 =

(5)3910 ÷ 170 =

五、操作题。(请将答案写在答题卡的相应位置)(共 7 分)

22. 以点 A 为顶点画一个比平角小 45°的角。(1 分)

23. 在下面一组平行线上画了一个平行四边形。(6 分)

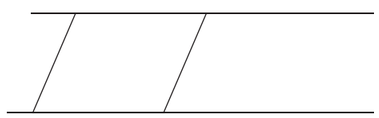

(1)在上面的平行四边形中画出一条高。

(2)在平行四边形的右边画一个和它高相等的梯形(把梯形的四边描出来)。

(3)在梯形里面画一条线段,把它分成一个平行四边形和一个三角形。

六、统计。(请将答案写在答题卡的相应位置)(共 12 分)

24. 下面是四(1)班同学调查同学们最喜欢吃的水果的情况。

第一组:

水果	苹果	香蕉	西瓜	梨
人数	6	1	3	2

全班:

水果	苹果	香蕉	西瓜	梨
人数	16	4	18	10

(1)把统计的结果分别在下面用条形图表示出来。(8 分)

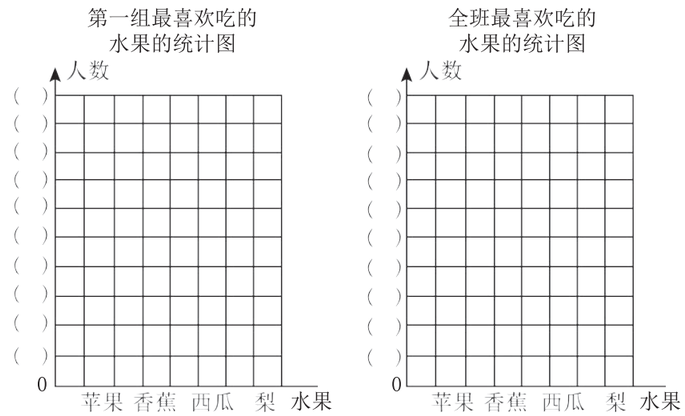

(2)表示第一组的条形图每格代表(　　)人,表示全班的条形图每格代表(　　)人。(2 分)

(3)全班最喜欢吃(　　)的人数最多,最喜欢吃(　　)的人数最少。(2 分)

七、解决问题。(请将答案写在答题卡相应的位置)(共 22 分)

25. 育英小学 8 位老师带领 109 名学生去参观科技馆,现有 2000 元钱,买票够不够?(4 分)

售票处
成人:每人 25 元
学生:每人 15 元

26. 王老师带 4000 元去购买体育用品,买了一些网球拍后还剩 1680 元。

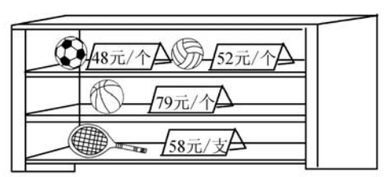

(1)王老师买了多少支网球拍?(3 分)

(2)剩下的钱如果都买篮球,估计一下,最多能买(　　)个篮球。(2 分)

(3)如果王老师想用剩下的钱买足球、排球各 20 个,剩下的钱够吗?(列式解答)(3 分)

27. 四(2)班同学收集塑料瓶,12 个组共收集了 936 个,每组有 6 个人,平均每人收集了多少个塑料瓶?(4 分)

28.

每箱 120 元　　3 盒 20 元　　1 盒 7 元

上面是同一种牙膏的价钱,一家公司要买 45 盒这种牙膏,怎样买最省钱?买 50 盒呢?(6 分)

全国真题试卷

密 封 线

期末调考模拟测试卷（二）

建议时间：90 分钟　满分：100 分

学校：_____　班级：_____　姓名：_____

注意事项：

1. 答题前，考生先将自己的学校、班级、姓名、准考证号填写清楚，并认真核对。
2. 选择题、判断题必须用 2B 铅笔填涂，如需修改，请用橡皮擦干净；其他题必须用 0.5 mm 黑色签字笔作答，不得用铅笔或圆珠笔答题；字体工整、笔迹清晰。
3. 请按照题号顺序在各题目的答题区域内作答，超出区域书写的答案无效；在草稿纸、试题卷上答题无效。
4. 保持卡面清洁，不要折叠、弄皱、弄破；不准使用涂改液、修正带、刮纸刀。

准考证号：

_____

填涂样例

正确填涂：■

错误填涂：√ × ○ ● 等

一、选择。（每题 1 分，共 5 分）

1. A B C D　2. A B C D　3. A B C D　4. A B C D　5. A B C D

二、判断。（每题 1 分，共 5 分）

6. √ ×　7. √ ×　8. √ ×　9. √ ×　10. √ ×

三、填空。（每空 1 分，共 23 分）

11. (_____)　(_____)　(_____)

12. (_____)　(_____)　(_____)　(_____)

13. (_____)

14. (_____)　(_____)　(_____)　(_____)

15. (_____)　(_____)　16. (_____)　(_____)

17. (_____)　(_____)　18. (_____)　(_____)

19. (_____)　(_____)　(_____)

四、计算。（共 26 分）

20. 直接写出得数。（每题 0.5 分，共 15 分）

(1)_____　(2)_____　(3)_____　(4)_____　(5)_____　(6)_____

(7)_____　(8)_____　(9)_____　(10)_____　(11)_____　(12)_____

(13)_____　(14)_____　(15)_____　(16)_____　(17)_____　(18)_____

(19)_____　(20)_____　(21)_____　(22)_____　(23)_____　(24)_____

(25)_____　(26)_____　(27)_____　(28)_____　(29)_____　(30)_____

21. 用竖式计算下面各题。（带△号的要验算）（每题 2 分，验算 1 分，共 11 分）

(1) 56 × 209 =

(2) 420 × 65 =

(3) △5720 ÷ 26 =

(4) 924 ÷ 38 =

验算

(5) 3910 ÷ 170 =

五、操作题。（共 7 分）

22. (1 分)

A

23.（6 分）

六、统计。（共 12 分）

24.（1）（8 分）

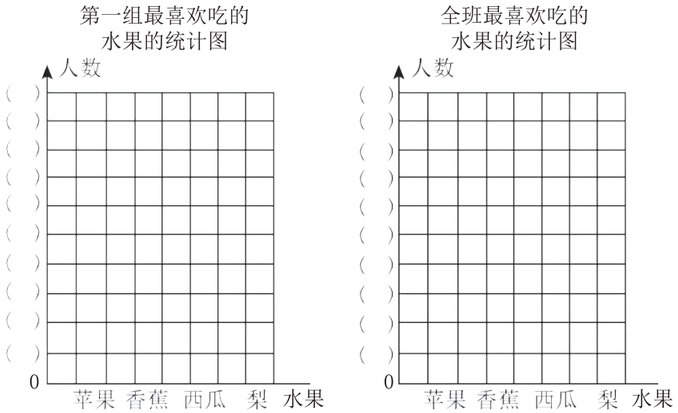

（2）（2 分）（_____） （_____）　（3）（2 分）（_____） （_____）

七、解决问题。（共 22 分）

25.（4 分）

26.（1）（3 分）

（2）（2 分）

（_____）

（3）（3 分）

27.（4 分）

28.（6 分）